Luas daerah BANGUN DATAR

Matematika



Untuk kelas 5

Nama : _____

No : _____

Kelas : _____

LIVEWORKSHEETS

Tujuan pembelajaran :

Setelah mempelajari bab ini, diharapkan kalian mampu menemukan cara menghitung luas berbagai daerah bangun datar dan mengetahui kapan harus menggunakannya.

Petunjuk pengerjaan :

- Berdoalah sebelum mengerjakan LKPD
- Isilah identitas kalian pada kolom yang tersedia
- Baca soal LKPD dengan teliti
- Jawab LKPD pada kolom yang tersedia
- Tantakan apabila ada kendala kepada guru
- kumpulkan hasil LKPD kepada guru!

LIVEWORKSHEETS

LUAS BANGUN DATAR

Hitunglah luas bangun datar dibawah dengan benar!



Luas : .....
.....
.....
.....

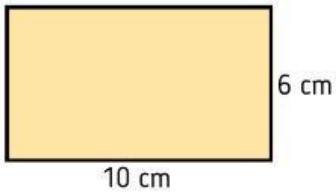

Luas : .....
.....
.....
.....

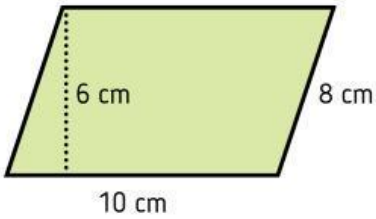

Luas : .....
.....
.....
.....

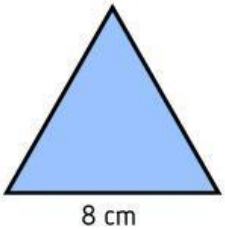

Luas : .....
.....
.....
.....

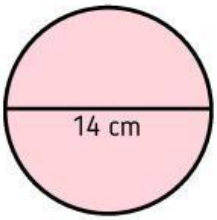

Luas : .....
.....
.....
.....

LIVEWORKSHEETS

Luas Bangun Datar

Bacalah soal cerita di bawah ini dengan teliti,
lalu jawab pada kolom yang sudah disediakan!

1. Pak Joko punya sawah berbentuk persegi dengan panjang sisi 40 meter. Berapa luas sawah Pak Joko?

Jawaban:

2. Pak Tono menanam tomat di kebun berbentuk persegi. Panjang sisinya 50 meter. Berapa luas sawah Pak Tono?

Jawaban:

LIVEWORKSHEETS