LKPD

Keliling bangun datar

Untuk kelas

5



Nama :

No :

Kelas :

LIVEWORKSHEETS

Tujuan Pembelajaran

Setelah mempelajari bab ini, diharapkan kalian mampu mengetahui kapan kalian harus menggunakan keliling bangun datar. Selanjutnya, kalian diharapkan mampu menemukan cara menghitung keliling berbagai bangun datar.

Petunjuk pengerjaan

- Silahkan isi identitas pada kolom yang telah tersedia!
- Jawablah persoalan pada Lembar soal LKPD dengan teliti
- Tanyakan pada guru jika terdapat hal yang membingungkan
- Periksa hasil sebelum dikumpulkan
- Kumpulkan LKPD kepada guru

LIVEWORKSHEETS

Keliling Bangun Datar

Hitunglah Keliling bangun datar dibawah ini dengan benar!



6 cm

Keliling : _____

_____

_____

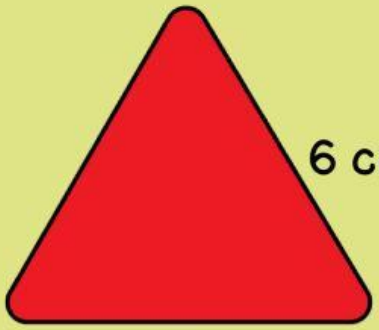

10 cm

Keliling : _____

_____

_____

8 cm

10 cm

Keliling : _____

_____

_____

8 cm

Keliling : _____

_____

_____

LIVEWORKSHEETS

Keliling Bangun Datar

Hitunglah Keliling bangun datar dibawah ini dengan benar!

Sebuah kebun lobak dan wortel berbentuk persegi memiliki sisi sepanjang 9 meter. Hitunglah keliling kebun tersebut!

LIVEWORKSHEETS