ชื่อ-สกุล .....ชั้น ม.2/..... เลขที่.....

แบบทดสอบเก็บคะแนน

เรื่อง ความเท่ากันทุกประการ

1. กำหนดให้ $\Delta EOC \cong \Delta DOC$ จงเลือกจับคู่ด้านคู่ และมุมคู่ที่สมนัยกันให้ถูกต้อง

$D\hat{O}C$ | $C\hat{D}O$ | $O\hat{C}D$ | $\overline{OD}$ | $\overline{DC}$ | $\overline{CO}$

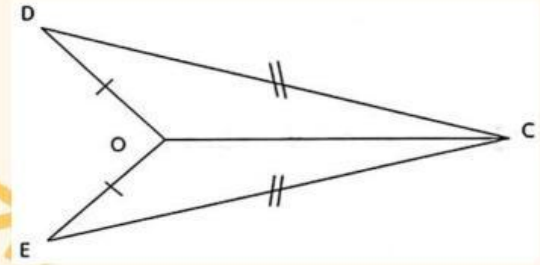

$C\hat{E}O$ = ... $\overline{EC}$ = ...

$E\hat{O}C$ = ... $\overline{OE}$ = ...

$O\hat{C}E$ = ... $\overline{CO}$ = ...

2. จากรูปที่กำหนดให้ต่อไปนี้ จงเลือกจับคู่ข้อความกับรูปสามเหลี่ยมสองรูปให้ถูกต้อง

ด้าน - มุม – ด้าน | มุม - ด้าน – มุม | ด้าน - ด้าน – ด้าน

มุม - มุม – ด้าน | ฉาก - ด้าน - ด้าน

1)

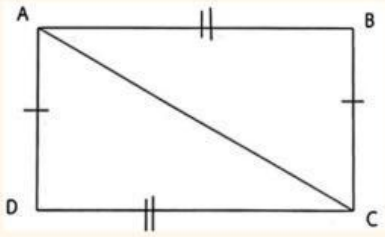

รูปสามเหลี่ยมสองรูปสัมพันธ์กันแบบ.....

2)

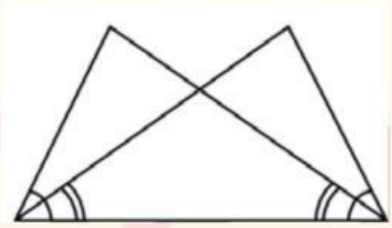

รูปสามเหลี่ยมสองรูปสัมพันธ์กันแบบ.....

3)

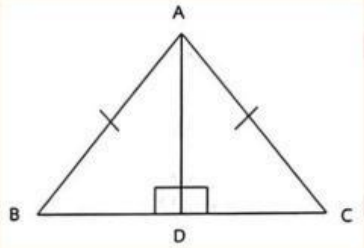

รูปสามเหลี่ยมสองรูปสัมพันธ์กันแบบ.....

4)

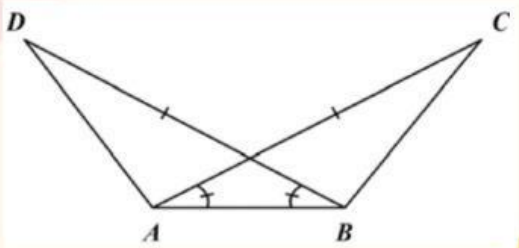

รูปสามเหลี่ยมสองรูปสัมพันธ์กันแบบ.....

5)

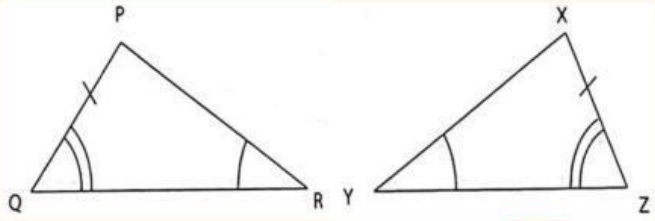

รูปสามเหลี่ยมสองรูปสัมพันธ์กันแบบ.....

LIVEWORKSHEETS