BILANGAN BULAT

Pendidikan Matematika SD I

Disusun oleh Kelompok 3

LKPD MTK

LIVEWORKSHEETS

Kelompok 3

YO Nurul Khotimah 2227240023

HO Lulu Luthfiyah 2227240034

HO Siti Ida Latifah 2227240038

LIVEWORKSHEETS

Isi Identitasmu!

YO

Nama:

HO

Kelas:

HO

Ayo kita mulai!

LIVEWORKSHEETS

START

Klik yang menurut kamu bilangan bulat positif (jika soft file) Lalu kelompokkan bilangan-bilamgan dibawah ini kedalam bilang bulat positif dan negatif?

-3 9 10 3

-18 7 -1

2 -9 6 1

5 -8 20

Positif

Negatif

LIVEWORKSHEETS

PENJUMLAHAN BILANGAN BULAT

Nama:

Kelas:

Tentukan bilangan bulat yang tepat pada operasi penjumlahan sesuai dengan arah panah dan garis bilangan seperti contoh berikut!

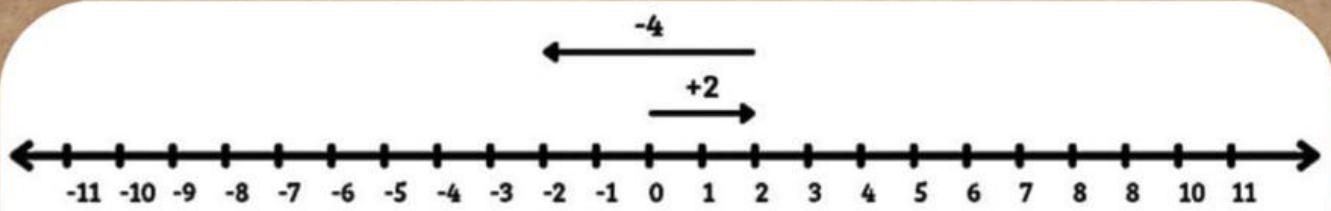

2 + -4 = -2

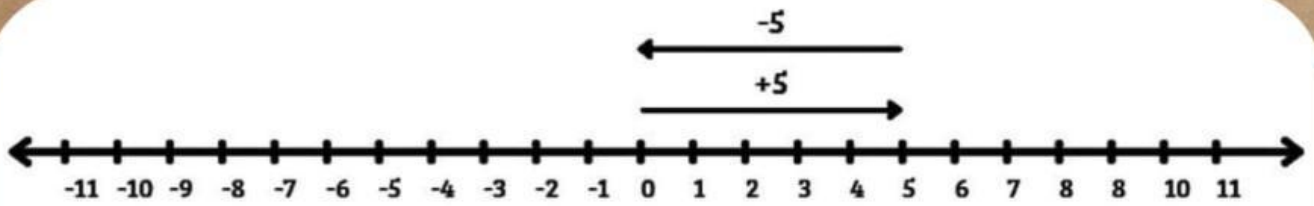

☐ + ☐ = ☐

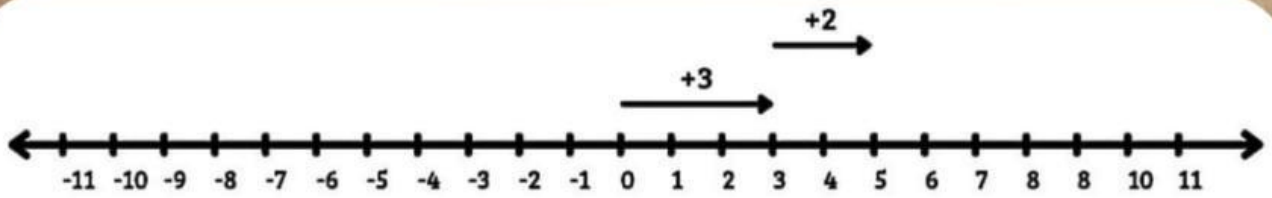

☐ + ☐ = ☐

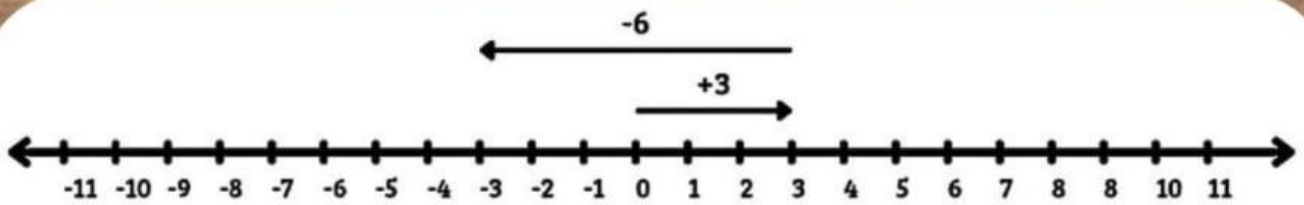

☐ + ☐ = ☐

Selamat Mengerjakan!

LIVEWORKSHEETS

PENGURANGAN BILANGAN BULAT

NAMA : KELAS :

Baca soal cerita berikut. Hitung hasilnya menggunakan garis bilangan!

Ibu memiliki 7apel. Ia menjual 5 apel. Berapa sisa apel yang Ibu miliki?

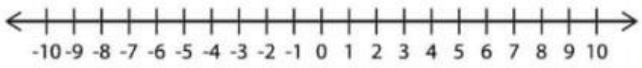

Budi berjanji akan memberikan 8 kelereng kepada adiknya. Saat ini, Budi baru memiliki 5 kelereng. Berapa "utang" kelereng Budi kepada adiknya?

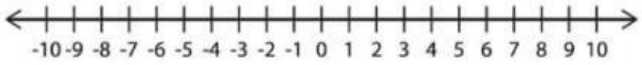

Dalam kotak ada 64 pensil. 28 pensil dipakai. Berapa sisa pensil tersebut?



Dena ingin membuat 10 potong roti bakar. Tetapi, ia hanya punya 4 potong roti di dapur. Berapa kekurangan roti yang harus Dena beli?

LIVEWORKSHEETS

PEMBAGIAN BILANGAN BULAT

Nama:

Kelas:

Jawablah pertanyaan di bawah ini menggunakan operasi pembagian bilangan bulat dengan tepat!

Sebuah toko memiliki 20 kue kering dan ingin mengemasnya kedalam kantong dengan masing-masing kantong berisi 5 kue kering. Berapa banyak kantong yang dibutuhkan?

Sebuah kapal selam turun sejauh 60 meter dalam 12 menit dengan kecepatan yang konstan berapa meter kapal selam itu turun per menit ?

Seekor kura-kura bergerak mundur sejauh 15 meter dalam 3 langkah yang sama. Berapa meter jarak perlangkahnya?

LIVEWORKSHEETS

Cocokan Aku !

Jodohkanlah hasil perkalian bilangan bulat di bawah ini dengan jawaban yang benar !

Nama: **Kelas:**

7×9	-75
$9 \times (-2)$	-100
-5×15	63
$-7 \times (-8)$	-18
-20×5	56

LIVEWORKSHEETS

Nama: Kelas:

LKPD BILANGAN BULAT

A. MENULIS BILANGAN BULAT

Tuliskan simbol bilangan bulat dari penyataan berikut!

1. **Suhu 5°C diatas 0 =**
2. **Suhu 11°C dibawah 0 =**

B. GARIS BILANGAN BULAT

Lengkapi garis bilangan dengan menuliskan bilangan yang benar!

1.

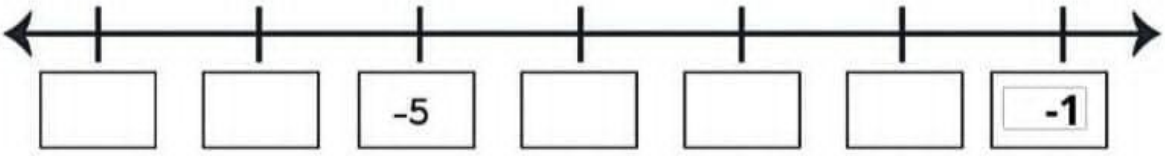

2.

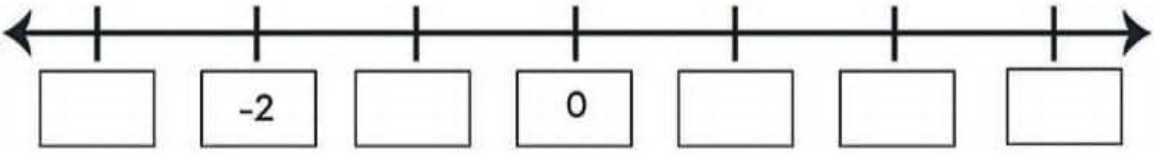

3.

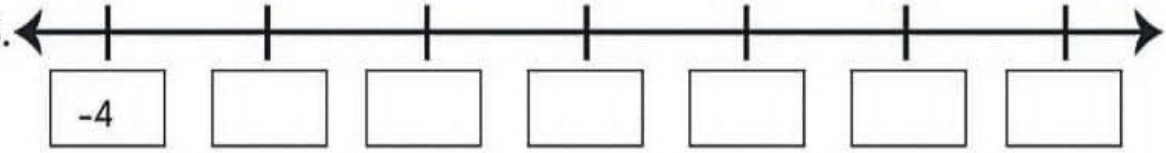

C. MEMBANDINGKANBILANGAN BULAT

Berikan tanda < atau > pada kotak sehingga menjadi pernyataan yang benar!

1. **13** ◯ **10**
2. **-36** ◯ **-38**
3. **9** ◯ **-9**
4. **-103** ◯ **-105**

LIVEWORKSHEETS

SELAMAT!

Hebat!

Kamu telah menyelesaikan seluruh tantangan hingga kamu sampai pada tujuan akhirmu yaitu memahami dan menyelesaikan semua jenis operasi hitung bilangan bulat secara menyeluruh.

(◜‿◝)♡

LIVEWORKSHEETS