LEMBAR KERJA PESERTA DIDIK (LKPD)

MENGENAL SUDUT

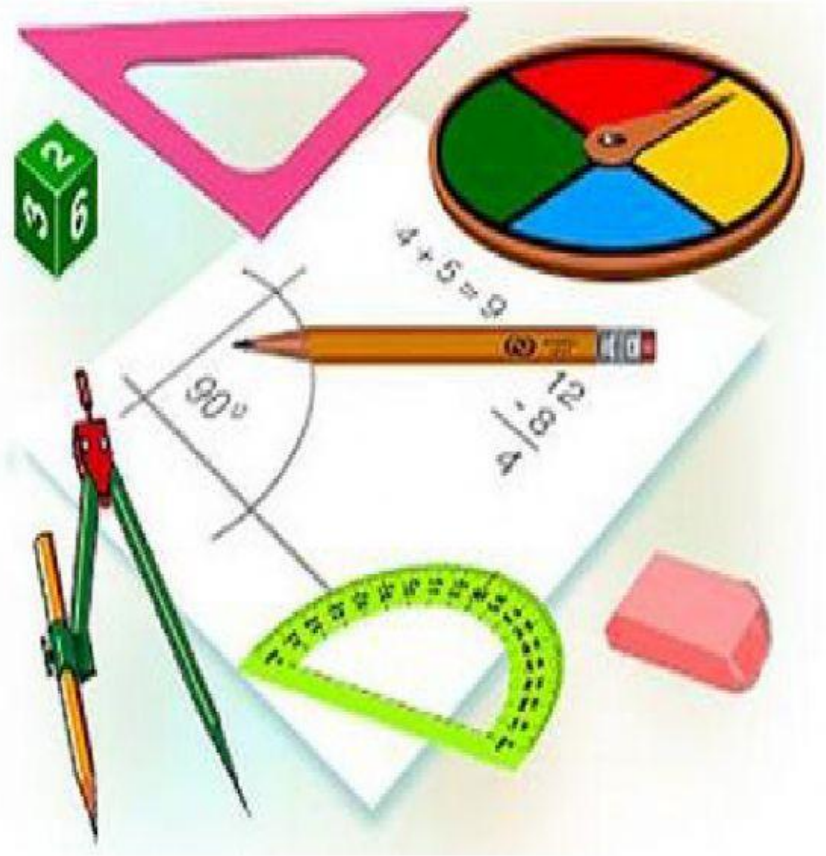

NAMA :

KELAS:

- SMP NEGERI 5 TOBADAK -

LIVEWORKSHEETS

A. SIMAKLAH VIDEO BERIKUT!



B. DENGARKAN MP3 BERIKUT!

Setelah menyimak video diatas, kerjakan soal berikut ini!

Drop and Down

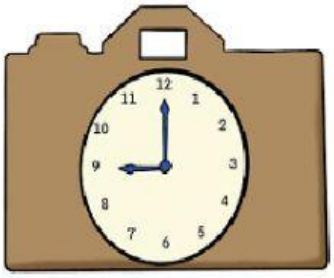

1. Perhatikan gambar disamping! Besar sudut yang dibentuk oleh jarum jam dan jarum menit ketika menunjukkan pukul 09.00 adalah...

LIVEWORKSHEETS

2. Sudut didefinisikan sebagai...

Pilihan Ganda

A dua sinar garis yang berpotongan

B dua sinar garis yang bersekutu pada pangkalnya

C dua garis yang berpotongan

D dua garis berimpit

3. Manakah yang merupakan sudut lancip!

Check List

- 35°
- 90°
- 55°

4. Pasangkan/jodohkan jenis-jenis sudut dibawah ini berdasarkan ukurannya.

Sudut refleks	**Sudut antar 0° dan 90°**
Sudut tumpul	**Sudut antara 90° dan 180°**
Sudut lancip	**Sudut antara 180° dan 360°**

5. Dengan memperhatikan gambarnya,tarik pilihan jawaban jenis-jenis sudut dibawah ini yang sesuai dengan gambar!

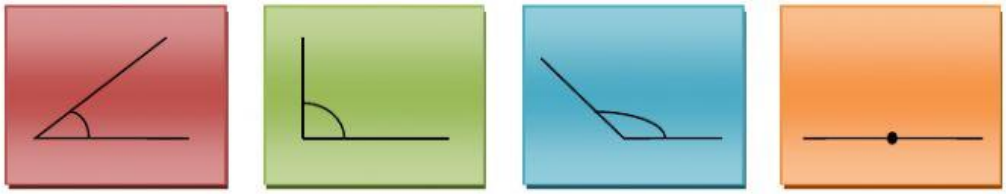

_____	_____	_____	_____
Sudut siku-siku	**Sudut lurus**	**Sudut lancip**	**Sudut tumpul**

Drag and Drop

LIVEWORKSHEETS

LIVEWORKSHEETS