מציאת כמות משלם ויזואלי

פתרו את התרגילים הבאים:

1. כמה זה $\frac{1}{4}$ מ-16?

2. כמה זה $\frac{2}{5}$ מ-35?



3. כמה זה $\frac{1}{2}$ מ-24?

© כל הזכויות שמורות לניב רווח בע"מ.
אין לעשות שימוש בעמוד זה אלא אם אמצעי ואין ללמד עמוד זה או חלק ממנו בשום מקום ובשום צורה ללא קבלת אישור בכתב מאת ניב רווח בע"מ.
LIVEWORKSHEETS

תשובות

1. $16 \times \frac{1}{4} = 4$



2. $35 \times \frac{2}{5} = 14$

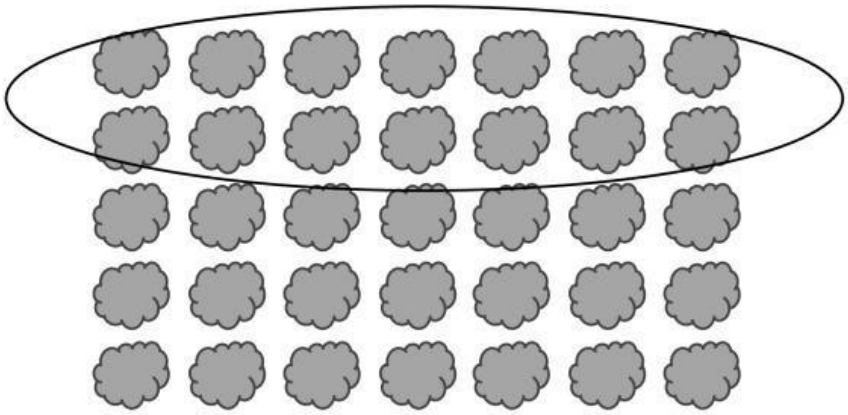

3. $24 \times \frac{1}{2} = 12$

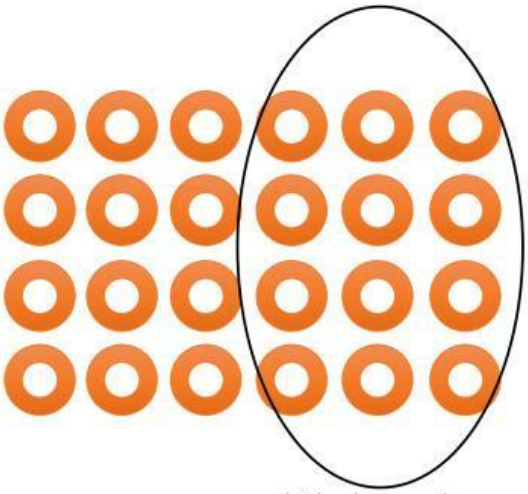

© כל הזכויות שמורות לניב רווח בע"מ.
אין לעשות שימוש בעמוד זה אמצעי ואין ללמד עמוד זה או חלק ממנו בשום מקום ובשום צורה ללא קבלת אישור בכתב מאת ניב רווח בע"מ.
LIVEWORKSHEETS