Кути, що утворюються при перетині двох паралельних прямих січною

1.

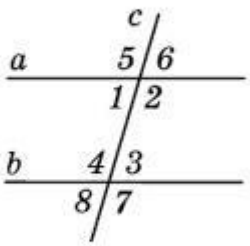

$a \parallel b$

$\angle 1$ і $\angle 3$;

$\angle 2$ і $\angle 4$ – _____

$\angle 1$ ☐ $\angle 3$; $\angle 2$ ☐ $\angle 4$

2.

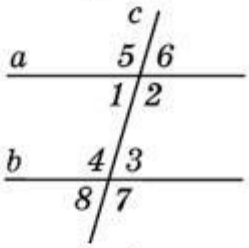

$a \parallel b$

$\angle 1$ і $\angle 4$;

$\angle 2$ і $\angle 3$ – _____

$\angle 1$ ☐ $\angle 3$ _____

$\angle 2$ ☐ $\angle 4$ _____

3.

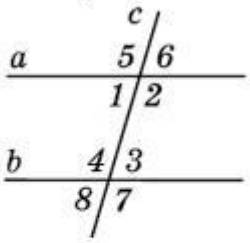

$a \parallel b$

$\angle 1$ і $\angle 8$; $\angle 5$ і $\angle 4$

$\angle 2$ і $\angle 7$; $\angle 6$ і $\angle 3$ – _____

$\angle 1$ ☐ $\angle 8$; $\angle 2$ ☐ $\angle 7$;

$\angle 5$ ☐ $\angle 4$; $\angle 6$ ☐ $\angle 3$.

4.

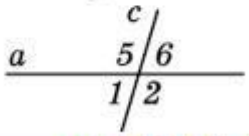

$\angle 1$ ☐ $\angle 6$;

$\angle 2$ ☐ $\angle 5$ – _____

$\angle 1$ ☐ $\angle 2$ _____

$\angle 5$ ☐ $\angle 6$ _____

LIVEWORKSHEETS