LKPD

Matematika
Pecahan Senilai

Nama: _____

Kelas : _____

4

Dosen Pengampu: Dr. Jayanti, M. Pd.

Disusun oleh : Tira Sapira (2023143572)

LIVEWORKSHEETS

LEMBAR KERJA PESERTA DIDIK

Capaian Pembelajaran

Peserta didik dapat membandingkan dan mengurutkan antar-pecahahan dengan pembilang satu (misalnya, 1/2 , 1/3 , 1/4) dan antar-pecahan dengan penyebut yang sama (misalnya, 2/8 , 4/8, 7/8). Mereka dapat mengenali pecahan senilai menggunakan gambar dan simbol matematika.

Tujuan pembelajaran

- Peserta didik dapat mengidentifikasi pecahan senilai dengan menggunakan gambar atau benda konkret (kertas lipat).
- Peserta didik dapat menentukan dua atau lebih pecahan yang senilai.
- Peserta didik dapat menjelaskan hubungan antara pembilang dan penyebut pada pecahan senilai.
- Peserta didik dapat mengaitkan konsep pecahan senilai dengan kehidupan sehari-hari.

Indikator Pembelajaran

- Mengamati dan menunjukkan pecahan senilai dari gambar.
- Menentukan pasangan atau kelompok pecahan yang senilai melalui perhitungan sederhana.
- Menjelaskan hubungan antara pembilang dan penyebut pada pecahan senilai secara lisan maupun tulisan.
- Memberikan contoh penerapan pecahan senilai dalam kehidupan sehari-hari (misalnya membagi kue atau minuman).

LIVEWORKSHEETS



Pecahan Senilai

Isilah titik-titik di bawah ini dengan bilangan pecahan sesuai daerah yang arsir atau diwarnai!

$= \frac{1}{2}$

$= \frac{2}{4}$

$\frac{1}{2} = \frac{2}{4}$

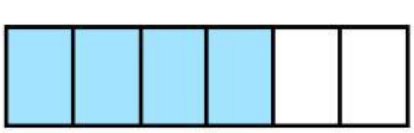

$= \frac{\square}{\square}$

$= \frac{\square}{\square}$

$\frac{\square}{\square} = \frac{\square}{\square}$

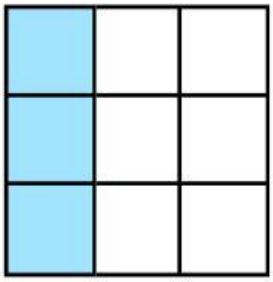

$= \frac{\square}{\square}$



$= \frac{\square}{\square}$

$\frac{\square}{\square} = \frac{\square}{\square}$

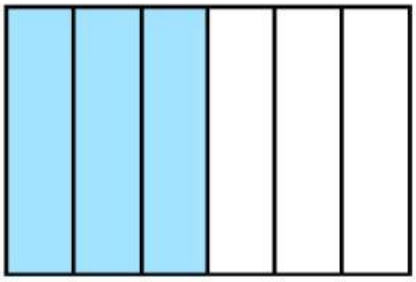

$= \frac{\square}{\square}$

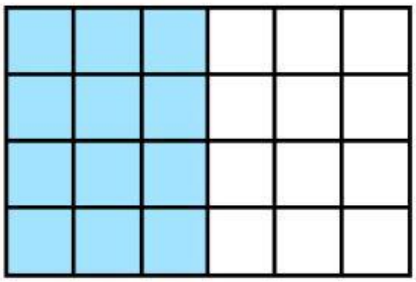

$= \frac{\square}{\square}$

$\frac{\square}{\square} = \frac{\square}{\square}$

LIVEWORKSHEETS

PECAHAN SENILAI

Isilah titik-titik di bawah ini dengan bilangan pecahan sesuai derah yang diarsir!

1

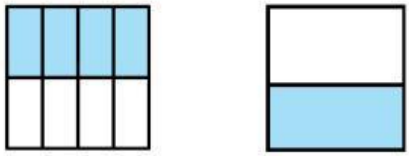

$\frac{\square}{\square} = \frac{\square}{\square}$

2

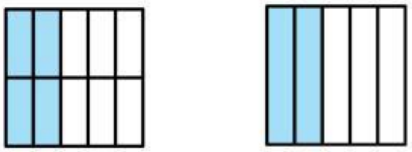

$\frac{\square}{\square} = \frac{\square}{\square}$

3

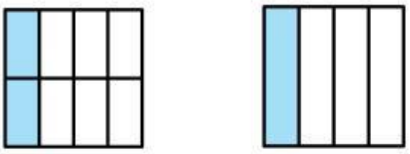

$\frac{\square}{\square} = \frac{\square}{\square}$

4

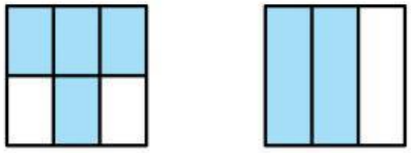

$\frac{\square}{\square} = \frac{\square}{\square}$

5

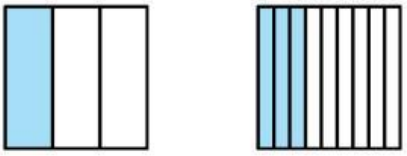

$\frac{\square}{\square} = \frac{\square}{\square}$

6

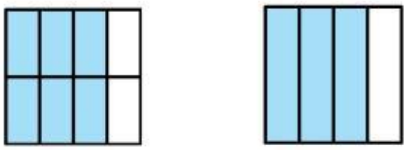

$\frac{\square}{\square} = \frac{\square}{\square}$

7

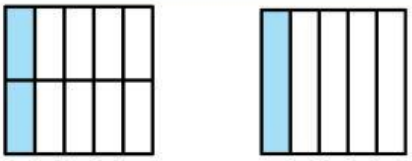

$\frac{\square}{\square} = \frac{\square}{\square}$

8

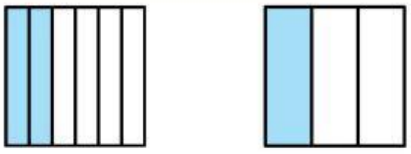

$\frac{\square}{\square} = \frac{\square}{\square}$

LIVEWORKSHEETS