LEMBAR KERJA PESERTA DIDIK

BANGUN RUANG SISI DATAR

Nama : _____

Kelas : _____

LIVEWORKSHEETS

Bangun Ruang! Sisi Datar

1 Perhatikan Video Berikut ini!

YouTube

2 Klik

3 TEKSFIELD

Bangun ruang yang memiliki 6 sisi, 12 rusuk, dan 8 titik sudut disebut...

4 SINGGLE CHOICE

Bangun ruang yang memiliki 5 sisi, 8 rusuk, dan 5 titik sudut disebut ...

5 CHECKBOXES

Manakah yang merupakan bangun ruang sisi datar

- [ ] KUBUS
- [ ] BOLA
- [ ] KERUCUT
- [ ] PRISMA
- [ ] LIMAS
- [ ] BALOK

6 SELECT

Yang merupakan bagian dari bangun ruang sisi datar adalah :

- [ ] TABUNG
- [ ] LIMAS
- [ ] PRISMA
- [ ] BOLA
- [ ] KUBUS

7 WORD SEARCH

Cari kata yang berkaitan dengan bangun suang sisi datar!

L	K	L	P	H	K	V	B
I	K	U	B	U	S	P	U
L	I	A	A	E	I	R	P
A	M	O	L	R	S	I	U
B	O	K	O	U	I	S	N
M	H	Q	K	C	N	M	C
Z	O	D	P	U	L	A	A
L	I	M	A	S	U	A	K

8 SPEAK

Sebutkan nama bangun ruang berukut ini dengan tepat

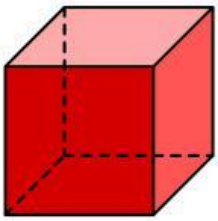

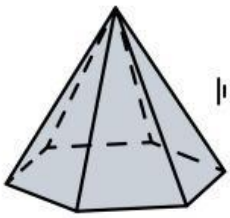

9 LISTENING

Dengarkan suara berikut dan tuliskan jawabannya

10 DANG AND DROP

Pindahkan bangun ruang disamping ke kotak yang telah disediakan dengan tepat!

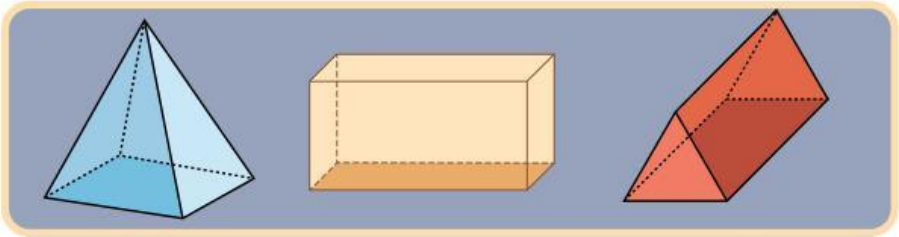

BALOK

PRISMA

LIMAS

11 JOIN AND ARROW

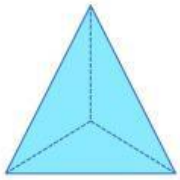



KUBUS

LIMAS SEGITIGA

PRISMA SEGITIGA