BANGUN DATAR DAN BANGUN RUANG

LATIHAN SOAL PILIHAN GANDA

NAMA : _____ KELAS : _____

PETUNJUK : Kerjakan soal dibawah dengan seksama!

Sebuah bola memiliki permukaan .....

a. Datar
b. Rata
c. Melengkung

Contoh benda berbentuk tabung adalah .....

a. Piring
b. Kaleng susu
c. Papan tulis

Benda manakah yang termasuk bangun ruang?

a. Lantai
b. Papan tulis
c. Bola

Bangun datar yang memiliki ciri-ciri 4 sisi, 2 sisi panjang, 2 sisi pendek .....

a. Persegi
b. segitiga
c. Persegi panjang

Bangun datar yang memiliki 4 sisi sama panjang dan 4 sudut siku-siku disebut .....

a. Segitiga
b. Persegi
c. Persegi panjang

LIVEWORKSHEETS

Nama : Kelas :

MENGENAL BANGUN RUANG

Tulislah nama bangun ruang di bawah ini dengan tepat!

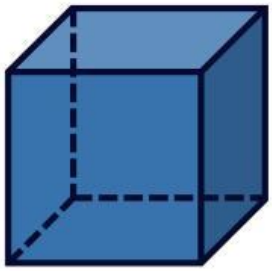

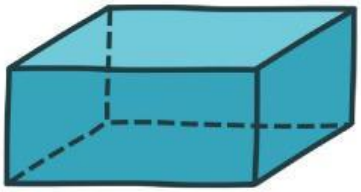

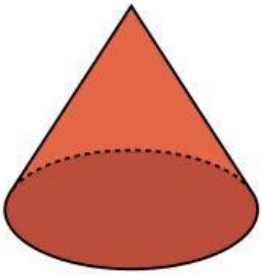

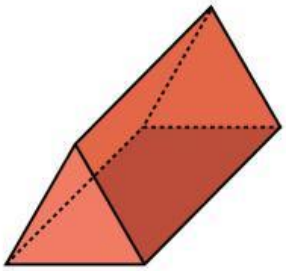

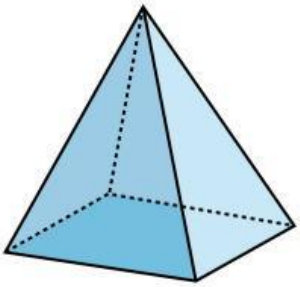



LIVEWORKSHEETS

MENGENAL BANGUN RUANG

Sebutkan nama bangun ruang di bawah ini dengan benar!

Semua sisinya persegi, contohnya dadu.

Sisinya berbentuk persegi panjang, contohnya buku.

Dengarkan Suara berikut dan tulis jawabannya di kotak yang sesuai!

Bulat panjang, contohnya kaleng.

Bulat sempurna, contohnya bola.

LIVEWORKSHEETS

MENGENAL BANGUN RUANG

Hubungkan garis antara gambar bangun ruang dengan benda nyata yang memiliki bentuk sama!

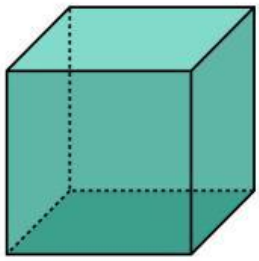

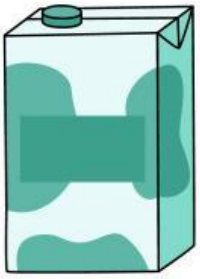

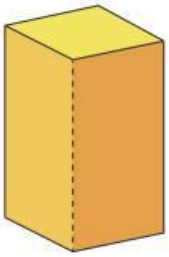

LIVEWORKSHEETS

Mengelompokkan Bangun Ruang

Drag dan Drop benda dibawah sesuai dengan bentuk bangun ruangnya

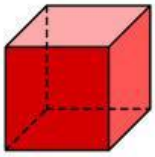

Kubus

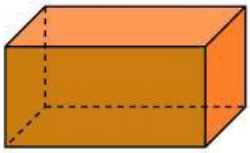

Balok

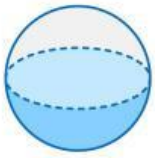

Bola

LIVEWORKSHEETS

Nama : Kelas :

BANGUN RUANG

Temukan kata yang termasuk dalam nama bangun ruang!

A	K	K	T	A	B	U	N	G	R	E	A	S
C	E	R	R	O	S	G	K	O	N	G	S	K
P	R	I	S	M	A	S	N	A	L	T	S	B
U	U	S	S	H	A	L	U	S	K	W	L	A
U	C	S	U	S	K	E	S	I	O	L	U	L
P	U	I	P	S	U	I	L	S	R	A	U	O
S	T	L	U	M	B	T	A	L	S	M	T	K
Y	W	C	B	E	U	N	W	Z	I	B	A	K
L	I	M	A	S	S	E	G	I	T	I	G	A
K	S	L	E	N	S	A	M	A	S	A	G	D
S	E	L	K	W	E	E	C	U	T	G	F	G
J	U	U	J	M	Y	Y	D	B	O	L	A	J
K	S	L	I	M	A	S	M	S	T	A	N	M

LIVEWORKSHEETS