# LKPD

## BANGUN RUANG SISI DATAR

**Perhatikan Video Berikut ini!**

1

YouTube

**Perhatikan Materi Presentasi berikut:**

2

PPT

3

LIVEWORKSHEETS

## 4 TEKSFIELD

Bangun ruang yang memiliki 6 sisi, 12 rusuk, dan 8 titik sudut disebut …

## 5 SINGGLE CHOICE

Bangun ruang yang memiliki 5 sisi, 8 rusuk, dan 5 titik sudut disebut …

## 6 CHECKBOXES

Yang merupakan bagian dari bangun ruang sisi datar adalah :

- [ ] KUBUS
- [ ] PRISMA
- [ ] KERUCUT
- [ ] LIMAS

## 7 SELECT

Yang merupakan bagian dari bangun ruang sisi Lengkung adalah :

- [ ] BOLA
- [ ] TABUNG
- [ ] LIMAS
- [ ] PRISMA

## 8 WORD SEARCH

CARI KATA YANG BERKAITAN DENGAN BANGUN RUANG

| | | | | | | | |
|---|---|---|---|---|---|---|---|
| L | K | L | P | H | K | V | B |
| I | K | U | B | U | S | P | A |
| M | G | H | L | K | J | R | L |
| G | B | H | I | S | S | I | O |
| S | V | D | M | G | H | S | K |
| A | D | A | A | B | A | M | I |
| K | F | D | S | U | T | A | R |
| E | W | A | V | E | R | A | C |

LIVEWORKSHEETS

## 9 SPEAK

sebutkan nama Bangun ruang berikut ini dengan tepat

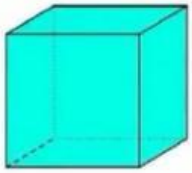

## 10 LISTENING

Dengarkan Suara berikut dan tuliskan jawabannya

## 11 Drag and Drop

Pindahkan Bangun ruang di samping ke Kotak yang telah disediakan dengan Tepat!



Prisma Segitiga

Limas Segiempat

Limas Segitiga

## 12 JOIN AND ARROW

Tarik garis untuk memasangkan bentuk bangun ruang dan nama bangun ruang dibawah ini!

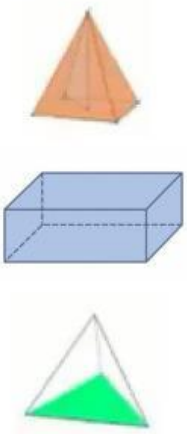

PRISMA SEGITIGA

LIMAS SEGITIGA

BALOK

LIMAS SEGIEMPAT

LIVEWORKSHEETS