LEMBAR KERJA PESERTA DIDIK

BANGUN RUANG SISI LENGKUNG

Kegiatan 1

Carilah kata yang berhubugan dengan bangun ruaang sisi lengkung!

K	B	I	G	B	W	R	E
S	R	E	R	O	E	T	V
S	C	T	S	L	F	G	D
J	E	H	I	A	G	H	G
W	R	U	S	U	K	J	H
Q	F	B	I	A	H	L	J
Y	D	V	W	Q	O	D	T

Kegiatan 2

Yang merupakan bangun ruang sisi lengkung adalah:

- ☐ **Tabung**
- ☐ **Kerucut**
- ☐ **Balok**
- ☐ **Bola**

LIVEWORKSHEETS

Kegiatan 3



Tabung **Kerucut** **Bola**

Kegiatan 4

Sebutkan nama bangun ruang berikut dengan benar!

Kegiatan 5

Tarik panah untuk memasangkan jari-jari dan bangun ruang di bawah ini!

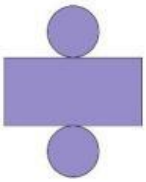



Kegiatan 6

Bangun ruang sisi lengkung yang rumus untuk mencari luasnya $\mathbf{s = \sqrt{(r^2 + t^2)}}$ adalah…

LIVEWORKSHEETS

Kegiatan 7

Sebuah tabung memiliki jari-jari 7 cm dan tinggi 10 cm.
Hitunglah volume tabung tersebut!

LIVEWORKSHEETS