Perhatikan gambar, bagian yang banyak mengandung oksigen adalah

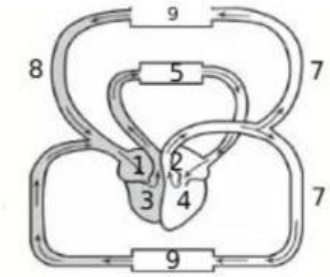

Jodohkan dengan tepat!

Fungsi
a. Kekebalan tubuh
b. Mengangkut zat makanan
c. Proses pembekuan darah
d. Mengangkut O_2

Beri nama masing-masing darah

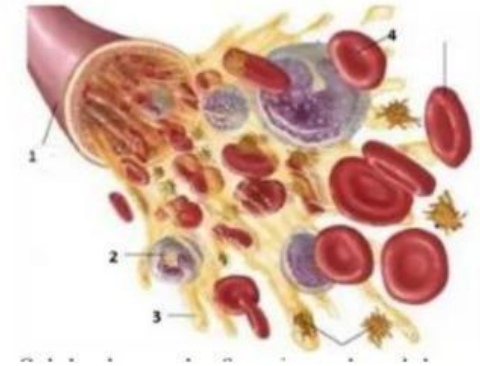

Berillah nama Sistem ekskresi di bawah ini

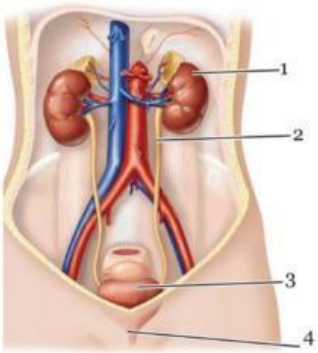

LIVEWORKSHEETS

Pernafasan

Perhatikan gambar

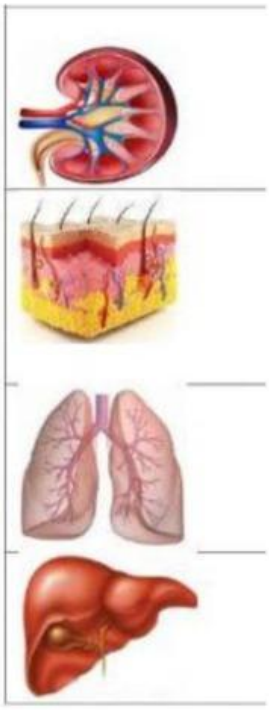

LIVEWORKSHEETS

Gambar 1. Anak Tersedak Minuman
Sumber : suara.com

Pada gambar tersebut, terlihat seorang anak yang kesakitan akibat tersedak. Berhubungan dengan sistem pernapasan, menurut kalian masalah apa yang teridentidfikasi dari gambar tersebut? Organ apa yang bersangkutan sehingga terjadinya tersedak?

LIVEWORKSHEETS