Nhiệm vụ 1: Thực hiện các yêu cầu sau

Complete the following requirements

a) Chọn cách tính thuận tiện hơn

Select the more convenient method of calculation

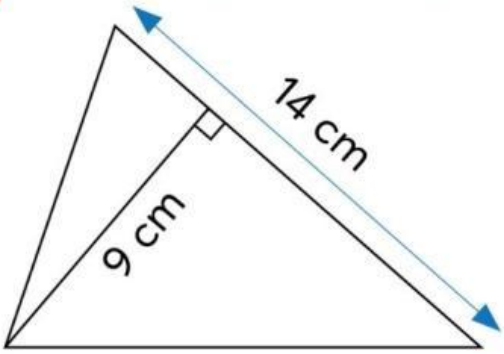

$$\frac{9 \times 14}{2} = \frac{126}{2} = 63cm^2$$

$$\frac{9 \times 14}{2} = \frac{9 \times \cancel{14}^{7}}{\cancel{2}^{1}} = 63cm^2$$

b) Tính diện tích của hình tam giác

Calculate the area of the triangle

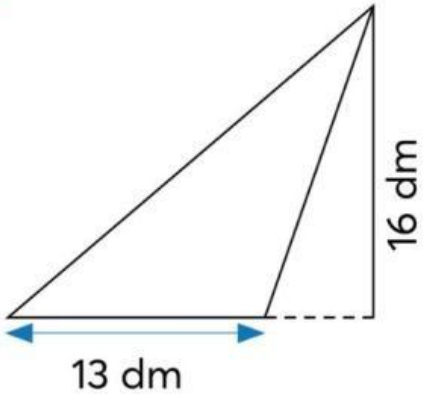

dm^2

c) Tính diện tích của hình tam giác

Calculate the area of the triangle

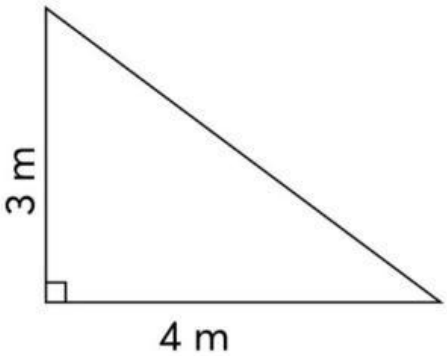

m^2

LIVEWORKSHEETS