Obvod čtverce a obdélníku – nns.cz

Vypočítej obvod čtverce nebo obdélníku.

a)
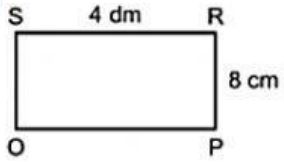

b)
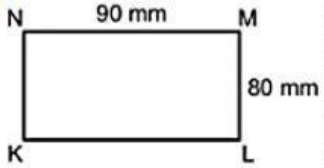

c)
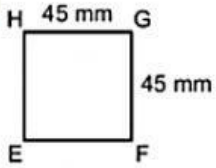

d)
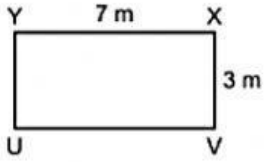

o = ……. cm **o = ……. cm** **o = ……. cm** **o = ……. cm**

Naše zahrada má obdélníkový tvar. Její kratší strana měří 15 m, delší strana je 3krát větší. Kolik metrů plotu potřebujeme na její oplocení?

o = 2 . (a + b)

o = 2 . (… + …)Potřebujeme …… metrů.

Obvod obdélníku **EFGH** je 24 cm, |**FG**| = 4 cm. Vypočítejte délky stran tohoto obdélníku

o = 2 . (e + f) **Délka strany e je ……. cm.**

……. = 2 . (…… + f)

Obvod čtverce **ABCD** je 16 cm. Vypočítejte délku strany čtverce

o = 4 . a

16 = 4 . a

a = …….. cm

Vypočítej obvod mnohoúhelníku:

a)
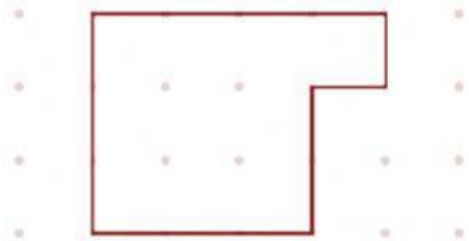

a) obvod = ……

b)
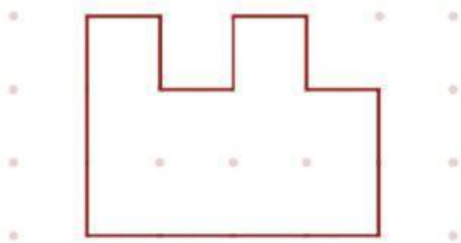

b) obvod = ……

a)
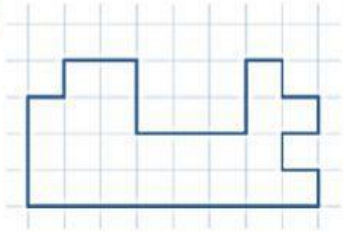

a) obvod = ……

b)
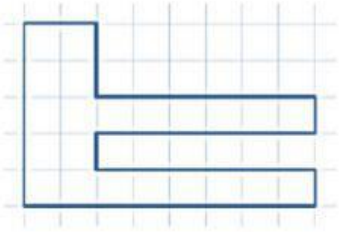

b) obvod = ……

LIVEWORKSHEETS