ชื่อ - สกุล.....ชั้น / ห้อง.....

ใบงานที่ 2 ผังงาน (FLOWCHART)

จากปัญหาต่อไปนี้ จงออกแบบผังงาน (Flowchart) โดยการลากบล็อกมาวางในกรอกที่กำหนดให้

ข้อที่ 1 : ผังงานแบบลำดับขั้น (Sequential Flowchart)

ให้เขียนผังงานเพื่อ คำนวณพื้นที่สี่เหลี่ยมผืนผ้า โดยรับค่าความกว้าง (W) และความยาว (L) จากผู้ ใช้ แล้วคำนวณพื้นที่ (Area = W × L) และแสดงผลลัพธ์

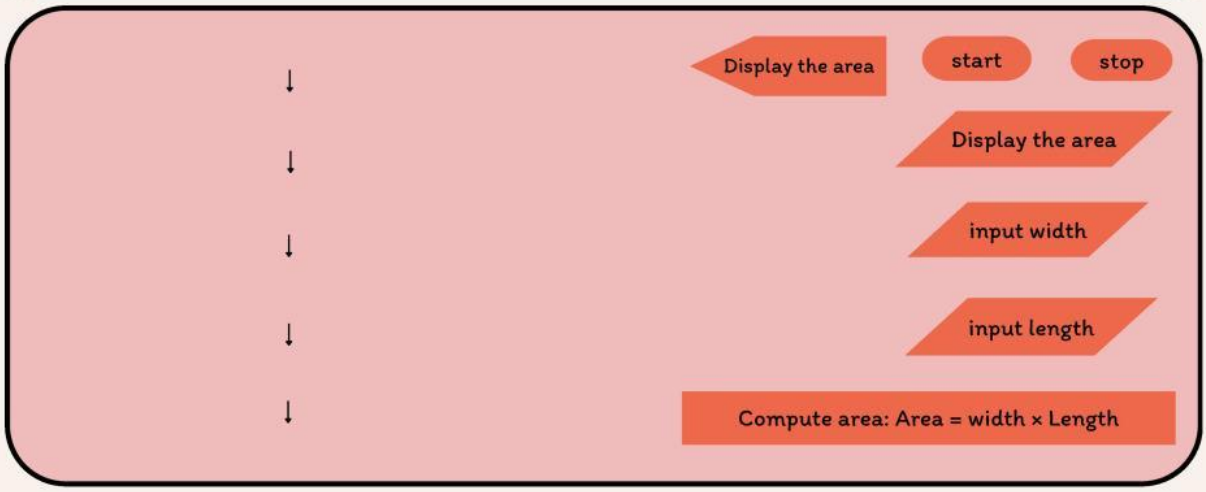

ข้อที่ 2 : ผังงานแบบมีเงื่อนไข (Selection Flowchart)

ให้เขียนผังงานตรวจสอบว่า "นักเรียนผ่าน" หรือ "ไม่ผ่าน" โดยรับคะแนนสอบกลางภาค (Score)

- ถ้าคะแนน ≥ 50 ให้แสดงผลว่า "ผ่าน"
- ถ้าคะแนน < 50 ให้แสดงผลว่า "ไม่ผ่าน"

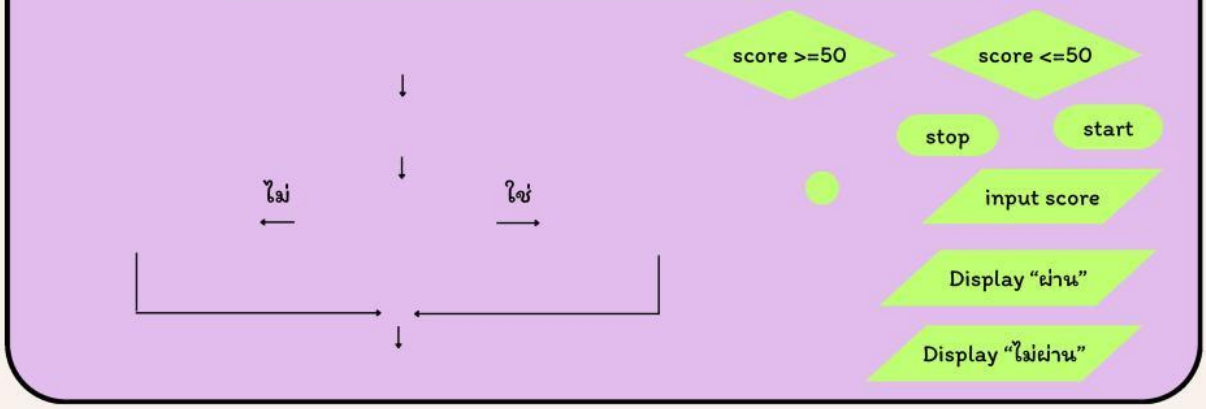

ข้อที่ 3 : ผังงานแบบวนซ้ำ (Loop Flowchart)

ให้เขียนผังงานเพื่อ แสดงผลทางจอ เลข 1 ถึง 5 โดยใช้การวนซ้ำ

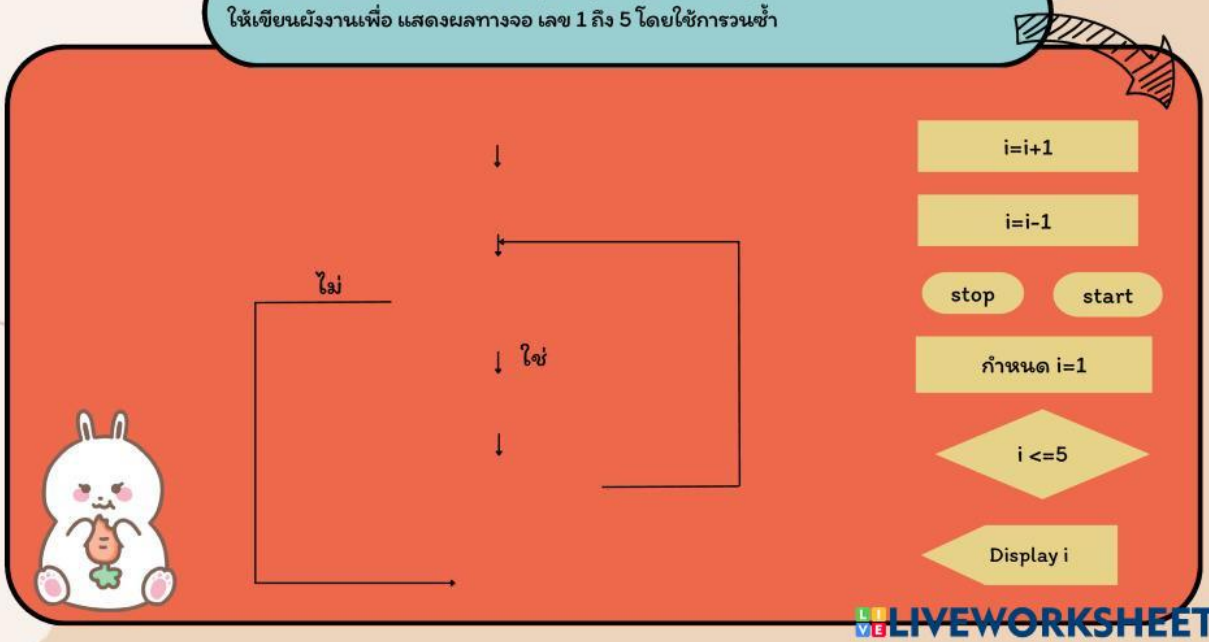

LIVEWORKSHEETS