PENGURANGAN SUSUN

Soal Pilihan Ganda:
Pengurangan Bersusun

NAMA : _____

KELAS : _____

PETUNJUK : Pilih jawaban paling tepat dari hasil pengurangan berikut.

83 – 27 =

- ○ 56
- ○ 23
- ○ 15
- ○ 54

95 – 48 =

- ○ 47
- ○ 52
- ○ 43
- ○ 12

62 – 29 =

- ○ 33
- ○ 23
- ○ 13
- ○ 34

78 – 34 =

- ○ 23
- ○ 14
- ○ 12
- ○ 44

66 – 18 =

- ○ 18
- ○ 10
- ○ 28
- ○ 48

LIVEWORKSHEETS

Ayo Berhitung

Nama : Kelas :

Hitunglah jumlah buah dan tulis jumlahnya !



	.....
	.....
	.....
	.....
	.....
	.....
	.....
	.....
	.....
	.....

LIVEWORKSHEETS

Nama: _____

Kelas: _____

Ganjil atau Genap

Tempelkan angka pada gambar, ke dalam toples berdasarkan kelompoknya!

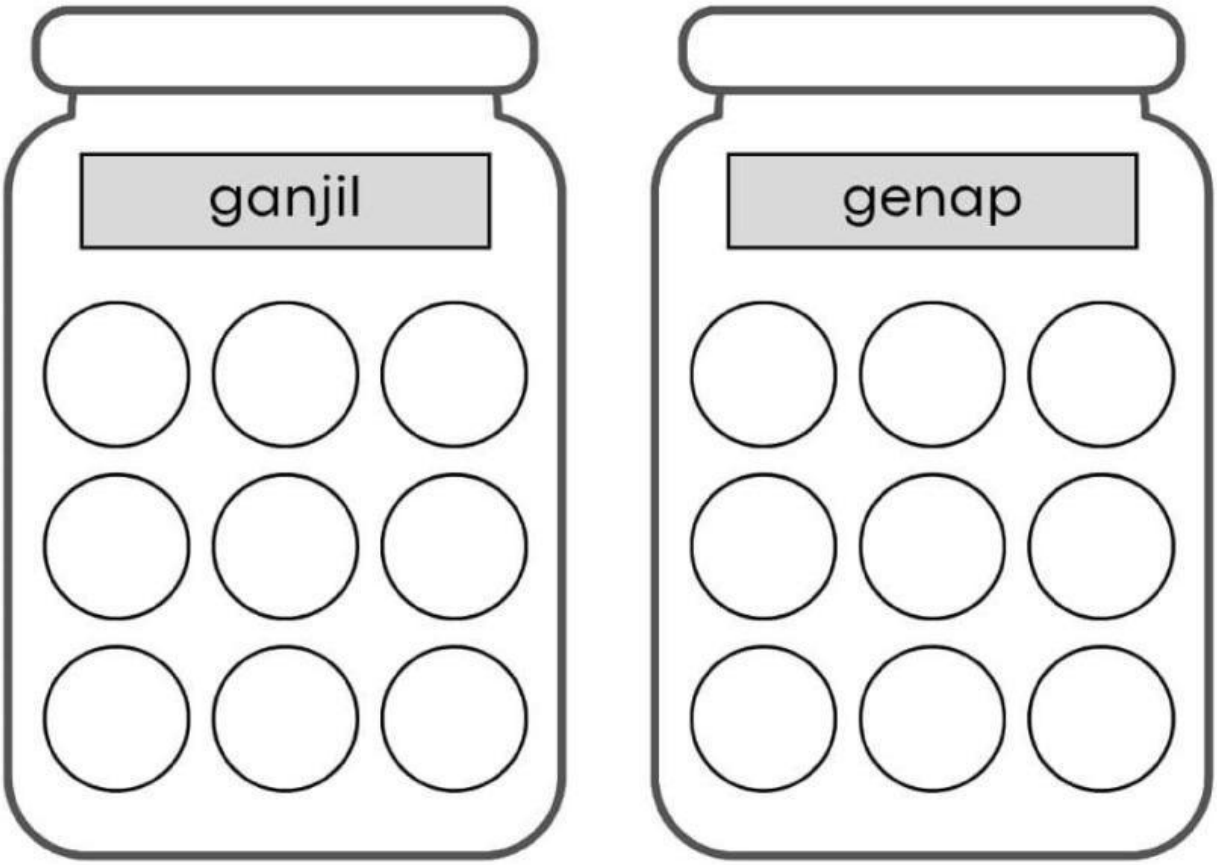



LIVEWORKSHEETS

Nama: Kelas:

Berhitung 1 Sampai 10

Ayo hitung dan pasangkan dengan bilangan yang tepat!

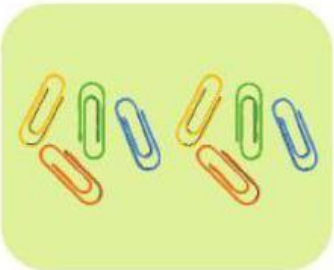

1

3

4

5

6

7

8

9

10

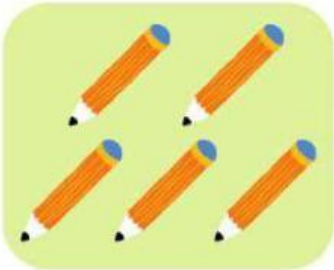

LIVEWORKSHEETS

PENGURANGAN KEBAWAH

Tentukan, Apakah Jawaban Ini Benar atau Salah!

NAMA : KELAS :

PETUNJUK : Baca soal dan lihat jawabannya. Pilih Benar jika jawaban sudah tepat, dan Salah jika tidak.

$$\begin{array}{r} 50 \\ 25\ - \\ \hline 25 \end{array}$$

$$\begin{array}{r} 45 \\ 20\ - \\ \hline 27 \end{array}$$

$$\begin{array}{r} 56 \\ 26\ - \\ \hline 32 \end{array}$$

$$\begin{array}{r} 44 \\ 12\ - \\ \hline 32 \end{array}$$

LIVEWORKSHEETS