COMPLETA LA TABELLA.

X	0	1	2	3	4	5	6	7	8	9	10
2											

COMPLETA.



Quante sono le foglie in ogni riga? _____

Quante sono le righe? _____

Quante foglie in tutto? _____ x _____=_____



Quante sono le mele in ogni riga? _____

Quante sono le righe? _____

Quante mele in tutto? ____ x ____ = _____

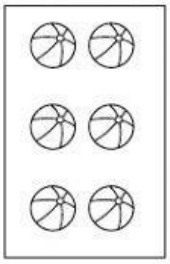

Quanti palloni in ogni riga? _____

Quante sono le righe? _____

Quanti palloni in totale? _____ x _____ = _____

COMPLETA CON I RISULTATI DELLA TABELLINA DEL 2.

LIVEWORKSHEETS