Nama : ..... Kelas : .....

PERUBAHAN ENERGI

Tentukan gambar jenis perubahan energi di bawah ini dengan tepat!

Kimia menjadi gerak

Kinetik menjadi listrik

Kimia menjadi listrik

Panas menjadi kalor

Kimia menjadi panas

Listrik menjadi gerak

LIVEWORKSHEETS

Versi cetak

Nama : ..... Kelas : .....

PERUBAHAN ENERGI

Tentukan gambar jenis perubahan energi di bawah ini dengan tepat!

Kimia menjadi gerak



Kinetik menjadi listrik

Kimia menjadi listrik



Panas menjadi kalor

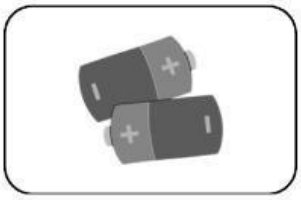

Kimia menjadi panas

Listrik menjadi gerak

LIVEWORKSHEETS

Kunci jawaban

Nama : ..... Kelas : .....

PERUBAHAN ENERGI

Tentukan gambar jenis perubahan energi di bawah ini dengan tepat!

- Kimia menjadi gerak
- Kinetik menjadi listrik
- Kimia menjadi listrik
- Panas menjadi kalor
- Kimia menjadi panas
- Listrik menjadi gerak

LIVEWORKSHEETS