TUGAS PELATIHAN EDUMED

MEMBUAT E-LEMBAR KERJA PESERTA DIDIK

(E-LKPD)

MARIONO,S.Pd

SMA NEGERI 1 SINGKEP

LIVEWORKSHEETS

PERTUMBUHAN DAN PERKEMBANGAN TUMBUHAN

BIOLOGI

KELAS XII IPA

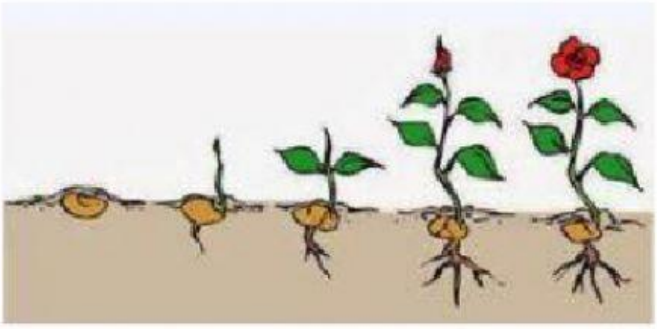

	NAMA : ..... NOMOR NISN : ..... KELAS : .....

LIVEWORKSHEETS

PERTUMBUHAN DAN PERKEMBANGAN TUMBUHAN

A. PERHATIKAN VIDIO PEMBELAJARAN BERIKUT INI !

B. TULISKAN KOMENTARMU BERDASARKAN VIDIO PEMBELAJARAN DIATAS SAMBIL DENGARKAN LAGU DI TANDA PANEL

LIVEWORKSHEETS

C. BERDASARKAN GAMBAR DIBAWAH INI TIPE PERKECAMBAHAN ADALAH

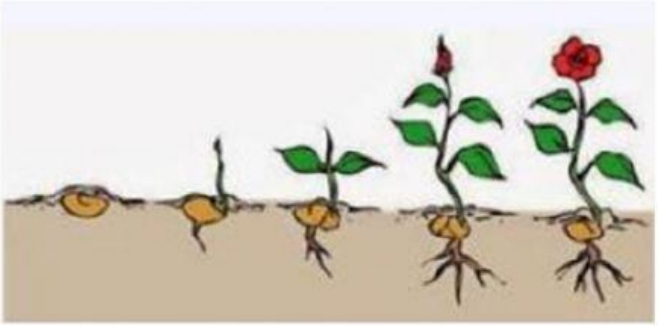

TIPE PERKECAMBAHAN

D. PILIHLAH JAWABAN YANG PALING BENAR DARI PERTANYAAN BERIKUT INI !

Zahra menanam Aglonema dalam 3 pot dengan ukuran dan jumlah daun yang sama.Ketiga pot diletakkan pada tempat terbuka dan disiram setiap dua hari sekali. Pot pertama diisi potongan pakis, sekam. Pot kedua diisi pasir kasar, pupuk kandang. Pot ketiga diisi potongan pakis, sekam dan pupuk NPK. Setelah satu bulan ternyata Aglonema pada pot ketiga lebih banyak pertambahan jumlah daun. Faktor luar yang mempengaruhi pertumbuhan tanaman Aglonema tersebut adalah ….

A. cahaya, nutrien, air
B. pupuk, sekam, cahaya
C. air, tanah, cahaya, CO_2
D. nutrien, O_2, air, cahaya
E. pasir, cahaya, pupuk, CO_2

LIVEWORKSHEETS

E. CEKLIST JAWABAN YANG SESUAI DARI PERTANYAAN BERIKUT INI !

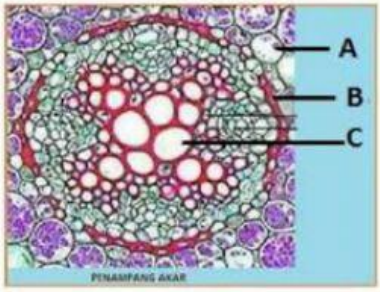

Nama bagian yang berlabel B adalah....

A. Kortek

B. Endodermis

C. Perisikel

D. Floem

E. Xylem

F. LENGKAPI GAMBAR DIBAWAH INI DENGAN KETERANGAN YANG BENAR DENGAN CARA MENJODOHKAN

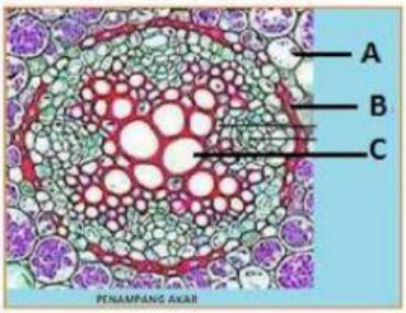

ENDODERMIS

XILEM

PERISIKEL

LIVEWORKSHEETS

G. **URUTKAN**
FAKTOR-FAKTOR YANG MEMPENGARUHI PERTUMBUHAN DAN PERKEMBANGAN

GEN

HORMON

AUKSIN

GEBERILEN

ETILEN

SITOKININ

ASAM ABSISAT

KAOLIN

ASAM TRAUMALIN

NUTRISI

CAHAYA

AIR

KELEMBABAN

SUHU

TANAH

1.FAKTOR INTERNAL

2. FAKTOR EKSTERNAL

LIVEWORKSHEETS