14 అంచులు - సరిహద్దులు Borders and Boundaries

Name - Class:- IV Subject:- Maths

సరియైన సమాధానంను క్లిక్ చేయండి.-Click the correct answer.

I. కింద ఇచ్చిన వాటి చుట్టుకొలత తెలుపండి.

Find the perimeter of the enclosures given below.

(అ)

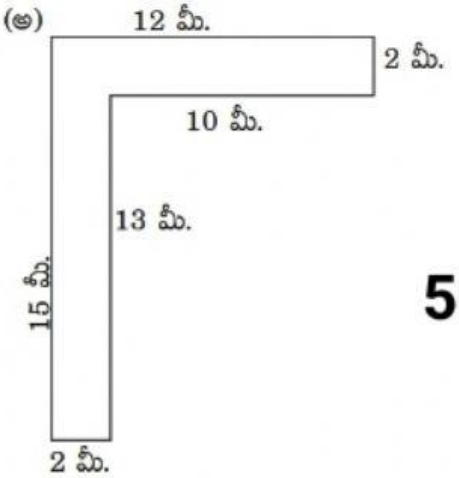

50 మీ. 54 మీ. 58 మీ.

(ఆ)

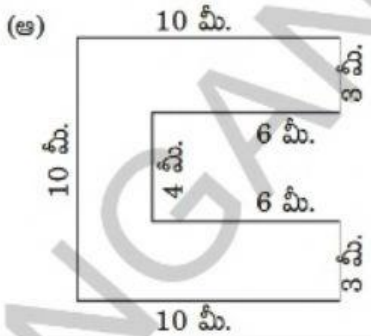

52 మీ. 54 మీ. 58 మీ.

ఇ)

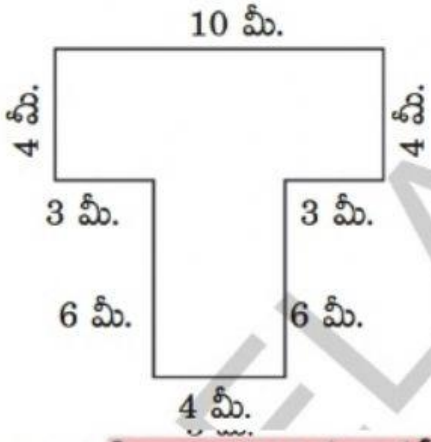

52 మీ. 54 మీ. 40 మీ.

పిల్లలూ..10/10 వచ్చాక మీ నోట్ బుక్ లో రాసుకోండి.

Designed by MAHESH MACHARLA.SGT.MPPS KOTHAPET O/C. JAGTIAL.

LIVEWORKSHEETS