ورقة عمل

الاسم:		التاريخ:	

عنوان الدرس : العلاقات والدوال

اختر الإجابة الصحيحة مما يلي:

1 مجال العلاقة التالية : { (1-,6) ,(9-,5-) ,(7-,3-) ,(1,7-) ,(9-,6-) }

a- {-1,-9,-7,7}	b- {-6,-5,-3,-1}	c- {-6,-9,-3,-1}

2 أي العلاقات التالية تمثل دالة :

a- 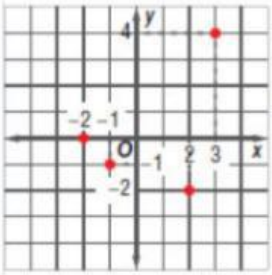	b- 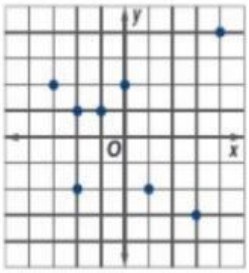	c- 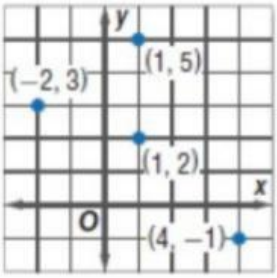

3 أي العلاقات التالية تمثل دالة متباينة :

a- 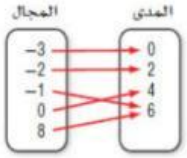	b- 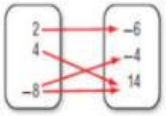	c- 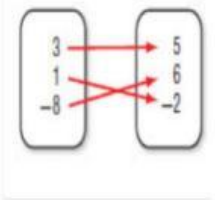

4 إذا كانت f (x) = 4x -8 فإن ..... =(3) f

a- 12	b- 4	c- 8

5 إذا كانت f(x) = -4x - 8 فإن ..... =f(-4)

a- 8	b- 25	c- 16

6 التمثيل البياني الصحيح للمعادلة : y = 5 x + 4 هو :

a- 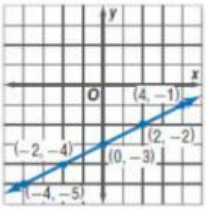	b- 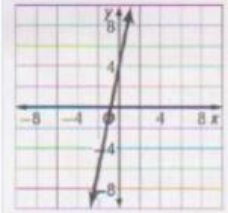	c- 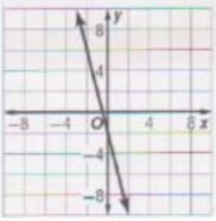

LIVEWORKSHEETS