Nama:

no:

kelas:

LIVEWORKSHEETS

# DESKRIPSI SINGKAT E-LKPD

## TUJUAN PEMBELAJARAN

Dengan mengerjakan E-LKPD, siswa mampu, menyebutkan jumlah simetri putar dan lipat pada beberapa bangun datar, dan juga menyebutkan jenis-jenis sudut

## PERTUNJUK PENGGUNAAN E-LKPD

1. Lengkapi nama, no absen, dan kelas terlebih dahulu.
2. Bacalah setiap pertanyaan dengan teliti.
3. Gunakan kalimatmu sendiri dan dengan jujur.
4. Jawab langsung di kolom yang disediakan.

LIVEWORKSHEETS

# MENCOCOKKAN NAMA BANGUN

cocokkan bangun berikut dengan nama bangun yang benar!

segitiga

persegi

persegi panjang

lingkaran

LIVEWORKSHEETS

# PERTUNJUK PENGERJAAN:

1. **Amati gambar bangun datar pada tabel di bawah.**
2. **Tuliskan jumlah simetri lipat dan simetri putar masing-masing bangun.**
3. **Isilah kolom yang tersedia secara langsung.**

| Gambar Bangun Datar | Jumlah Simetri Lipat | Jumlah Simetri Putar |
|---|---|---|
| | | |
|  | | |
|  | | |
| | | |

LIVEWORKSHEETS

# HUBUNGKAN NAMA DENGAN JENIS SUDUT:

**Tarik garis dari gambar sudut ke nama bagian yang benar.**

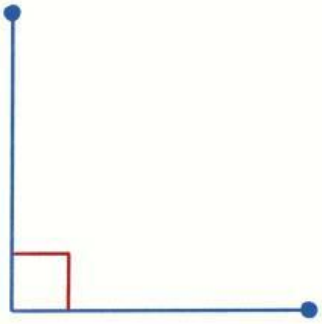

**Sudut Siku-siku**

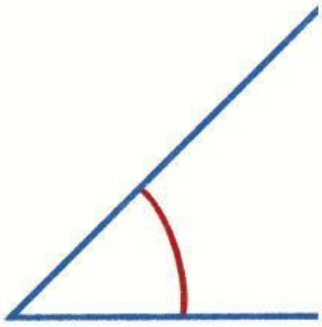

**Sudut Lancip**

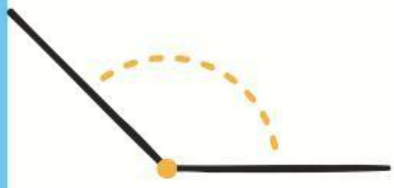

**Sudut Tumpul**

LIVEWORKSHEETS