LKPD

Ilmu Pengetahuan Alam

Sistem Pencernaan Manusia

Nama Anggota :

_____

_____

_____

_____

_____

Kelas:

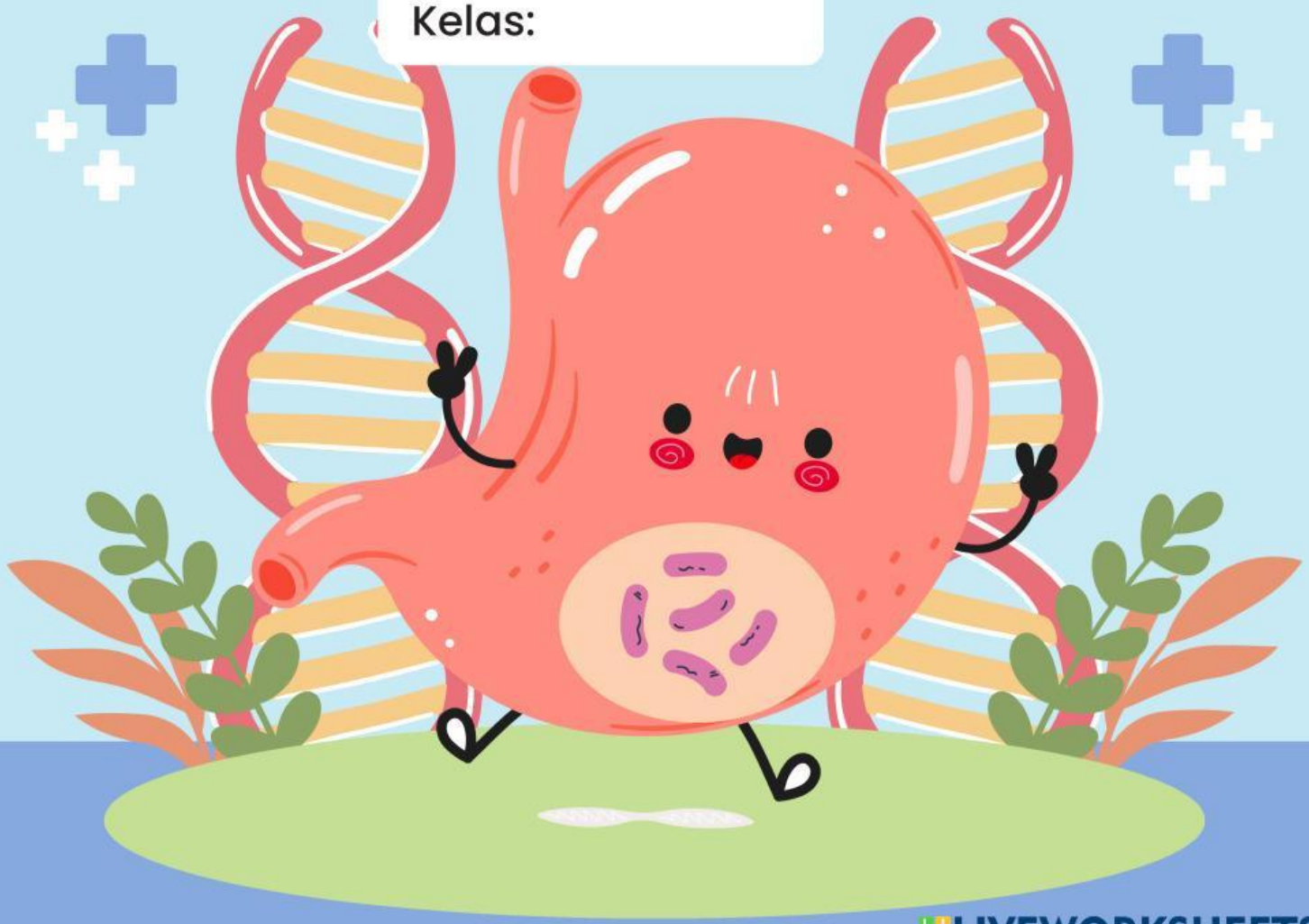

LIVEWORKSHEETS

Langkah Pengerjaan LKPD
Sistem Pencernaan Manusia

1. Dalam mengisi LKPD silahkan mencari jawaban dari berbagai sumber seperti artikel online, buku paket, dan video youtube.
2. Isilah organ-organ yang berperan dalam sistem pencernaan
3. tulislah nama bagian organ pencernaan sesuai dengan kelompok masing-masing
4. Tulislah fungsi dari bagian-bagian organ pencernaan yang ditunjuk
5. Diskusikan dengan teman sekelompokmu bagaimana proses pencernaan yang terjadi pada organ pencernaan tersebut
6. Presentasikan hasil diskusi kelompokmu di depan kelas

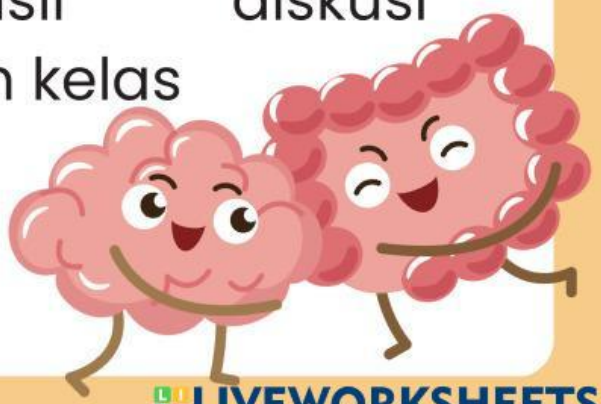

LIVEWORKSHEETS

Organ Pencernaan Manusia

Tentukan nama organ pencernaan yang sesuai dengan gambar yang ditunjuk

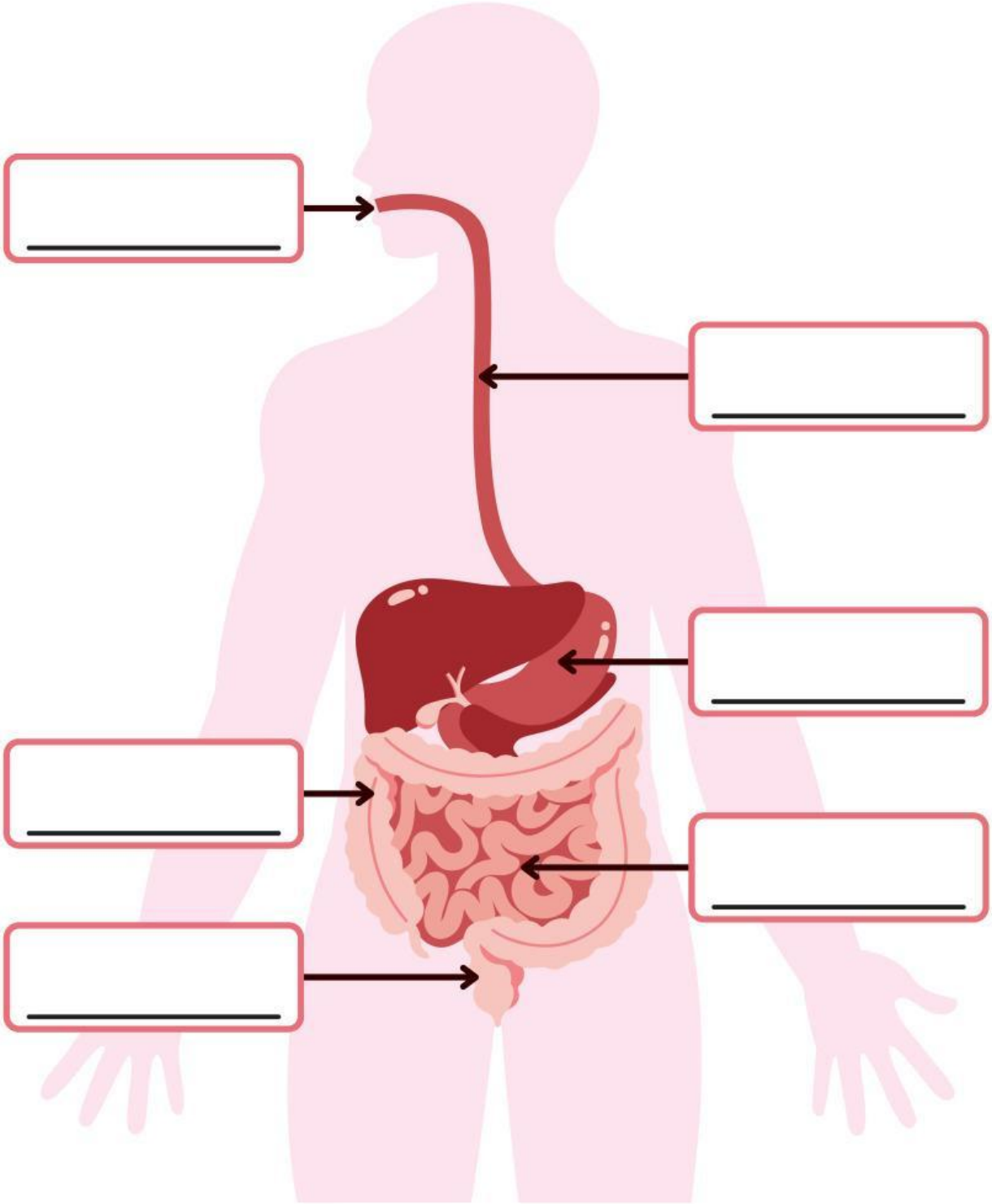

LIVEWORKSHEETS

KELOMPOK 4

Perhatikan gambar, tulislah nama bagian yang ditunjuk beserta fungsinya!

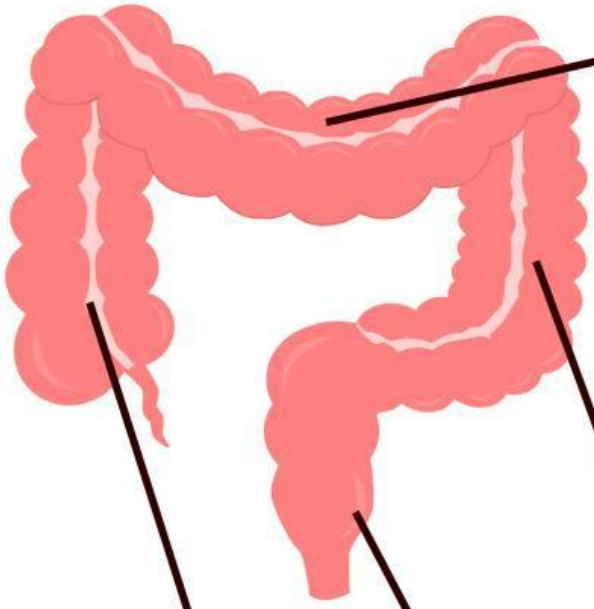

FUNGSI :

FUNGSI :

FUNGSI :

FUNGSI :

FUNGSI :

LIVEWORKSHEETS

RUMUSAN MASALAH

Diskusikan jawaban rumusan masalah ini bersama teman kelompokmu!

Bagaimana proses pencernaan makanan terjadi dalam usus besar?

LIVEWORKSHEETS