LKPD

Matematika

KELAS AWAL SD

Tema: Geometri, Pengukuran Analisis Data, Peluang

Nama : _____

Kelas : _____

No Absen : _____

LIVEWORKSHEETS

GEOMETRI

Hitunglah dan tulislah jumlah sisi bangun datar di bawah ini.

_____

_____



_____

_____

Tuliskan nama-nama bangun ruang tersebut dengan benar

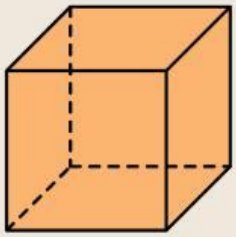

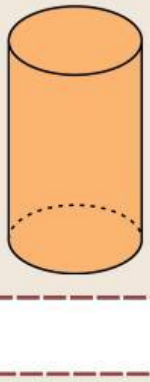

LIVEWORKSHEETS

PENGUKURAN

Tentukanlah hasil pengukuran benda di bawah ini dengan benar!

1.

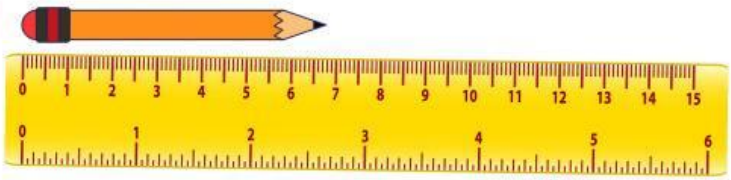

Hasil pengukuran

.....

2.

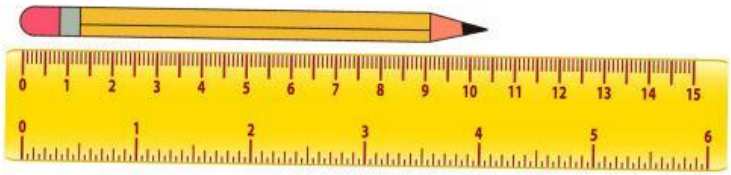

Hasil pengukuran

.....

3.



Hasil pengukuran

.....

4.

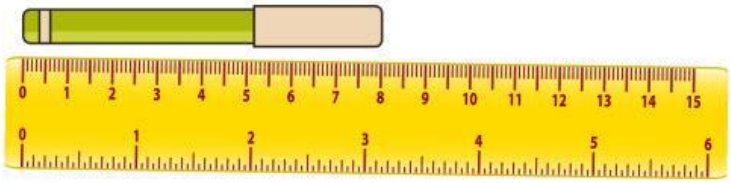

Hasil pengukuran

.....

5.



Hasil pengukuran

.....

LIVEWORKSHEETS

ANALISIS DATA

Perhatikan gambar buah-buahan di bawah ini!



Sajikan data di atas ke dalam bentuk tabel dengan tepat!

Buah Kesukaan	Jeruk	Anggur	Apel	Alpukat	Pisang	Mangga
Data						

LIVEWORKSHEETS

PELUANG

Penjelasan

Sebuah koin memiliki dua sisi, seperti pada gambar di samping:

- Sisi gambar
- Sisi Angka

Sisi Gambar

Sisi Angka

Ketika kita melempar koin, hanya ada dua kemungkinan hasil yang dapat muncul :

- Koin menunjukkan sisi gambar.
- Koin menunjukkan sisi angka.

Soal 1 : Peluang Munculnya Gambar

Sebuah koin dilempar sekali. Berapa peluang munculnya sisi gambar?

Jawaban :

Soal 2 : Peluang Munculnya Angka

Sebuah koin dilempar sekali. Berapa peluang munculnya sisi angka?

Jawaban :

LIVEWORKSHEETS