LEMBAR KERJA PESERTA DIDIK (LKPD)
BANGUN RUANG

Nama

Kelas

Perhatikan video berikut ini !

1. Volume kubus dengan panjang rusuk 6 cm adalah ..... cm^3

2. Pilih satu jawaban yang benar !
   Bangun ruang yang memiliki 6 sisi sama besar adalah

3. Manakah yang merupakan ciri-ciri balok :
   - ☐ Memiliki 6 sisi berbentuk persegi panjang
   - ☐ Semua sisinya berbentuk persegi
   - ☐ Memiliki 8 titik sudut
   - ☐ Tidak memiliki rusuk

4. Jumlah rusuk pada limas segiempat adalah
   ☐ 8 ☐ 6 ☐ 10 ☐ 12

LIVEWORKSHEETS

5. Seret bangun berikut ke pernyataan yang sesuai !

Bangun ruang yang memiliki permukaan yang lengkung

Bangun ruang yang semua sisinya persegi

Bangun ruang yang memiliki 3 pasang sisi berhadapan

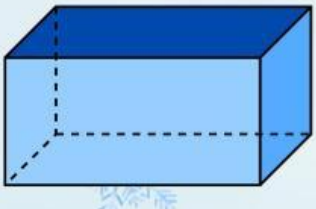

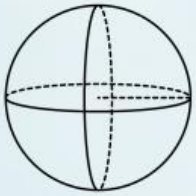

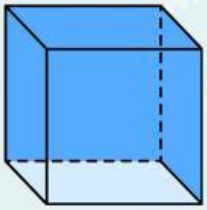

6. Hubungkan nama bangun ruang di kolom kiri dengan jumlah sisinya di kolom kanan!

Kubus	5
Balok	6
Limas Segitiga	6
Prisma Segitiga	4

LIVEWORKSHEETS