Nama: | Kelas: | Tanggal:

MACAM -MACAM SUDUT

Identifikasilah gambar sudut di bawah ini!

Gambar Sudut	Jenis Sudut
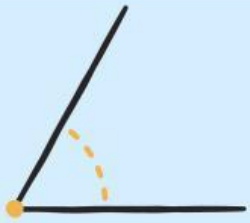	Nama Sudut : Besar Sudut :
	Nama Sudut : Besar Sudut :
	Nama Sudut : Besar Sudut :
	Nama Sudut : Besar Sudut :

LIVEWORKSHEETS

MENENTUKAN BESAR SUDUT

PASANGKAN SUDUT-SUDUT TERSEBUT DENGAN BENER DENGAN MENGGUNAKAN BUSUR

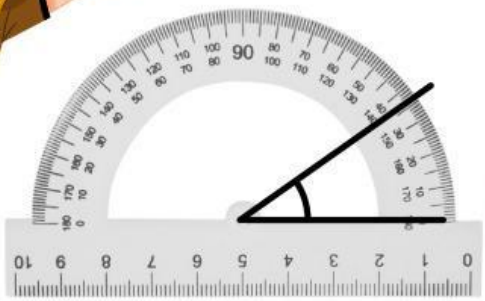

90°



130°

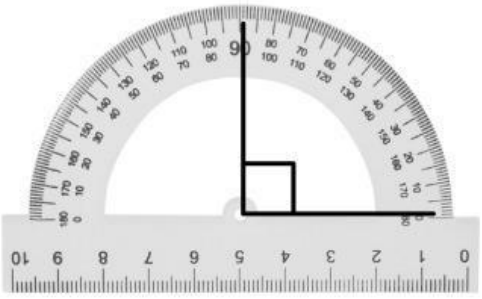

35°

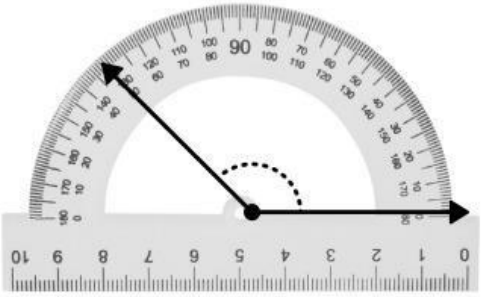

120°

LIVEWORKSHEETS

SOAL PILIHAN GANDA

BACALAH SETIAP SOAL DENGAN TELITI DAN CERMAT, KEMUDIAN ISILAH PERTANYAAN BERIKUT INI DENGAN CARA MENEKAN PADA SALAH SATU JAWABAN A, B, C ATAU D YANG MENURUT MU BENAR!

1. Dua garis berpotongan membentuk sudut-sudut yang berhadapan sama besar. Sudut tersebut disebut...

a. □ Sudut berpelurus
b. □ Sudut bertolak belakang
c. □ Sudut berpenyiku
d. □ Semua benar

2. Jika dua sudut berjumlah 90°, maka sudut tersebut disebut...

a. □ Sudut berpenyiku
b. □ Sudut berpelurus
c. □ Sudut bertolak belakang
d. □ Sudut lancip

3. Jika dua sudut berjumlah 180°, maka sudut tersebut disebut...

a. □ Sudut berpelurus
b. □ Sudut berpenyiku
c. □ Sudut bertolak belakang
d. □ Sudut siku-siku

4. Sudut A dan sudut B saling bertolak belakang. Jika besar sudut A = 65°, maka besar sudut B adalah...

a. □ 25°
b. □ 65°
c. □ 115°
d. □ 155°

LIVEWORKSHEETS

Nama: Kelas:

MEMAHAMI SUDUT

Berilah tanda (✓) pada kolom benar atau salah satu pertanyaan berikut!

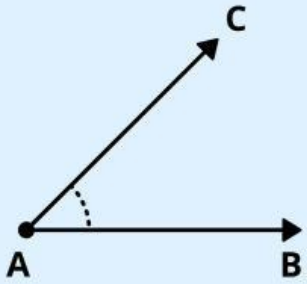

Pertanyaan	Benar	Salah
Nama sudut yang terbentuk adalah < ABC		
B merupakan titik sudut.		
AB dan CB merupakan kaki sudut		
Jenis sudut pada gambar adalah sudut tumpul		

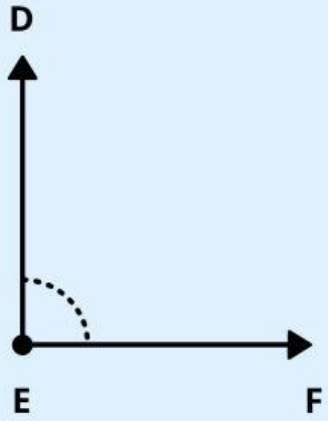

Pertanyaan	Benar	Salah
Nama sudut yang terbentuk adalah < DEF		
DE merupakan daerah sudut		
D merupakan titik sudut		
Jenis sudut pada gambar adalah sudut siku-siku		

LIVEWORKSHEETS