LKPD

Ilmu Pengetahuan Alam

Siklus Makhluk Hidup

Metamorfosis

Nama: _____

Kelas: _____

Oleh Kelompok 1

LIVEWORKSHEETS

Metamorfosis

Perubahan bentuk pada siklus hidup makhluk hidup.

- Perhatikan gambar di bawah ini.
- Isilah titik-titik sesuai gambar.

Metamorfosis Sempurna

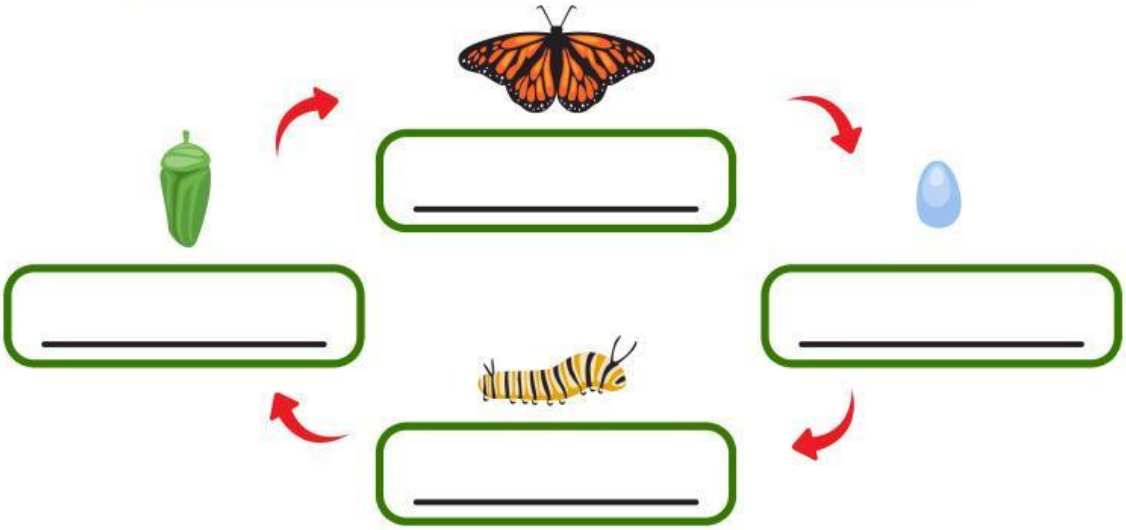

Metamorfosis Tidak Sempurna

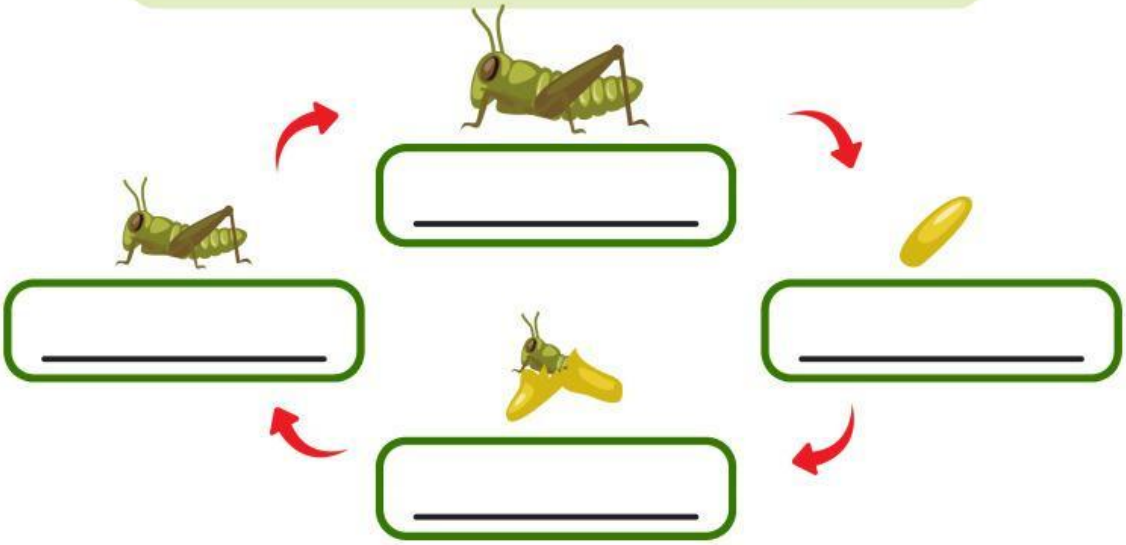

LIVEWORKSHEETS

METAMORFOSIS KUPU-KUPU

Hubungkan gambar metamorfosis kupu-kupu di bawah sesuai dengan urutannya!

1

2

3

4

5

LIVEWORKSHEETS

Metamorfosis

Berilah tanda centang (✓) pada kolom benar sesuai jenis metamorfosisnya!

Jenis Hewan	Metamorfosis Sempurna	Metamorfosis Tidak Sempurna

LIVEWORKSHEETS

Metamorfosis

Hubungkan gambar di bawah ini sesuai dengan urutan siklus hidupnya!



LIVEWORKSHEETS