اليوم : _____ فعاليات في الهندسة – الصف الثاني الاسم : _____

التاريخ: _____ ورقة عمل المضلعات

1. أكمل الخط المنكسر المفتوح ليصبح خط منكسر مغلق :

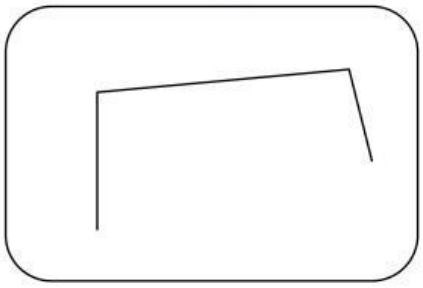

2. صل الأشكال إلى مسمياتها الصحيحة

مربع خماسي مثلث



3. اكمل بحسب المطلوب:

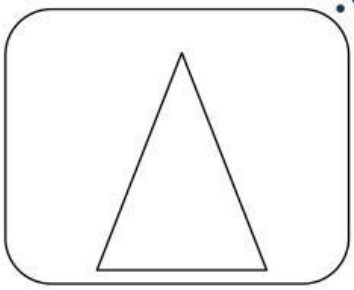

في المثلث عدد الرؤوس _____ وعدد الأضلاع _____

LIVEWORKSHEETS