KELOMPOK 4: SIKLUS PEREDARAN DARAH		KELAS
1.		
2		
3		
4		
5		
6		

https://youtu.be/JyfDdVYzqUc?si=y8cqw-B8BbX6oaFP

LKPD 4: PEREDARAN DARAH MANUSIA

Tujuan : Memaami peredaran darah pada manusia

Pertanyaan Diskusi

1. Mengapa peredaran darah manusia disebut peredaran darah tertutup?

2. Mengapa peredaran darah manusia disebut peredaran darah ganda?

LIVEWORKSHEETS

3. Peredaran darah manusia dibagi menjadi 2 yaitu peredaran darah besar dan peredaran darah kecil. Perhatikan gmabar berikut, tuliskan alur peredaran darah kecil dan peredaran darah besar pada manusia

Perhatikan Gambar berikut!

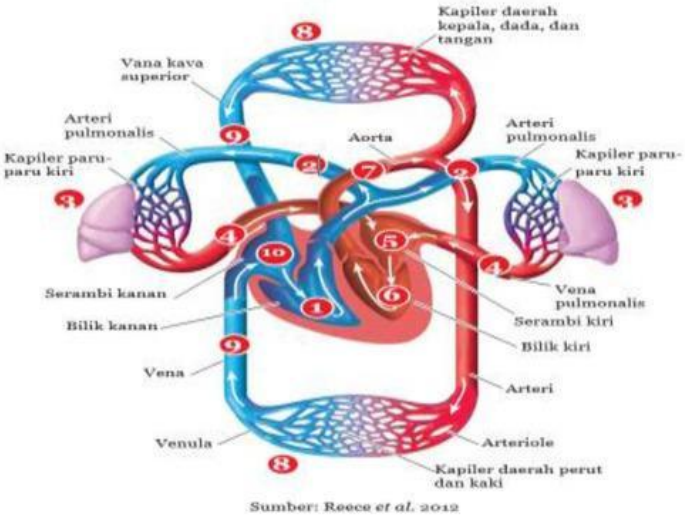

Sumber: Reece et al. 2012

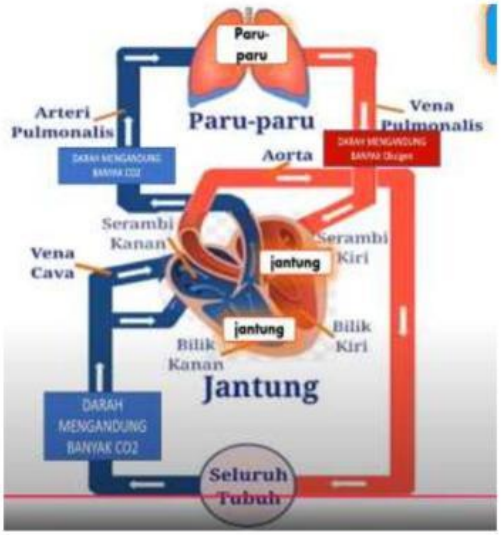

Peredaran Darah Kecil

1 KE 2 KE 3 KE 4 KE 5

Lengkapilaj perjalanan dalam system peredaran darah besar (Perhatikan Gambar 1)

Peredaran Darah Besar

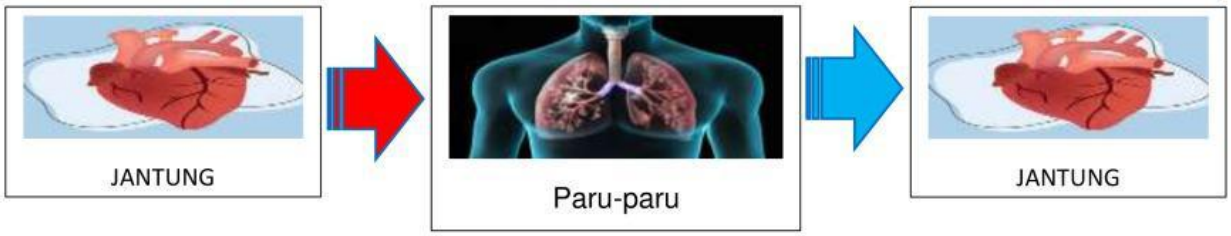

JANTUNG

.

Darah dibawa oleh pembuluh

……

Membawa **darah kaya**

……/

Miskin

……..

Paru-paru

Darah dibawa oleh pembuluh

……

Membawa **darah kaya**

……

JANTUNG

Yang terjadi di paru-paru

LIVEWORKSHEETS

Peredaran Darah Besar

Lengkapilah perjalanan dalam sistem peredaran darah kecil (Perhatikan Gambar 1)

6 ke 7 ke 7 ke 8 ke 9 dan 10

Peredaran Darah Besar

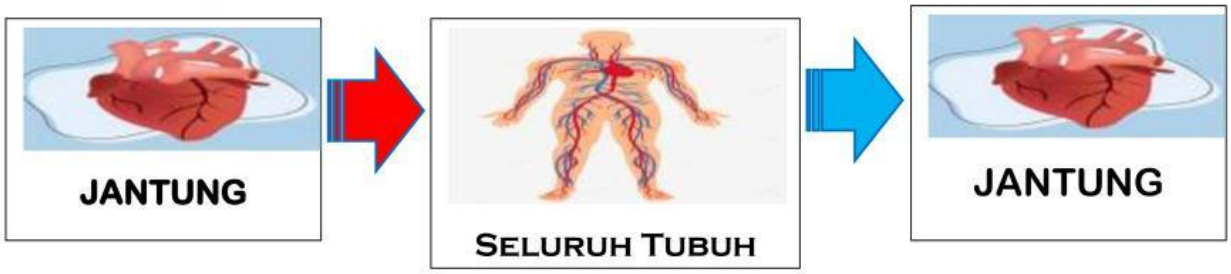

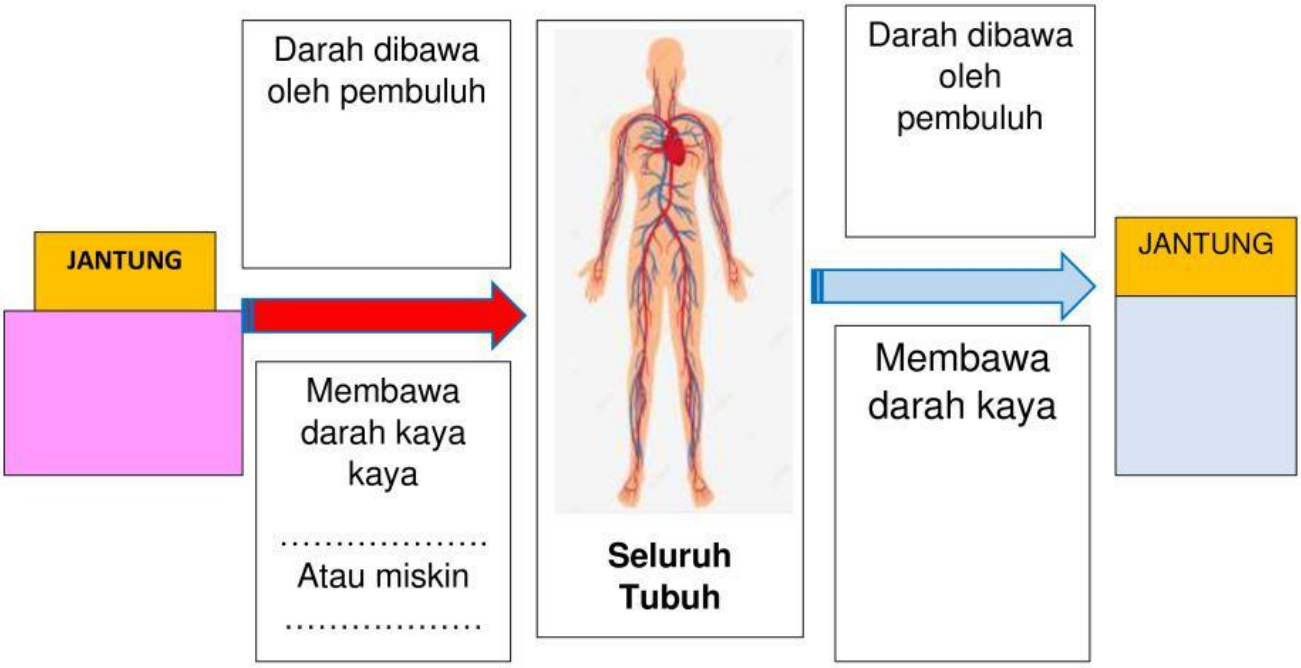

Yang terjadi pada kapiler dan jaringan tubuh

LIVEWORKSHEETS