الاسم : ----------

الصف: ----------

KINGDOM OF BAHRAIN
Ministry of Education
Al Hidd Secondary Girls School

مملكة البحرين
وزارة التربية والتعليم
مدرسة الحد الثانوية للبنات

ريض 253- دالة الجذر التربيعي

الهدف: أن تستنتج الطالبة قاعدة الدالة من تمثيلها البياني.

صلي بين الدالة و تمثيلها البياني :

$$g(x) = -\sqrt{5x}$$

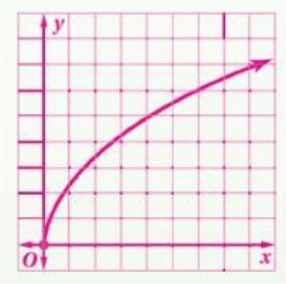

$$g(x) = \sqrt{6x}$$

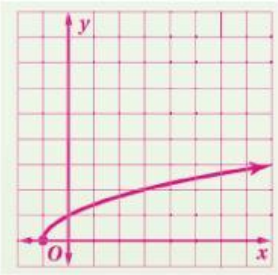

$$g(x) = \sqrt{x-4} - 10$$

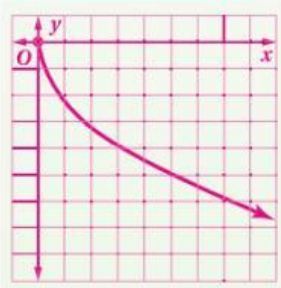

$$g(x) = \sqrt{x+1}$$

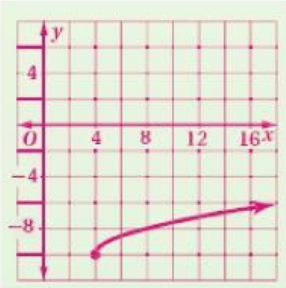

خديجة جمعة
معلمة المقرر

هيفاء محمد بوحمود
مديرة المدرسة

LIVEWORKSHEETS