BÀI TẬP THAM KHẢO

Bài 1. Điền số thích hợp vào chỗ chấm:

a) Có ..... số lớn hơn 5 và bé hơn 9. Đó là các số: .....; .....; .....

b) Số tiếp theo của dãy số 0; 1; 3; 6; ... là: .....

Bài 2. Viết số thích hợp vào chỗ chấm:

a) – Số liền trước của 8 là .....
– Số liền trước của 10 là .....
– Số liền sau của 7 là .....
– Số liền sau của 9 là .....

b) – Số bé nhất lớn hơn 3 là số .....
– Số bé nhất lớn hơn 7 là số .....
– Số lớn nhất bé hơn 6 là số .....
– Số lớn nhất bé hơn 9 là số .....

Bài 3. Chia 7 viên bi vào hai chiếc lọ bằng các cách khác nhau. Vẽ viên bi vào các hàng để thể hiện cách chia đó vào bảng sau (theo mẫu):

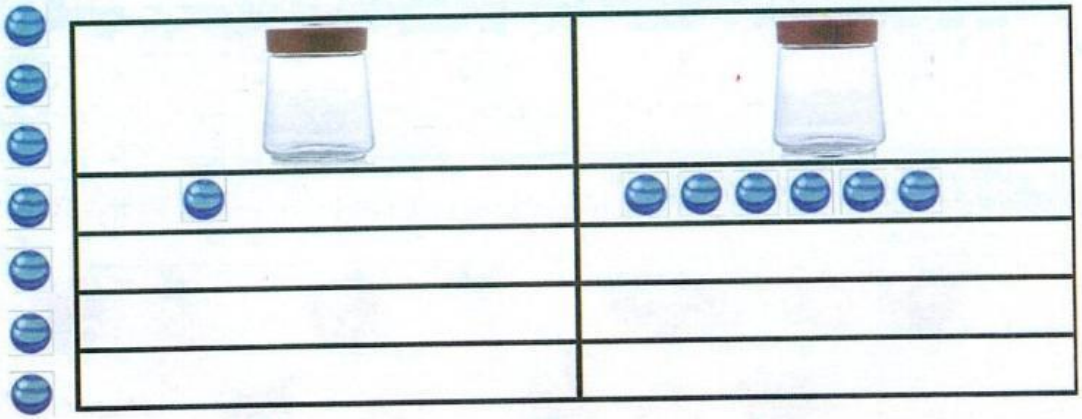

Bài 4. Điền số vào ô trống để hoàn thành bảng sau:

8									
5					3				
3								2	
1				1					

Bài 5. Quan sát quy luật của dãy số và điền số tiếp theo vào ô trống:

1	1	2	1	1	

LIVEWORKSHEETS

TUẦN 3

TIẾT 1

Bài 1. Vẽ thêm hoặc gạch bớt để có số hình bằng nhau (theo mẫu):

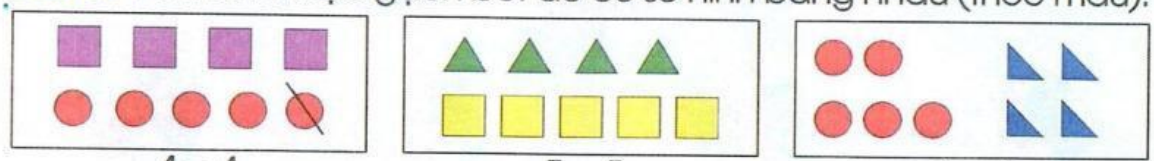

4 = 4 | 5 = 5 | 3 = 3

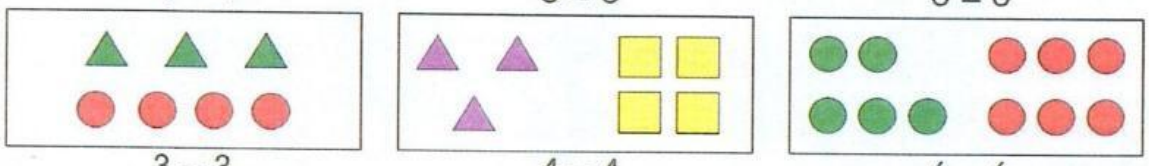

3 = 3 | 4 = 4 | 6 = 6

Bài 2. Quan sát hình, điền số thích hợp vào chỗ chấm:



nặng bằng .....

Bài 3. Nối để các hình có số lượng bằng nhau (theo mẫu):

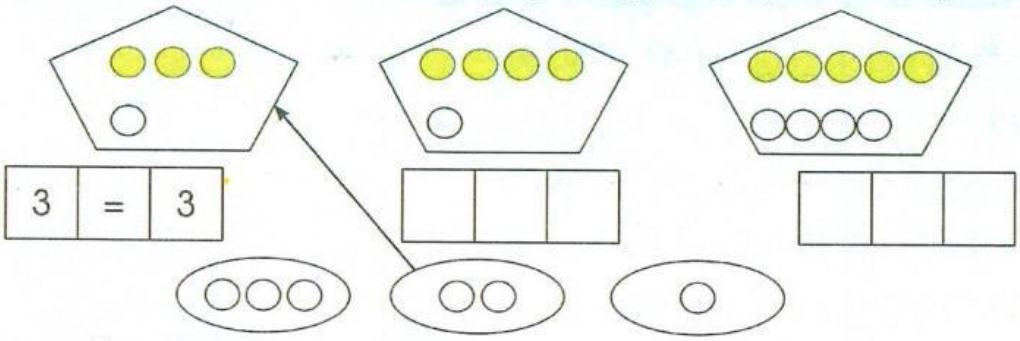

Bài 4. Điền số thích hợp vào ô trống:

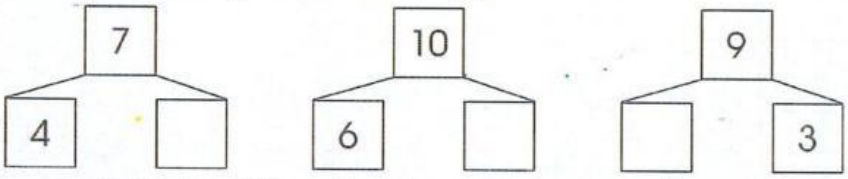

Bài 5. Quan sát hình, điền số thích hợp vào chỗ chấm:



nặng bằng .....

Ms HUYEN
LIVEWORKSHEETS