LKPD

Ilmu Pengetahuan Alam

Sel Tumbuhan dan Sel Hewan

Nama: _____

Kelas: _____

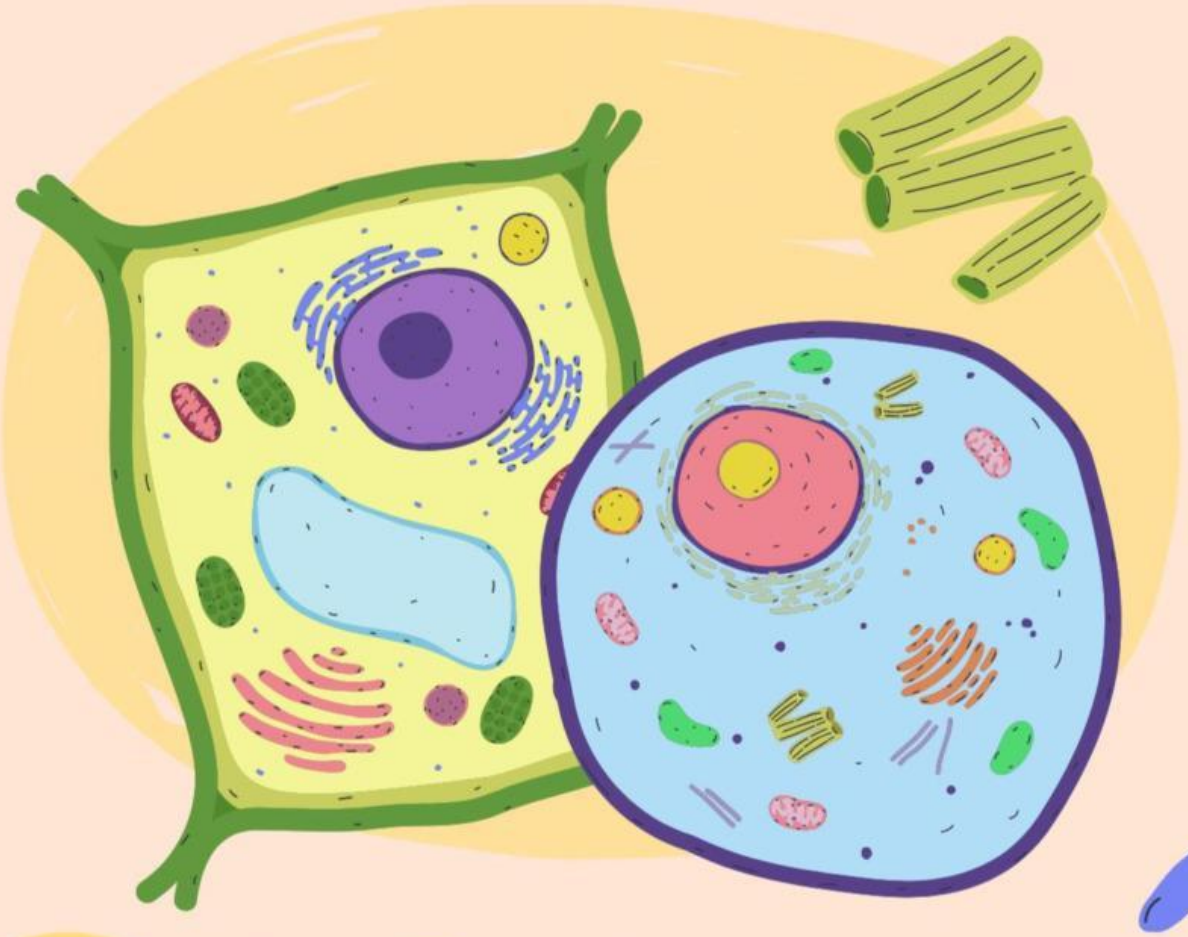

LIVEWORKSHEETS

SEL TUMBUHAN DAN SEL HEWAN

Mata Pelajaran : Ilmu Pengetahuan Alam
Kelas :
Materi : Sel Tumbuhan dan Sel Hewan
Hari/Tanggal :
Nama :
No. Absen :

A. Tujuan Pembelajaran

1. Siswa dapat menyebutkan dan menjelaskan bagian-bagian sel tumbuhan dan sel hewan serta fungsinya dengan bahasa yang mudah dipahami.
2. Siswa dapat membandingkan sel tumbuhan dan sel hewan untuk menemukan persamaan dan perbedaannya.
3. Siswa dapat membuat gambar atau model sel tumbuhan dan sel hewan, lalu menjelaskan fungsinya secara lisan atau tulisan.

B. Petunjuk Pengerjaan

1. Bacalah setiap perintah dengan teliti
2. Kerjakan tugas ini secara berkelompok
3. Gunakan pensil untuk mengisi LKPD
4. Tanyakan pada guru jika ada hal yang belum dipahami

Pemberian rangsangan (Stimulastion)

Amatilah video yang ditampilkan dan pahami narasi berikut ini!

Sistem Organisasi Kehidupan Makhluk Hidup – Sel | IPA | SayaBisa

LIVEWORKSHEETS

Identifikasi masalah (Problem statement)

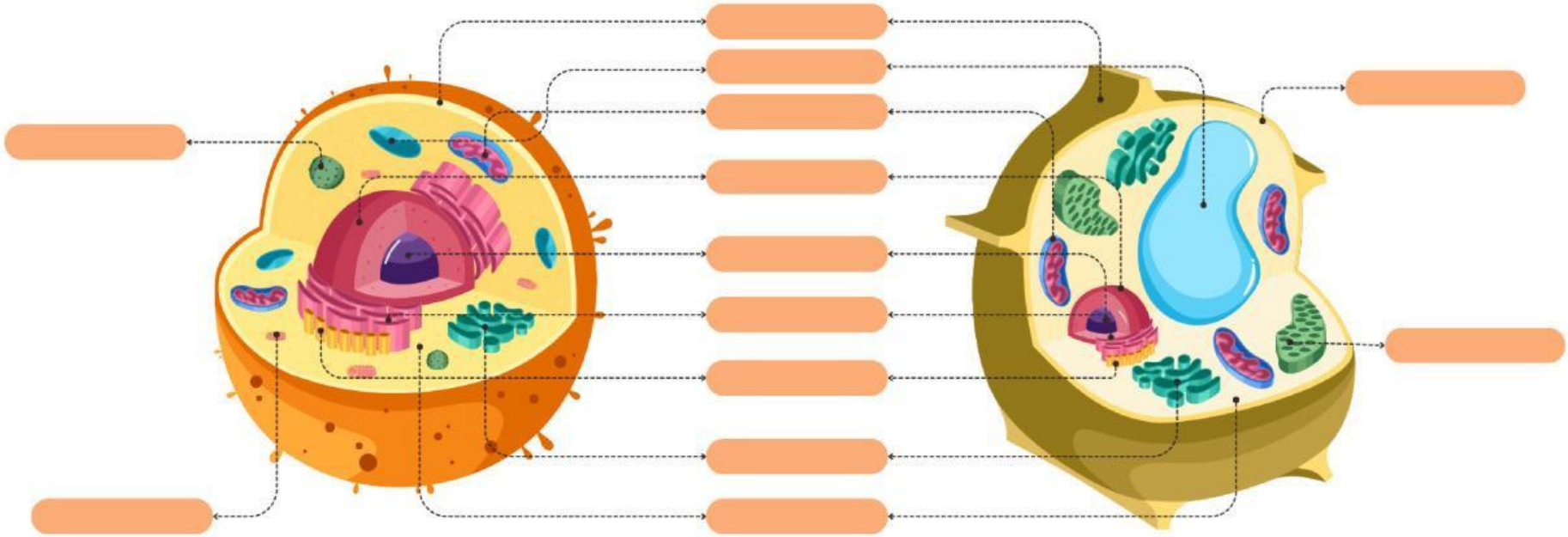

Buatlah rumusan masalah berdasarkan gambar diatas !

LIVEWORKSHEETS

Pengumpulan dan pengoalahan data (Data collecting and processing)

BAGIAN-BAGIAN SEL HEWAN

Amatilah gambar Bagian-bagian Sel Hewan di bawah ini. Tulislah nama yang sesuai bagian yang telah di tunjuk!

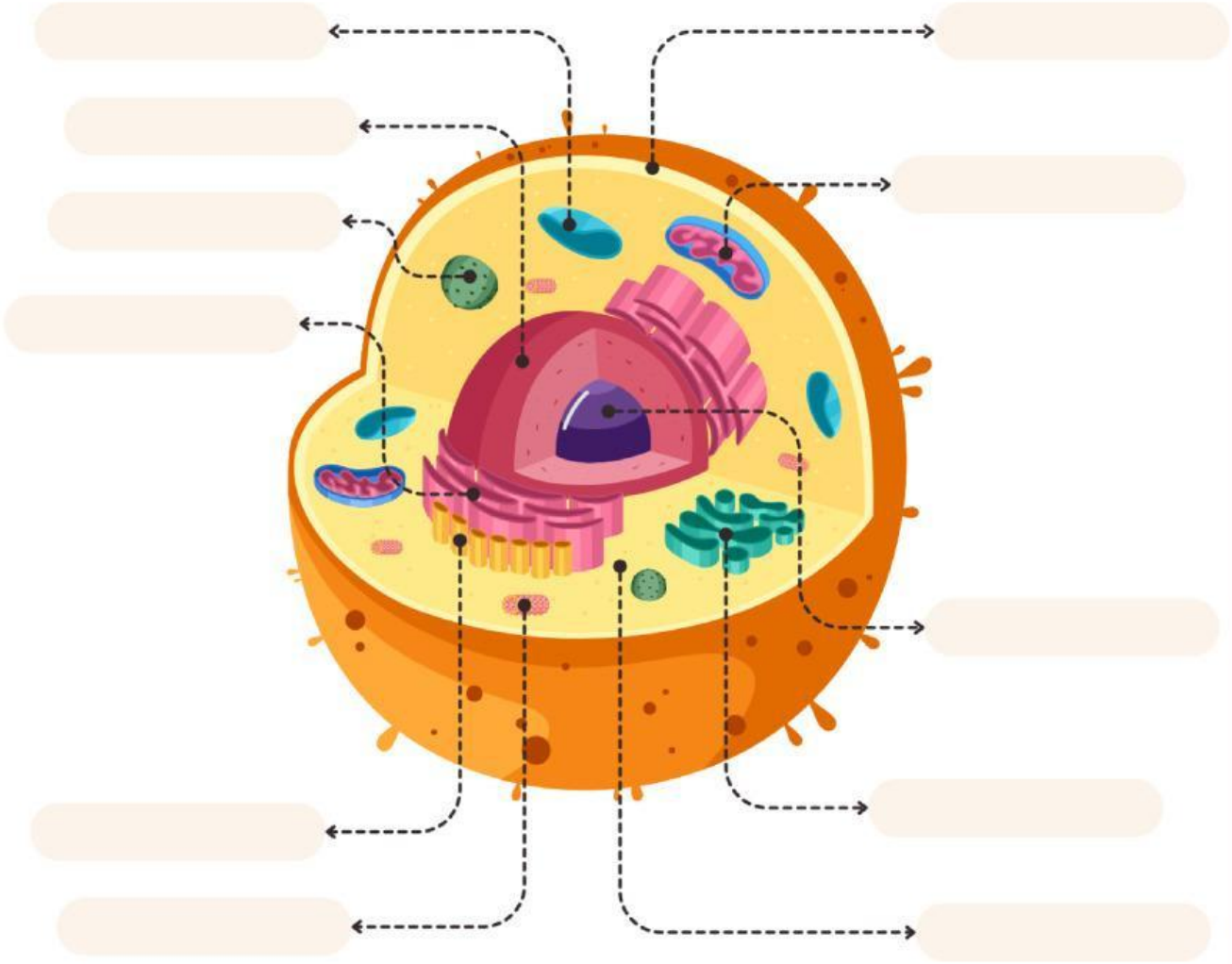

Badan Golgi	Nukleolus	Mitokondria	Lisosom
Vakuola	Nukleus	Membran Sel	RE Kasar
Sitoplasma	Sentriol	RE Halus	

LIVEWORKSHEETS

BAGIAN–BAGIAN SEL TUMBUHAN

Amatilah gambar Bagian–bagian Sel Hewan di bawah ini. Tulislah nama yang sesuai bagian yang telah di tunjuk!

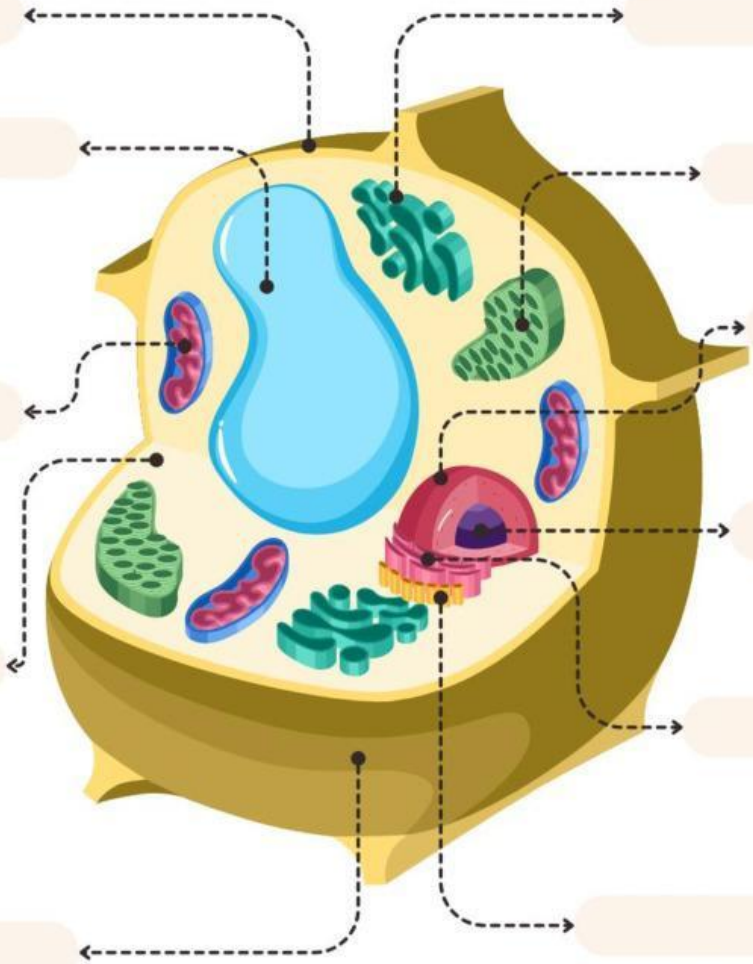

Badan Golgi	Nukleolus	Mitokondria	RE Kasar
Vakuola	Nukleus	Membran Sel	Kloroplas
Sitoplasma	RE Halus	Dinding Sel	

LIVEWORKSHEETS

BAGIAN–BAGIAN SEL HEWAN

Perhatikan Gambar. Berilah nama pada setiap bagian pada tabel sesuai dengan nama dan fungsinya!

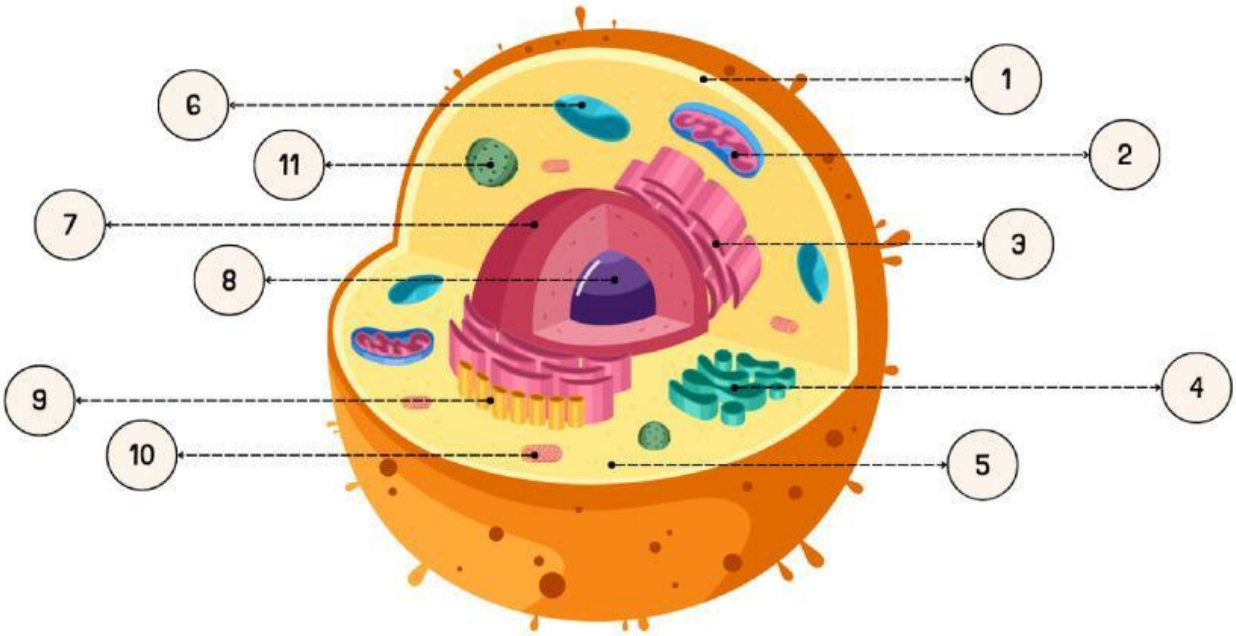

NO	NAMA	FUNGSI
1.		
2.		
3.		
4.		
5.		
6.		
7.		
8.		
9.		
10.		
11.		

LIVEWORKSHEETS

BAGIAN–BAGIAN SEL TUMBUHAN

Amatilah gambar di bawah ini. Lengkapilah gambar dengan memberi nama yang sesuai.

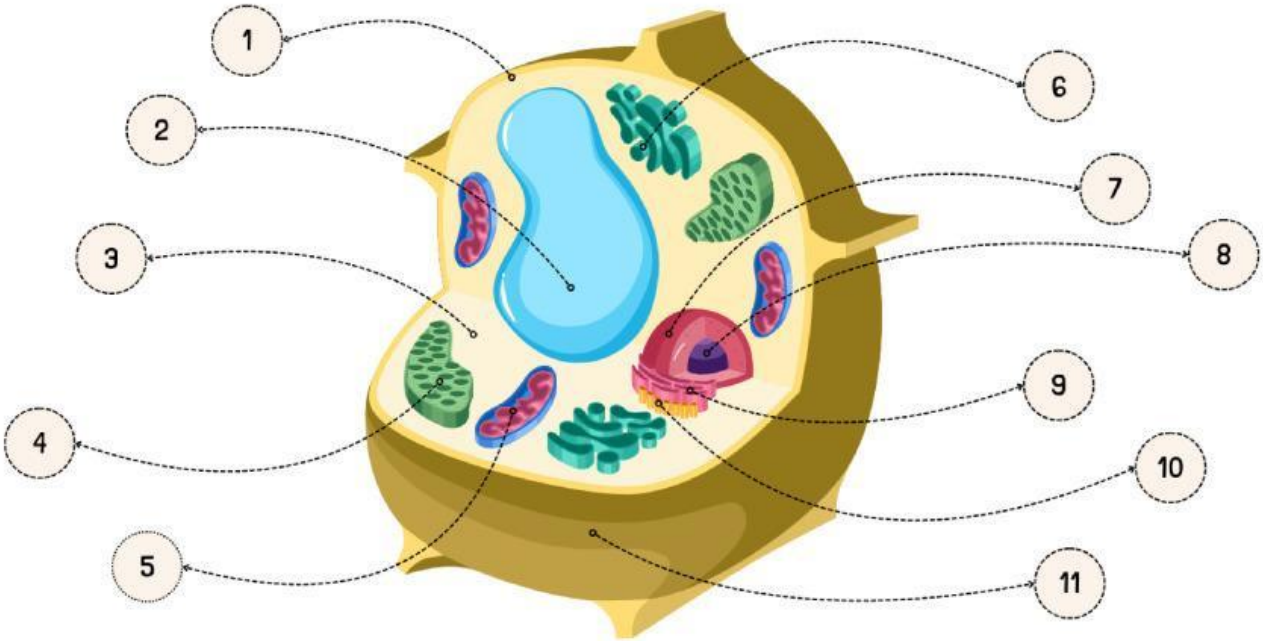

NO	NAMA	FUNGSI
1.		
2.		
3.		
4.		
5.		
6.		
7.		
8.		
9.		
10.		
11.		

LIVEWORKSHEETS

PERBEDAAN SEL HEWAN DAN SEL TUMBUHAN

Perhatikan gambar sel hewan dan sel tumbuhan berikut ini!

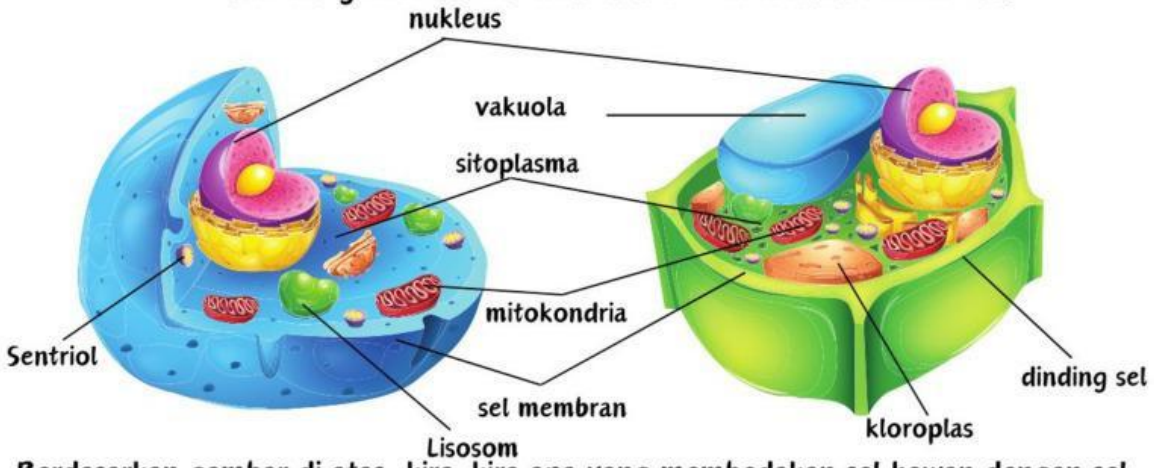

Berdasarkan gambar di atas, kira-kira apa yang membedakan sel hewan dengan sel tumbuhan? Coba kalian isi tabel di bawah ini!

STRUKTUR	SEL HEWAN	SEL TUMBUHAN
Dinding Sel		
Sel Membran		
Nukleus		
Mitokondria		
Vakuola		
Kloroplas		
Sitoplasma		
Lisosom		
Sentriol		

LIVEWORKSHEETS