LEMBAR KERJA PESERTA DIDIK

MENJELAJAHI BUMI DAN ANTARIKSA

ILMU PENGETAHUAN ALAM & SOSIAL (IPAS)

NAMA :

KELAS :



DISUSUN OLEH: DEVITA M

LIVEWORKSHEETS

A. Tarik dan letakkan kata yang sesuai dengan gambar dibawah ini !

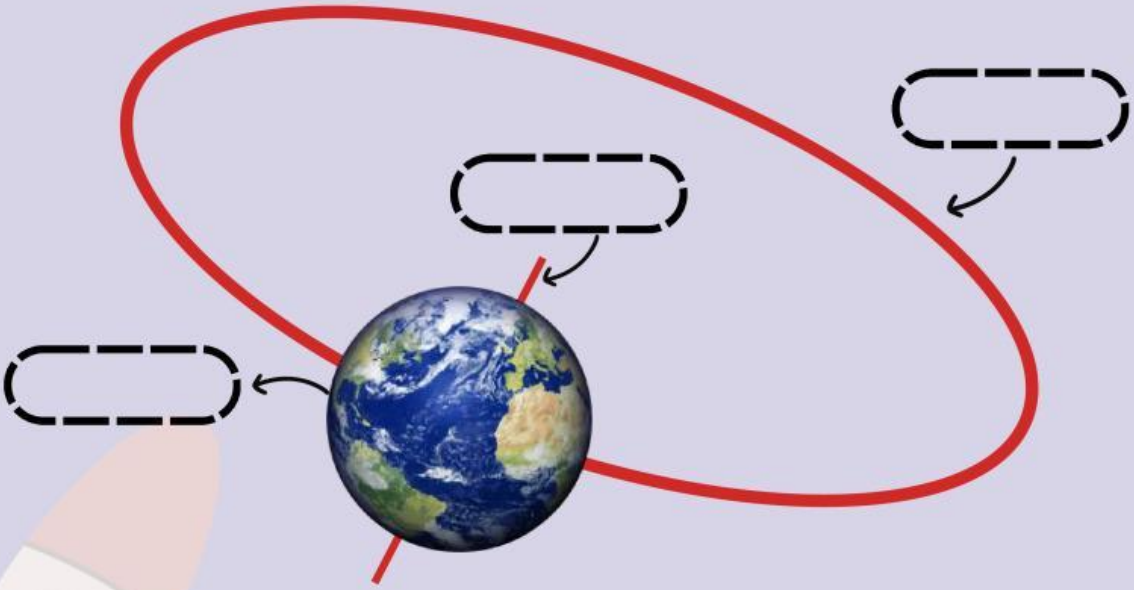

Poros

Orbit

Bumi

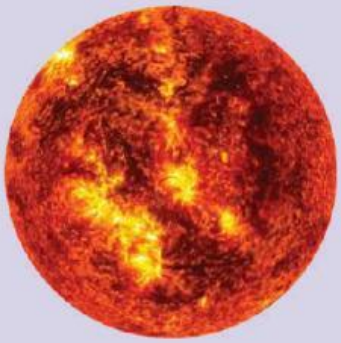

Bulan

Matahari

LIVEWORKSHEETS

B. Hubungkan kata dibawah ini sesuai dengan gambar yang tersedia !

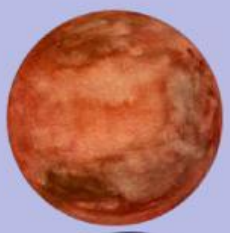

- Bumi
- Neptunus
- Uranus
- Mars
- Saturnus
- Jupiter
- Merkurius
- Venus

LIVEWORKSHEETS

C. Pilih jawaban dibawah ini dengan mengklik kolom benar atau salah !

PERNYATAAN	BENAR	SALAH
Bumi berputar pada poros/ sumbunya disebut rotasi		
Bumi berputar mengelilingi matahari pada orbitnya disebut revolusi		
Dalam satu kali rotasi, bumi membutuhkan waktu 24 jam 50 menit		
Waktu yang diperlukan bumi untuk melakukan satu kali revolusi yaitu 365,25 hari		
Waktu yang diperlukan bulan untuk berotasi dan berevolusi yaitu sekitar 28 hari		

LIVEWORKSHEETS

D. Jawablah pertanyaan dibawah ini dengan benar !

1. Matahari terbentuk dari campuran...

2. Sama seperti bumi, matahari juga dapat berotasi dan berevolusi dengan mengelilingi...

3. Sebagian besar permukaan bumi adalah perairan, dengan 29% di antaranya adalah daratan. Berapa persenkah permukaan Bumi yang diselimuti oleh air?"

4. Bumi terbentuk dari...

5. Sebutkan 8 fase bulan dibawah ini!

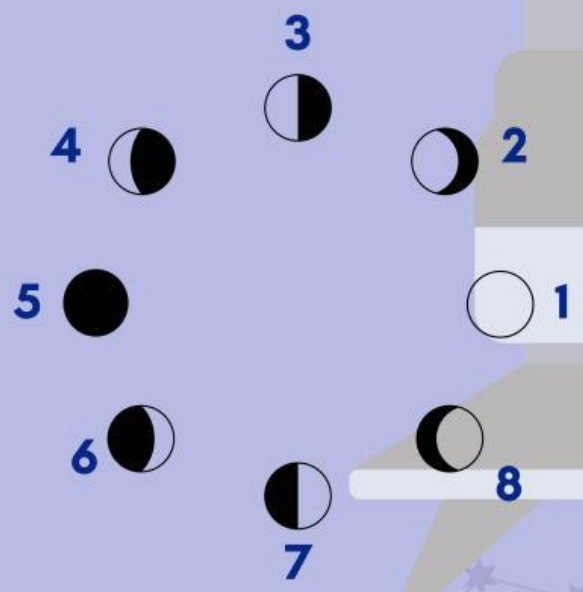

1.
2.
3.
4.
5.
6.
7.
8.

LIVEWORKSHEETS