Feladatlap

1. Írd le a felsorolt számokat növekvő rendben!

3 15 19 11 9 20 4

		<			<			<			<			<			<			

2. Melyek a számok számszomszédai?:

		<		**8**	<		

		<	**1**	**4**	<		

		<	**1**	**7**	<		

		<	**1**	**3**	<		

3. Melyik számot bontottam? Kösd össze!

1 tízes 3 egyes	18
1 tízes 8 egyes	14
2 tízes 0 egyes	13
1 tízes 4 egyes	20

4. Írd le számjeggyel! Majd kattints a számegyenesen arra pontra, ahol a szám áll!

tizenkettő: _____ tizennégy: _____

tizenöt: _____ húsz: _____

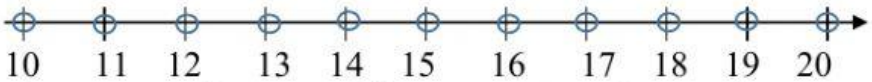

5. Végezd el a műveleteket! Írd be az eredményeket!

3	+	5	=					1	3	+	5	=					7	-	5	=					1	7	-	5	=		
4	+	3	=					1	4	+	3	=					9	-	6	=					1	9	-	6	=		
1	+	4	=					1	+	1	4	=					5	-	2	=					1	5	-	2	=		
6	+	2	=					6	+	1	2	=					8	-	8	=					1	8	-	8	=		

6. Tedd igazzá a nyitott mondatokat!

14+1 <◯ < 11 + 6 ◯ =_____

17-2 >△ > 18 - 6 △ =_____

LIVEWORKSHEETS

7. **Jól színeztem a kerítést? Döntsd el! Amelyik deszkát jól színeztem, kattints rá és így ki tudod pipálni!**

= 12 **= 14** **= 15** **= 11**

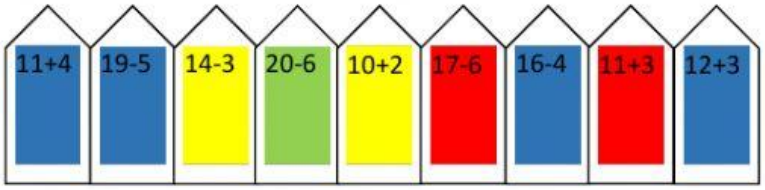

8. **Húzd a számokat a megfelelő halmazba!**

13 8 9 14 20

11 5 18 16

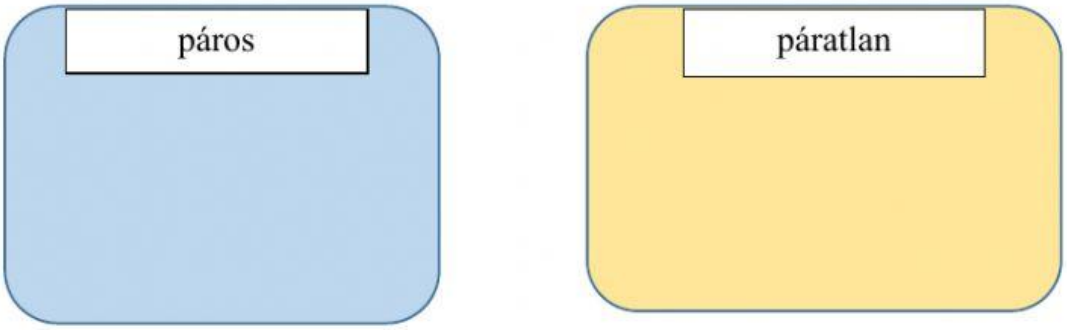

LIVEWORKSHEETS