LKPD

Ilmu Pengetahuan Alam

Tema: Bentuk dan Perubahan Energi

Nama: _____

Kelas: _____



LIVEWORKSHEETS

Bentuk-bentuk Energi

Hubungkan gambar di bawah ini dengan bentuk energi yang sesuai.





- Listrik
- Panas
- Gerak
- Bunyi
- Cahaya
- Kimia

LIVEWORKSHEETS

Energi yang Dihasilkan

Tulislah energi yang dihasilkan sesuai dengan benda di bawah ini.

Listrik dan Gerak

LIVEWORKSHEETS

Sumber Energi pada Bumi

Isilah tabel di bawah ini.

No.	Gambar	Sumber Energi	Fungsi
1.			
2.			
3.			
4.			
5.			
6.			
7.			

LIVEWORKSHEETS

SUMBER ENERGI

TEKA-TEKI SILANG

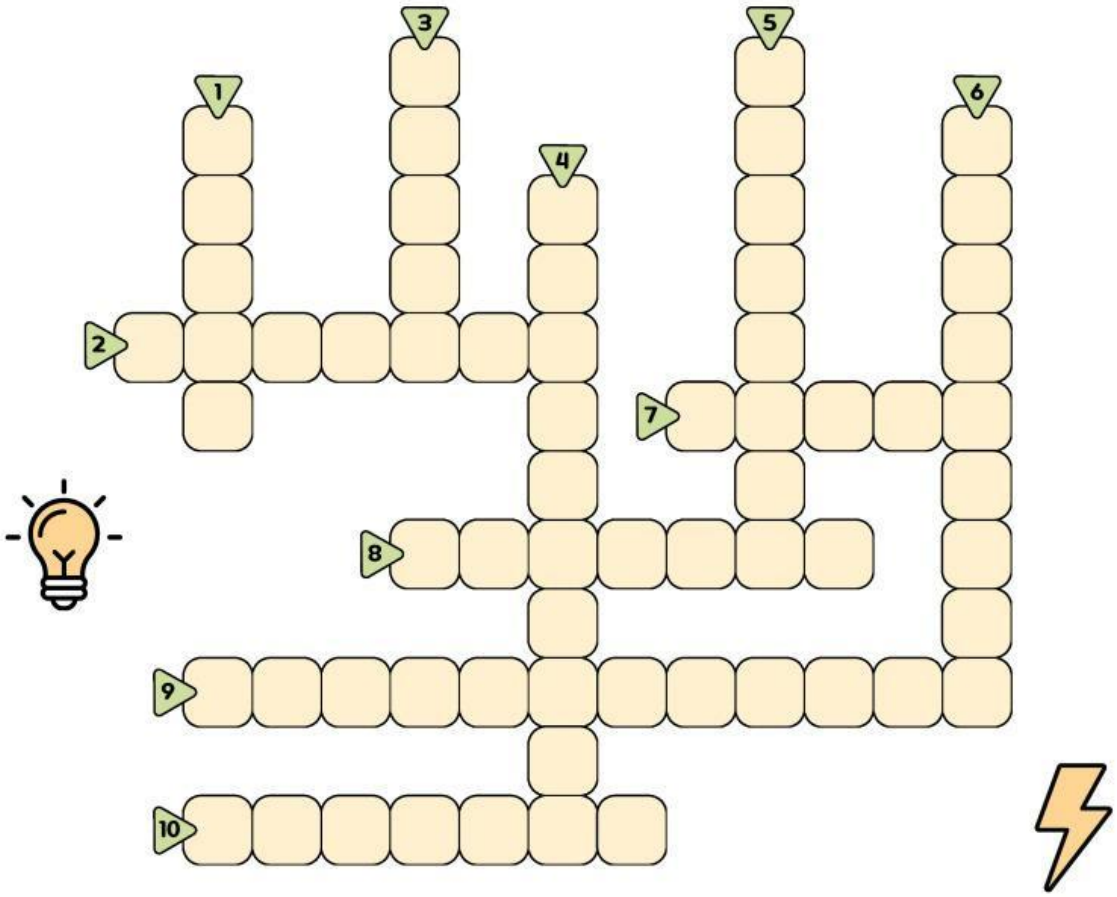

MENDATAR

2. Sumber energi bagi tubuh manusia.
7. Energi yang dihasilkan bahan bakar.
8. Energi yang dihasilkan baterai.
9. Benda yang dapat menghasilkan atau menyimpan energi.
10. Pemanfaatan energi panas.

MENURUN

1. Energi yang dihasilkan oleh aliran air.
3. Sumber energi gerak tidak terbatas.
4. Pemanfaatan sinar matahari untuk menghasilkan energi listrik.
5. Sumber energi terbesar di bumi.
6. Uap panas yang ada di dalam bumi.

LIVEWORKSHEETS