1. X pažymėk daiktus, kurių masė yra:

• mažesnė negu 3 kg;

• didesnė negu 10 kg.

2. Pavaizduotos svarstyklės yra pusiausviros. Apskaičiuok nežinomą dėžių masę.

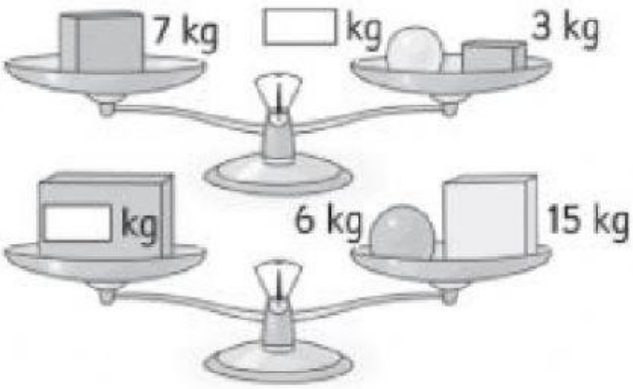

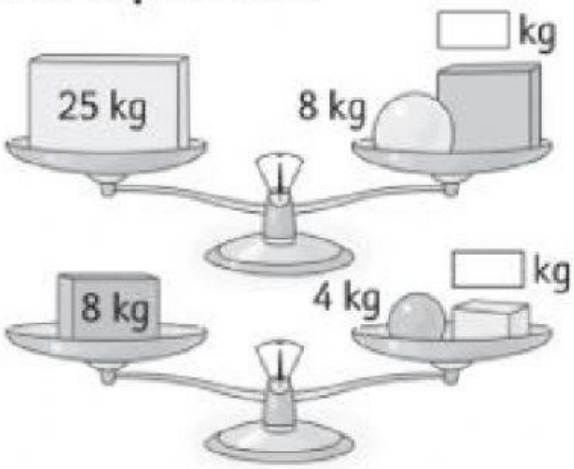

Keturi mandarinai pirmiausia buvo pasverti su žievelėmis, paskui jas nulupus. Remdamasis paveikslėliu į sakinius įrašyk tinkamus skaičius.

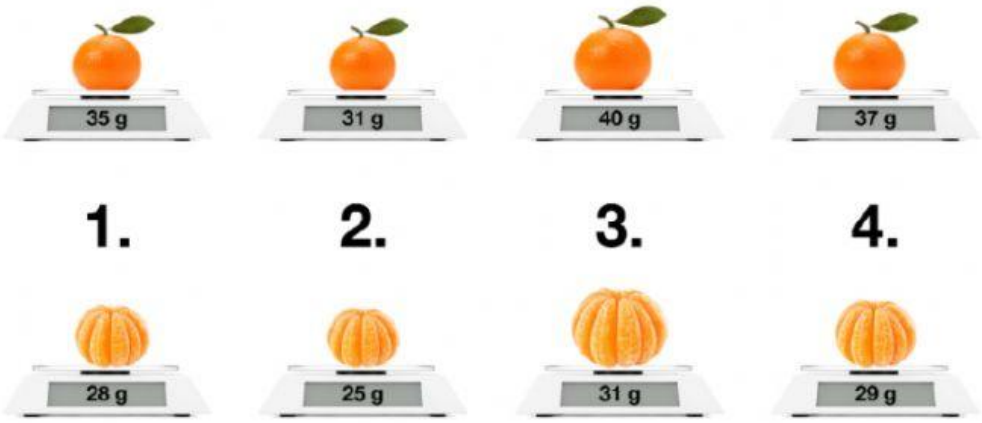

Pirmo mandarino žievelių masė yra ☐ gramai, antro – ☐ gramai, trečio – ☐ gramai, ketvirto – ☐ gramai.

Sunkiausio nulupto mandarino numeris yra ☐, o lengviausio – ☐. Trečias nuluptas mandarinas sunkesnis už pirmą nuluptą mandariną ☐ gramais.

LIVEWORKSHEETS

Suskaičiuok. Šalia atsakymo nurodyk matavimo vienetą.

29 kg + 17 kg =

56 g + 36 g =

68 kg – 49 kg =

81 g – 74 g =

Pavaizduotos svarstyklės rodo sveriamų daiktų masę gramais. Pasakyk, kas kiek sveria.

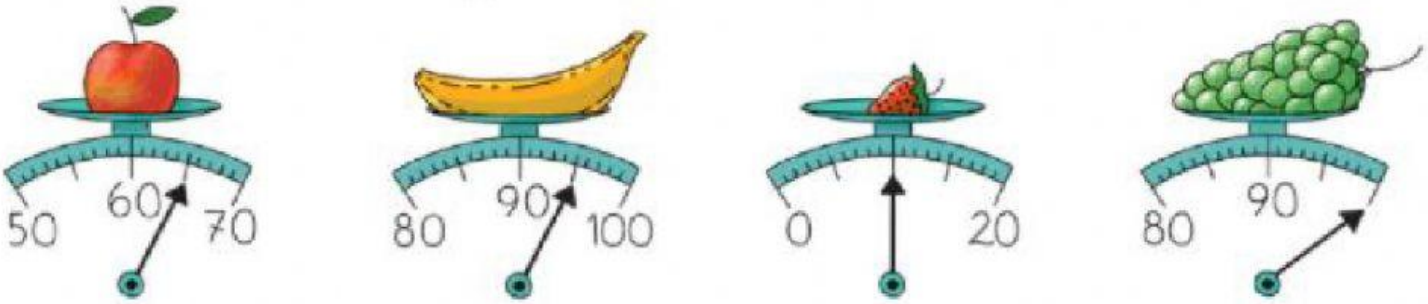

1. Kaip man sekėsi?
2. Ar buvo sunku?
3. Ar pasitikrinai klaidas?
4. Kaip gyveni?

LIVEWORKSHEETS