## PASOS PARA RESOLVER EL PROBLEMA.

1. Lee o escucha atentamente el problema

2. Busca la pregunta ¿? y subraya.

3. Busca los datos, subraya y escribe en el cuadro.

4. Piensa una estrategia: tacha o aumenta las barritas de las decenas y unidades.

5. Resuelve la operación no te olvides de poner el signo de la operación.

6. Escribe la respuesta.

LIVEWORKSHEETS

# Resuelve los problemas

1. Marco tiene en la refrigeradora 67 helados, esta semana se ha comido 32 helados. ¿Cuántos helados le sobran?

| Datos | Estrategia | Operación | respuesta |
|---|---|---|---|
| helados<br>comió | TACHO<br>  | 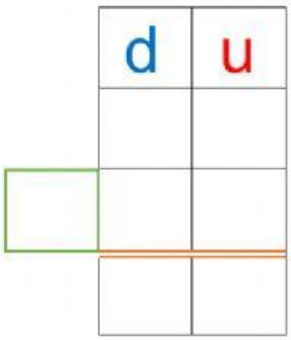 | Le sobran helados. |

LIVEWORKSHEETS

1. El árbol de navidad de Damián tiene 93 focos, si se han fundido (quemado) 83 focos. ¿Cuántas focos siguen funcionando?

| Datos | Estrategia | Operación | respuesta |
|---|---|---|---|
| focos<br>quemados | TACHO<br>  | d u | Sigue funcionando focos. |

LIVEWORKSHEETS

1. En una caja hay 75 libros, y en otra caja 13 libros. ¿Cuántos libros hay en total entre las 2 cajas?

| Datos | Estrategia | Operación | respuesta |
|---|---|---|---|
| caja de libros<br>otra caja | AUMENTO | d u | Hay libros entre las 2 cajas. |



LIVEWORKSHEETS

1. Sarita tiene 76 dólares. Le compra un collar a su mamá que le cuesta 41 dólares. ¿Cuántos dólares le sobran a Sarita?

| Datos | Estrategia | Operación | respuesta |
|---|---|---|---|
| ☐ dólares<br>☐ dólares costo del collar | TACHO<br>  | d u | A Sarita le sobran ☐ dólares. |

LIVEWORKSHEETS