متوسطة صبيا الأولى	حل المعادلات التي تتضمن قيمة مطلقة	(ورقة عمل تفاعلية)

الاسم:..... الصف/ الثالث متوسط ( )

السؤال الأول: أختر الإجابة الصحيحة:

- مجموعة حلول المعادلة التالية |٣ن − ٤| = −١

(a) ٢ (b) ٤، ٦ (c) ∅

- مجموعة حلول المعادلة التالية |ص + ٢| = ٤

(a) ٢ (b) −٦ (c) ٢، −٦

- مجموعة حلول المعادلة التالية |$\frac{١}{٢}$ س + ٥| = −٣

(a) ∅ (b) ١٦ (c) ٨

- 

المعادلة الممثلة له

(a) |س| = −٦ (b) س = ٦ (c) |س| = ٦

- 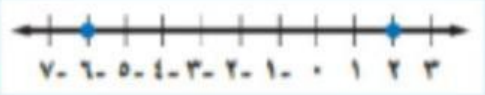

المعادلة الممثلة له

(a) |س| = ٢ (b) |س| = −٦ (c) |س + ٢| = ٤

السؤال الثاني أصل بين كل معادلة في A ومجموعة الحلول البيانية لها في B:

A	B
|−٣د + ٦| = ١٢	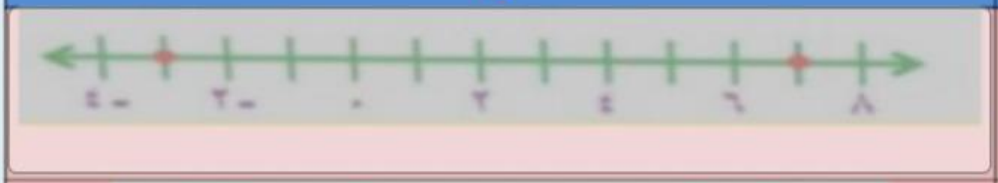
|−٢ص + ٦| = ٦	
|٤ق − ٨| = ٢٠	

LIVEWORKSHEETS