Chủ đề 2

PHÉP CỘNG, PHÉP TRỪ TRONG PHẠM VI 20

Bài 7

PHÉP CỘNG (qua 10) TRONG PHẠM VI 20

hoạt động

1 a) Tính 9 + 6.

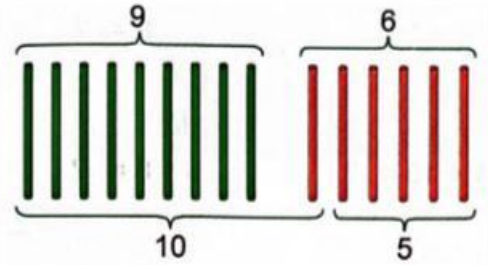

- Tách: 6 = 1 + 5
- 9 + ☐ = ☐
- 10 + ☐ = ☐

9 + 6 = ☐

b) Tính 8 + 6.

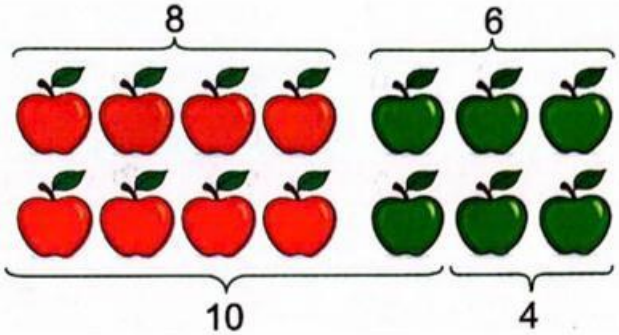

- Tách: 6 = 2 + ☐
- 8 + ☐ = ☐
- 10 + ☐ = ☐

8 + 6 = ☐

2 a) Tính 9 + 2.

Đếm tiếp: **9**, 10, ☐

9 + 2 = ☐

b)

Tính 9 + 3.

- Tách: 3 = 1 + 2
- 9 + ☐ = ☐
- 10 + ☐ = ☐

9 + 3 = ☐

Tính 9 + 7.

- Tách: 7 = ☐ + ☐
- 9 + ☐ = ☐
- 10 + ☐ = ☐

9 + 7 = ☐

c)

8 + 3 = ☐ 8 + 5 = ☐ 9 + 4 = ☐

LIVEWORKSHEETS

luyện tập

1 Tính 3 + 8.

- Cách 1: 3 + 8 = 10 + 1 = ☐ 3 + 8 = ☐

  7 1

- Cách 2: 3 + 8 = 1 + 10 = ☐ 3 + 8 = ☐

  1 2

2 Số ?

+	9	9	9	9	9	9	9	9
	2	3	4	5	6	7	8	9
	11	☐	☐	☐	☐	☐	☐	☐

3 Tính.

9 + 5 + 3 = ☐ 6 + 3 + 4 = ☐ 10 – 2 + 5 = ☐

4 Tìm cá cho mèo.



5 Số ?

☐ + ☐ = ☐

LIVEWORKSHEETS

Luyện tập

1 a) Tính 7 + 5.

7 + 5 = 10 + ☐ = ☐

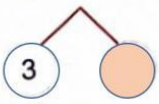

7 + 5 = ☐

b) Tính 7 + 6.

7 + 6 = 10 + ☐ = ☐

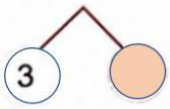

7 + 6 = ☐

2 a) Số ?

Số hạng	7	7	7	7	7	7
Số hạng	4	5	6	7	8	9
Tổng	11	☐	☐	☐	15	☐

b) Mai tách 14 que tính thành hai nhóm. Em hãy tìm số que tính ở nhóm 2 trong bảng sau:

Nhóm 1	Nhóm 2
10	4
9	☐
8	☐
7	☐

3 a) Tính 8 + 7.

8 + 7 = ☐

b) Tính 8 + 5.

8 + 5 = ☐

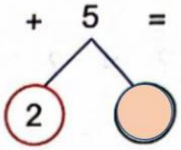

c) Tính 8 + 8.

8 + 8 = ☐

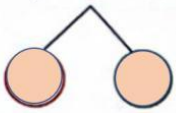

d) Tính 6 + 5.

6 + 5 = ☐

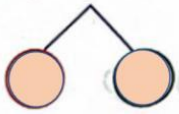

4 Số ?

+	8	8	8	8	8	8	8
	3	4	5	6	7	8	9
	11	☐	☐	☐	☐	16	☐

5 Để giúp đỡ các bạn học sinh ở vùng khó khăn, lớp em đã quyên góp được 8 thùng quần áo và 5 thùng sách vở. Hỏi cả quần áo và sách vở, lớp em đã quyên góp được bao nhiêu thùng?

LIVEWORKSHEETS

luyện tập

1 Số ?

a)

Số hạng	6	6	6	6	6	6
Số hạng	4	5	6	7	8	9
Tổng	10		12			

b)

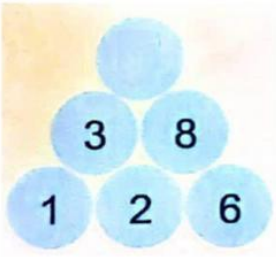

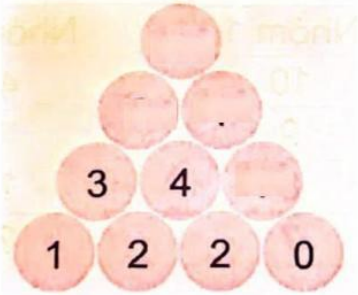

2 Số ?

a)



b)

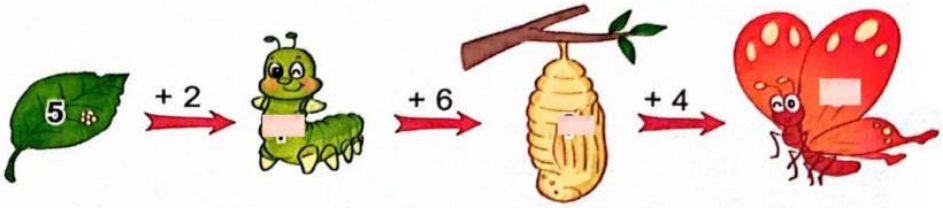

3 Tìm hai phép tính có cùng kết quả.



4 Đoàn tàu chở hàng có 4 toa đã ra khỏi đường hầm, còn 7 toa ở trong đường hầm. Hỏi đoàn tàu đó có tất cả bao nhiêu toa?



LIVEWORKSHEETS

luyện tập

1 Số ?

Số hạng	6	7	8	9	8	7
Số hạng	5	6	6	7	5	7
Tổng	11					

2 Bạn Sao hái những cây nấm ghi phép tính có kết quả bằng 12. Hỏi bạn Sao hái được bao nhiêu cây nấm?



Bạn Sao hái được ..... cái nấm.

3



a) Tính kết quả của các phép tính ghi ở bậc thang.

b) Những phép tính nào có kết quả bằng nhau?

☐ và ☐

4 Hai con xúc xắc nào dưới đây có tổng số chấm ở các mặt trên bằng 11?

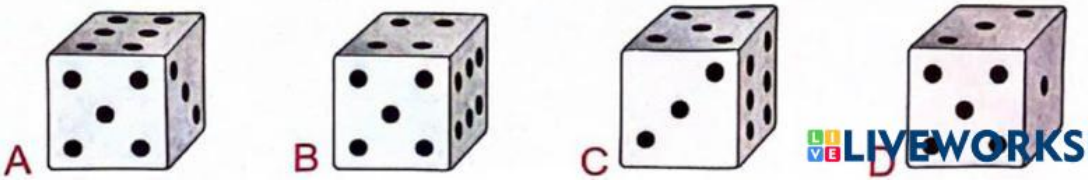

LIVEWORKSHEETS