INEB CHAMA GRANDE, Matemática 2do. Básico "Fracciones equivalentes"

Nombre: _____ Fecha: _____

Divide convirtiendo en decimal para obtener los pares de fracciones equivalentes y escribe que incisos son equivalen.

A) $\frac{3}{5}$, B) $\frac{6}{10}$, C) $\frac{7}{8}$, D) $\frac{14}{16}$,

_____ = _____ _____ = _____

Une con una línea las siguientes fracciones equivalentes según su dibujo.

$\frac{1}{2}$

$\frac{2}{3}$

$\frac{2}{4}$

$\frac{4}{6}$

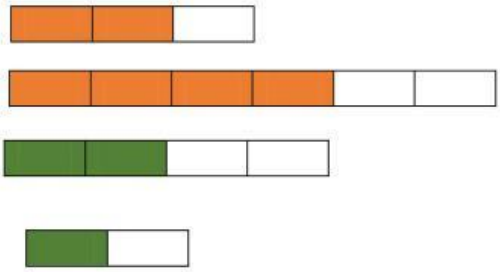

Encuentra tres fracciones equivalentes por medio del método amplificación.

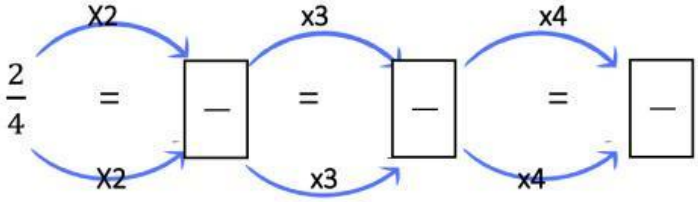

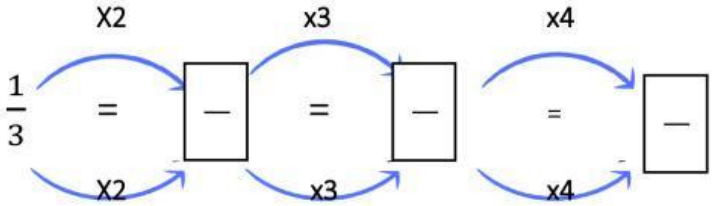

Encuentra fracciones equivalentes por medio del método simplificación.

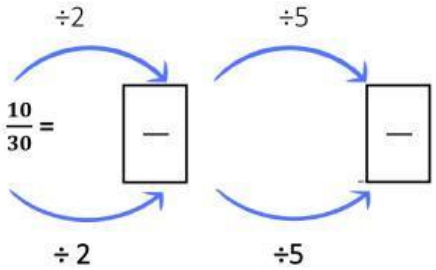

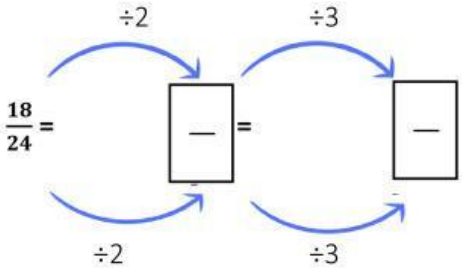

LIVEWORKSHEETS