PHẦN I. TRẮC NGHIỆM

Khoanh tròn vào chữ cái đặt trước câu trả lời đúng:

Câu 1. Số thích hợp điền vào chỗ chấm là:

60 tạ 4 yến = ... kg

A. 64 **B.** 604 **C.** 6 040 **D.** 6 400

Câu 2. Giá trị của chữ số 3 trong số 4 356 980 là:

A. 300 000 **B.** 3 **C.** 300

D. 3 000 000

Câu 3. Phân số bé nhất trong các phân số 25;34;1320;12 là:

A. 12 **B.** 34 **C.** 25 **D.** 1320

Câu 4. Điền số thích hợp điền vào chỗ chấm

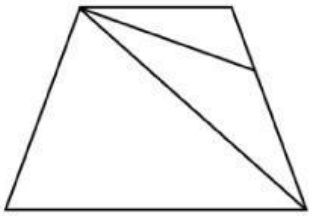

Hình vẽ trên có ..... góc tù.

A. 1

B. 2

C. 4

D. 3

LIVEWORKSHEETS

Câu 5. Giá trị của biểu thức $47\times(2+13)-13$ là:

A. 23

B. 13

C. 1

D. 53

Câu 6. Phân số 109100 viết dưới dạng hỗn số là:

A. 19100

B. 10910

C. 1910

D. 109100

Câu 7. Chu vi của một hình vuông bằng nửa chu vi của một hình chữ nhật có chiều dài là 12 cm, chiều rộng là 8 cm. Vậy diện tích của hình vuông đó là:

A. 96 cm^2

B. 100 cm^2

C. 50 cm^2

D. 25 cm^2

Câu 8. Cô Đào mang 100 quả trứng ra chợ bán. Lần thứ nhất, cô bán được 14 số trứng. Lần thứ hai, cô bán được 25 số trứng còn lại sau lần bán thứ nhất. Vậy sau hai lần bán, số trứng còn lại của cô Đào là:

A. 55 quả

B. 45 quả

C. 65 quả

D. 35 quả

LIVEWORKSHEETS

PHẦN II. TỰ LUẬN

Bài 1. Điền số, phân số thập phân hoặc hỗn số thích hợp vào chỗ chấm

a) 3 tháng = ... năm

b) 2 yến = ... tấn

c) 45 năm = ... thế kỉ

d) 230 m = ... km

e) 3 kg 230 g = ... kg

f) 25 giờ = ... phút

g) 1 tạ 9 kg = ... tạ

h) 9 giờ = ... phút

Bài 2.

a)

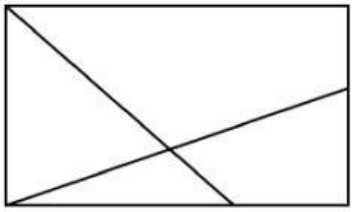

Hình vẽ trên có:

..... góc nhọn

..... góc vuông

..... góc tù

..... góc bẹt

b)

Kể tên các đoạn thẳng song song với nhau

.....

.....

Kể tên các đoạn thẳng vuông góc với nhau

.....

.....

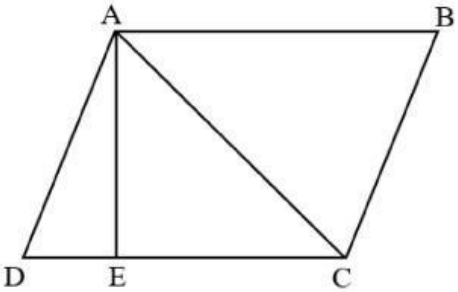

LIVEWORKSHEETS

Bài 3. Đặt tính rồi tính

210 354 + 497 451

.....

.....

.....

321 045 - 68 001

.....

.....

.....

147 469 × 27

.....

.....

.....

.....

.....

.....

156 234 : 45

.....

.....

.....

.....

.....

.....

LIVEWORKSHEETS

Bài 4. Một mảnh đất hình chữ nhật có chu vi bằng 44 m, chiều dài hơn chiều rộng 20 dm. Tính diện tích mảnh đất đó.

Bài giải

Bài 5. Tính bằng cách thuận tiện

a) $120 \times 25 + 120 \times 34 + 120 \times 1$

.....

.....

.....

.....

.....

b) $15 \times 34 + 15 \times 54 - 15$

.....

.....

.....

.....

.....

LIVEWORKSHEETS