NOME:

Data: _____/_____/_____

1- Observa a imagem e completa.

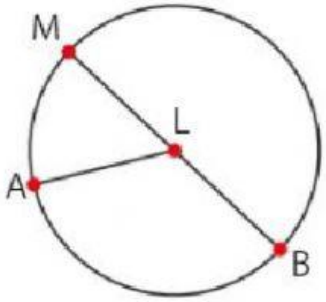

A letra **L** representa o _____ da circunferência.

O segmento **[AL]** representa um _____ da circunferência.

O segmento **[BM]** representa um _____ da circunferência.

2- Utilizando as letras da figura, indica:

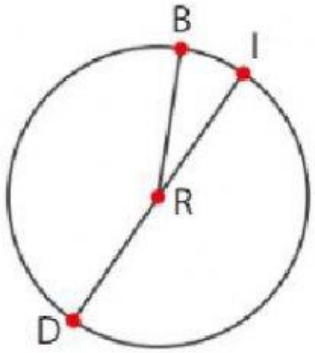

O centro da circunferência: _____

Um raio da circunferência: _____

Um diâmetro da circunferência: _____

LIVEWORKSHEETS

3- Calcula o diâmetro de cada uma das seguintes circunferências de acordo com as medidas indicadas.

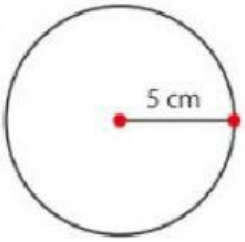

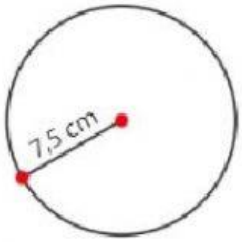

diâmetro = _____ cm

diâmetro = _____ cm

4- Calcula o raio de cada uma das circunferências de acordo com as medidas indicadas.

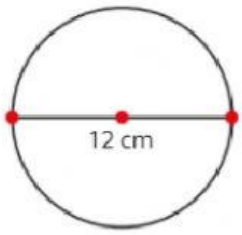

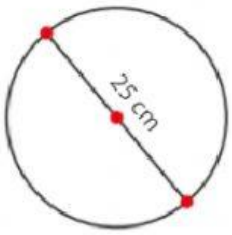

raio = _____ cm

raio = _____ cm

5- Qual é a relação que existe entre um raio e um diâmetro de uma circunferência?

_____

LIVEWORKSHEETS