TRƯỜNG TH NGUYỄN ĐỨC CẢNH Ngày thi ..../11/2021 ***Họ và tên*** ..... ***Lớp*** ..... ***SBD*** ..... ***Phòng thi***..... **Giám thị số 1** ..... **Giám thị số 2**	**BÀI KIỂM TRA THỬ CHẤT LƯỢNG HỌC KỲ I** ***NĂM HỌC 2021 – 2022*** ***Môn:*** **Toán lớp 1** ***Thời gian: 40 phút*** **Số phách**

Số phách

Điểm:

Giám khảo: .....

A. PHẦN TRẮC NGHIỆM (5 ĐIỂM)

Bài 1. (*1 điểm*) ***Số?***

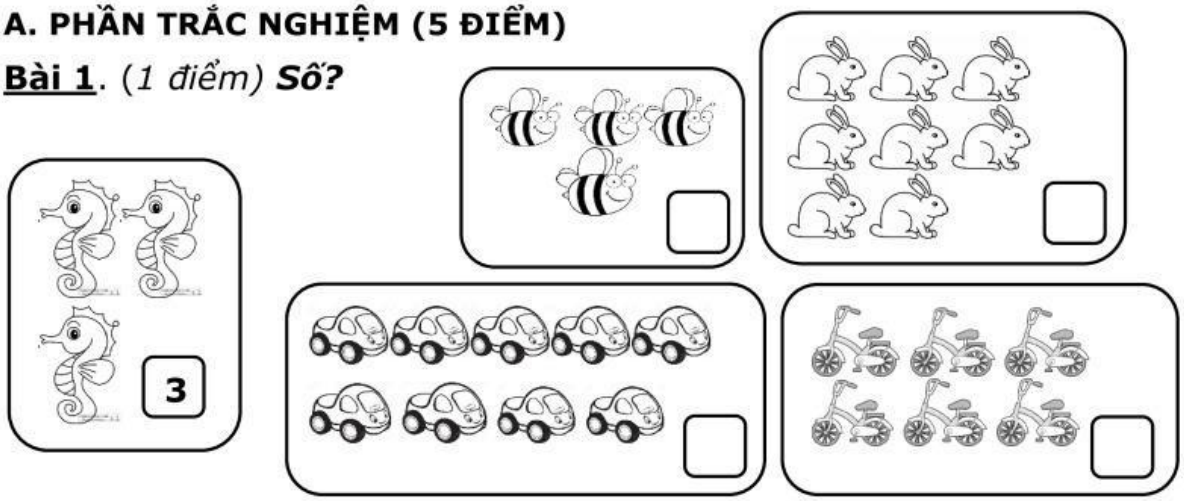

Bài 2. (*1 điểm*)

a) Tô màu cái mũ có ghi số bé nhất

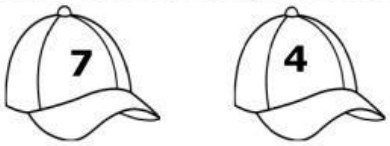

b) Tô màu quả bóng có ghi số lớn nhất

Bài 3. (*1 điểm*) ***Hình vẽ bên***

a) Có ..... hình tam giác

b) Có ..... hình tròn

c) Có ..... hình vuông

d) Có ..... hình chữ nhật

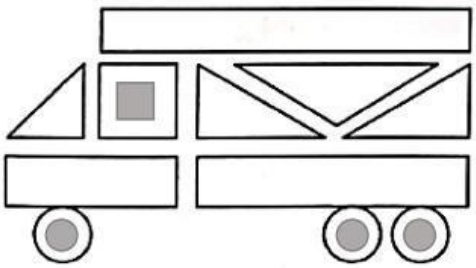

Bài 4. (*1 điểm*) ***Nối các phép tính có kết quả giống nhau***

10 - 3	10 - 9	5 + 5	6 - 0

6 - 5	8 - 2	7 + 3	9 - 2

LIVEWORKSHEETS

Không viết vào phần gạch chéo

Bài 5. *(1 điểm)* ***Khoanh vào đáp án đúng***.

Cho thêm bánh lên đĩa để:

a) Trên đĩa có 6 cái bánh

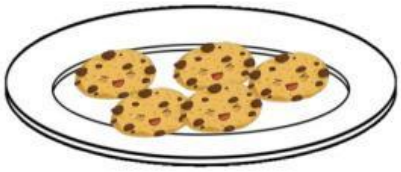

A. B.

b) Trên đĩa có 10 cái bánh



A. B.

B. PHẦN TỰ LUẬN (5 ĐIỂM)

Bài 6. *(2 điểm)* ***Tính***

8 + 2 = ...

10 - 5 = ...

10 - 6 - 4 = ...

5 + 5 – 7 = ...

Bài 7. *(2 điểm)* ***Viết phép tính thích hợp***



Bài 8: *(1 điểm)* ***Mỗi đồ vật có dạng hình gì? Hãy nối cho thích hợp***

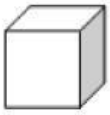

LIVEWORKSHEETS

LIVEWORKSHEETS