اختبار تفاعلي مادة الرياضيات للصف الخامس

الاسم: فضيلة طلال سالم الغدانية رقم الجامعي:19469429

أجب عن جميع الأسئلة:

1-حوط العدد الذي يزيد بـ 100 عن العدد 251 ؟

351 211 157 415

2- اكمل المتتالية:

[ ] , 7 , 10, [ ]

3- زاوج بين العملية في العمود الاول بما يناسبها في العمود الثاني

140+149
125+450

335
789
325

4- اكتب العلامة الصحيحة في كل مربع اختر من بين العلامات < , > , =

5×5 [ ] 4×1 3×1 [ ] 21×9

LIVEWORKSHEETS

5- ساعد فرح في الاجابة على السؤال الاتي:



المتتالية المعروضة على الشبكة تمثل

مضاعفات العدد .....

6- على سمية ان تكمل شبكة الضرب التالية .

حوط العدد الذي يجب أن تكتبه سمية في الشبكة :

10 15 20 25

٦	٣	×
٣٠		٥

7- الشكل المقابل لسجادة مربعة الشكل تتكون من مربعات صغيرة طول ضلع كل مربع 1.2سم.

تقول سعاد ان طول الضلع السجادة 5سم. فسر لماذا سعاد على خطأ مستعينا بالشبكة

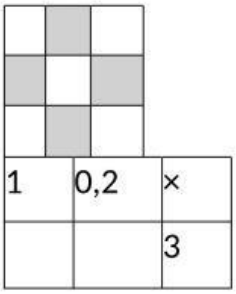

1	0,2	×
		3

8- أكمل: بالاستعانة بالمستطيل المقابل رقم الاضلاع التي تمثل ضلعين متعامدين .....،

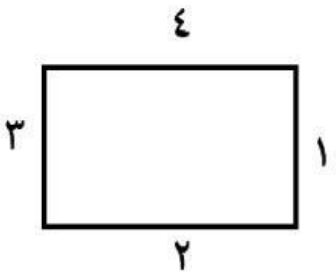

LIVEWORKSHEETS

9-أكمل: المجسم المقابل يسمى:

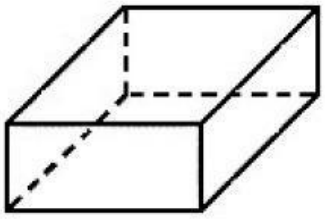

10-تقول نور أن هذا الشكل يمثل متوازي المستطيلات:

هل م تقوله صحيح؟

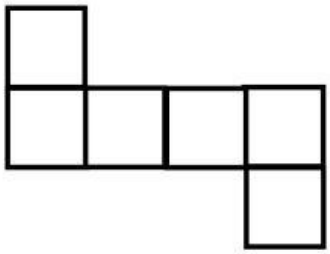

11- بالاستعانة بالشكل المقابل حوط على الانسحاب الذي حدث من المستطيل(أ) إلى المستطيل (ب)

3مربعات يمينا　　4مربعات يمينا

5مربعات يمينا　　6مربعات يمينا

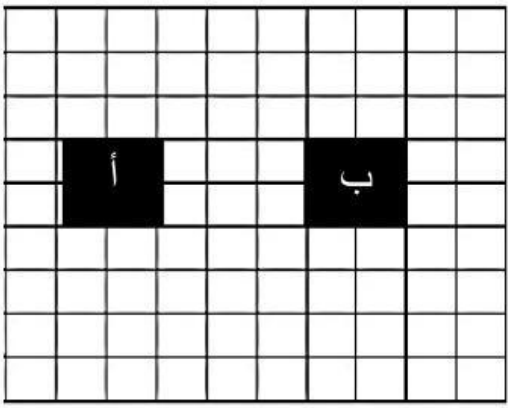

12-في الجدول التي ضع علامه صح في المربع الصحيح بجانب كل عبارة:

LIVEWORKSHEETS

العبارة	صح	خطأ
1(الخطان المتعامدان يكونان زاوية حادة		
2(حرف M يوجد به خطان متوازيان		

13- حوط العدد الذي تكون فيه القيمة المكانية للرقم 3 هي 300

63452 64253 64352 64532

14-أكمل لتكون العبارة صحيحة:

الزاوية القائمة قياسها=

15- أحسب ناتج العملية الحسابية التالية=

=35+25+65

LIVEWORKSHEETS