FPT Education

FPT SCHOOLS

Họ và tên: .....

Lớp : .....

TOÁN TƯ DUY

THỬ THÁCH 1

Mẹ của Mai đã nướng những chiếc bánh quy có dạng các số có một chữ số như hình vẽ. Hỏi mẹ đã nướng thiếu bánh số mấy?

A. 1 và 5 **B. 3 và 8** **C. 7 và 3** **D. 4 và 7**

THỬ THÁCH 2

Chồng gạch B nhiều hơn chồng A hơn bao nhiêu viên gạch?

A

B

A. 3 **B. 4** **C. 5** **D. 6**

LIVEWORKSHEETS

THỬ THÁCH 3

Ghi giờ đúng trong các đồng hồ dưới đây.

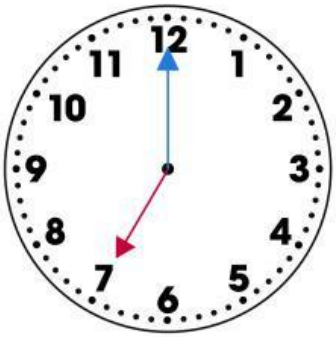

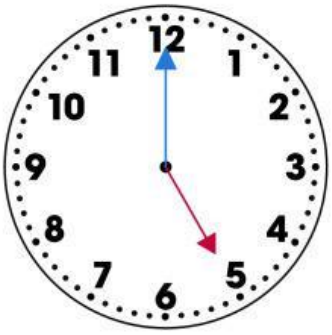

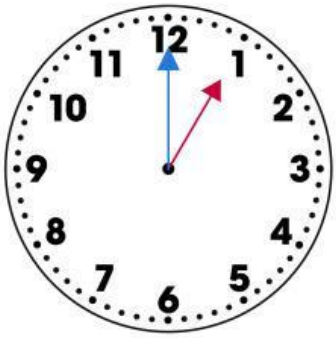

....

THỬ THÁCH 4

Nhìn hình và viết số thích hợp vào ô trống.

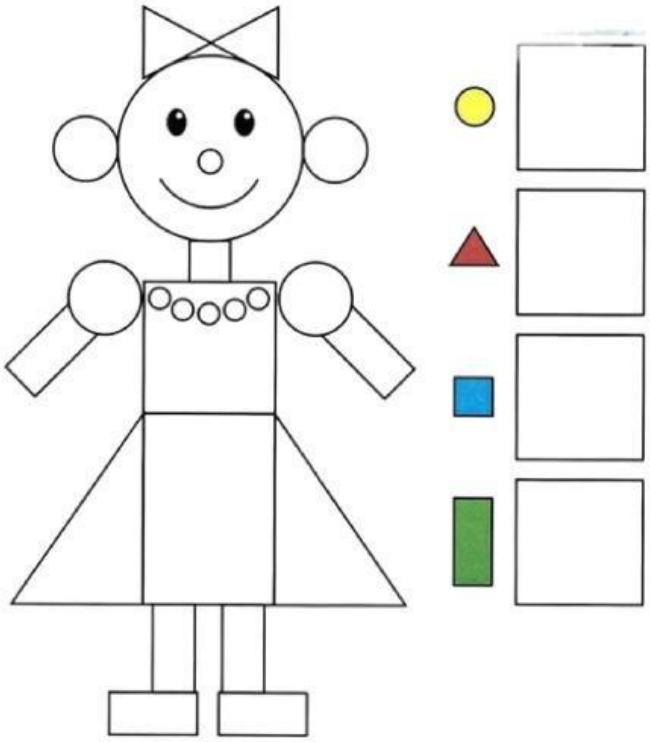

Tớ được: ☆☆☆☆☆

LIVEWORKSHEETS