إختبار قصير للصف الثاني في مادة الرياضيات

الاسم : شيماء يحيى قسور التوبي الرقم الجامعي : 18240158

اسم العبقري الصغير :

الصف:

السؤال الأول: (اختر الاجابة الصحيحة)



(أ) (ب)



(أ) (ب)

(أ) (ب)

(أ) (ب)

السؤال الثاني: (صنف الإعداد التالية إلى أعداد زوجية وأعداد فردية في الجدول وذلك بسحبها في مكانها الصحيح)

15 12 10 7

أعداد زوجية	أعداد فردية

السؤال الثالث: (صل كل شكل بالكسر الذي يمثله)

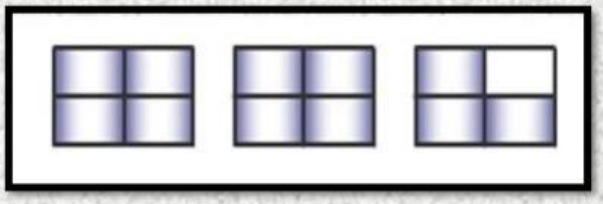

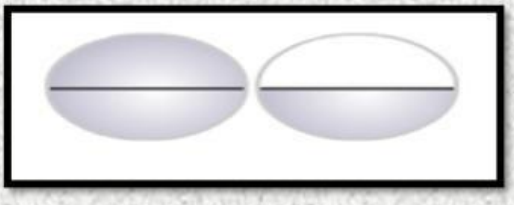

أ) (1/2)1

ب) (¾)2

LIVEWORKSHEETS

السؤال الرابع : (حل المسائل التالية)

1. مع نورة 5 تفاحات، وأعطتها أمها 3 تفاحات أخرى. كم تفاحة أصبحت معها؟

---

2. اشترى علي 12 قطعة حلوى ، وأعطى أخته 4 قطع. كم قطعه متبقيه لديه؟

السؤال الخامس :

رتب أحمد البطاقات التالية من الأصغر إلى الأكبر

اكتشف الخطأ الذي وقع فيه أحمد ؟

22 27 24 65 80

ثم اعيد ترتيب البطاقات بشكل صحيح

السؤال السادس : (نعم أم لا)

رسم سالم خطوط تماثل لكل من الاشكال الاتية

هل رسمه صحيح:

الشكل	نعم	لا
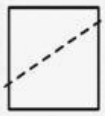		

LIVEWORKSHEETS

السؤال السابع :

اختر الاجابة الصحيحة من بين البدائل المعطاه

1. ضعف العدد 7 هو:
2. سعيد يعد (12-9-6-3) نوع العد هنا هو:
3. ناتج جمع 52+ 24=
4. باع سامي في اليوم الأول 36 كرتون برتقال وفي اليوم الثاني باع 25 كرتون . كم كرتون برتقال باع في اليومين؟

السؤال الثامن :

قم بقياس كلا من





LIVEWORKSHEETS

السؤال التاسع :

صل بين كل نمط والعدد المكمل للنمط

1) 5 , 10 , 15 , ____	أ) 8
2) 2 , 4 , 6 ، _____	ب) 20
3) 15 , 14 , 13 , _____	ت) 7
4) 1 , 3 , 5 , _____	ث) 12

السؤال العاشر :

ضع إشارة (>) أو (<) أو (=):

1) 18 – 3 ▭ 20

2) 15 ▭ 5+ 10

3) 12 ▭ 12

4) 4+7 ▭ 10

السؤال الحادي عشر :

اقرأ كل سؤال، ثم ضع الناتج في المكان المناسب في شبكة الكلمات المتقاطعة

1) تعتبر الاعداد التالية أعداد : _____
12, 6, 4 , 8

2) لدى سارة 6 أزهار إذا أضافت زهرة واحدة ، هل يصبح العدد زوجيا أم فرديا ؟ _____

3) لدى محمد 8 قطع حلوى ولدى سلوى 6 قطع . أيهما يمتلك أكثر قطع من الحلوى؟_____

4) مع علي 6 تفاحات ، وأكل منها 2 كم المتبقي لديه؟_____

م	ع	ت	أ	ة
ذ	ح	ر	و	ي
ص	ب	م	ن	ج
ع	س	خ	د	و
ي	د	ر	ف	ز

LIVEWORKSHEETS

السؤال الثاني عشر: (صح أم خطأ)

يقول يوسف أن المصفوفه الموضحة لعملية الضرب تمثل (2×3=6)

هل ما قاله يوسف صحيح ؟ نعم لا

السؤال الثالث عشر : (أكمل الجدول التالي يا بطل)

شكل المجسم	اسم المجسم	عدد الحواف	عدد الأوجه	عدد الرؤوس
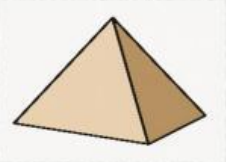				
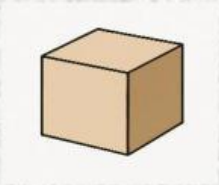				
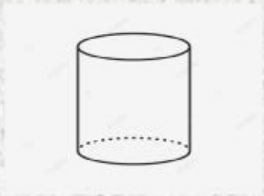				

LIVEWORKSHEETS

السؤال الرابع عشر:

من خلال السلسلة الآتية أجب عما يلي :

18	19	20	21	22

أ) العدد الاصغر في السلسلة العددية _____

ب) العدد الذي يقع بين العدد 20 و 22 هو _____

ت) الاعداد الزوجية في السلسله هي _____ , _____, _____

السؤال الخامس عشر:

هيا ي عبقري ادخل وحل اللعبه ، ومن ثم استمتع بمشاهدة الفيديو

LIVEWORKSHEETS