RANGKA MANUSIA

Perhatikan gambar rangka manusia. Hubungkan dengan nama tulang yang sesuai di kotak sebelah kanan!

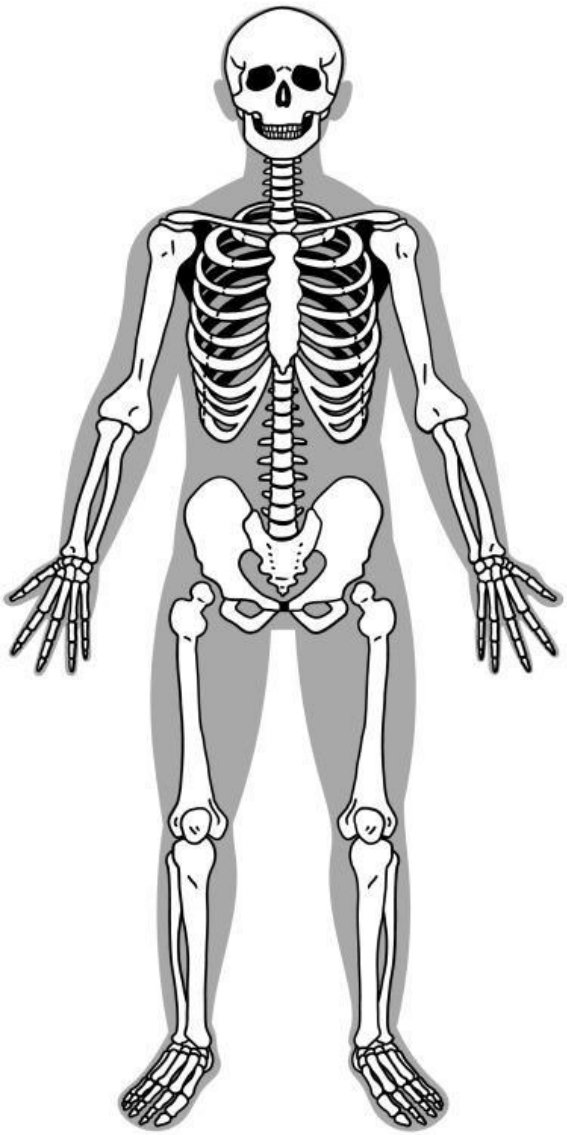

- Tulang Selangka
- Tulang Belikat
- Tulang Rusuk
- Tulang Tengkorak
- Tulang Rahang Bawah
- Tulang Kering
- Tulang Pengumpil
- Tulang Panggul
- Tulang Belakang
- Tulang Jari Kaki

LIVEWORKSHEETS

RANGKA TANGAN MANUSIA

Tentukan tulang-tulang yang terdapat dalam rangka tangan manusia dengan menarik garis lurus!

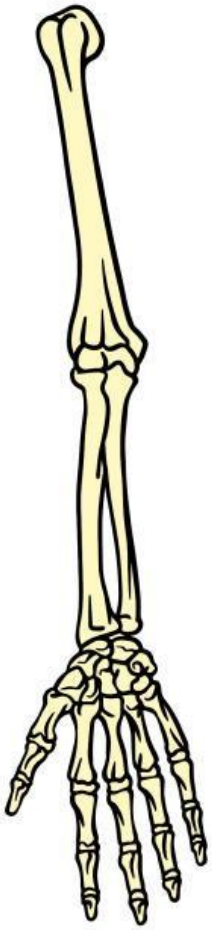

- Tulang Telapak Tangan
- Tulang Hasta
- Tulang Pergelangan Tangan
- Tulang Jari Tangan
- Tulang Lengan Atas
- Tulang Pengumpil

LIVEWORKSHEETS

Rangka Dada Manusia

Tentukan tulang-tulang yang terdapat dalam rangka dada manusia dengan menarik garis lurus!

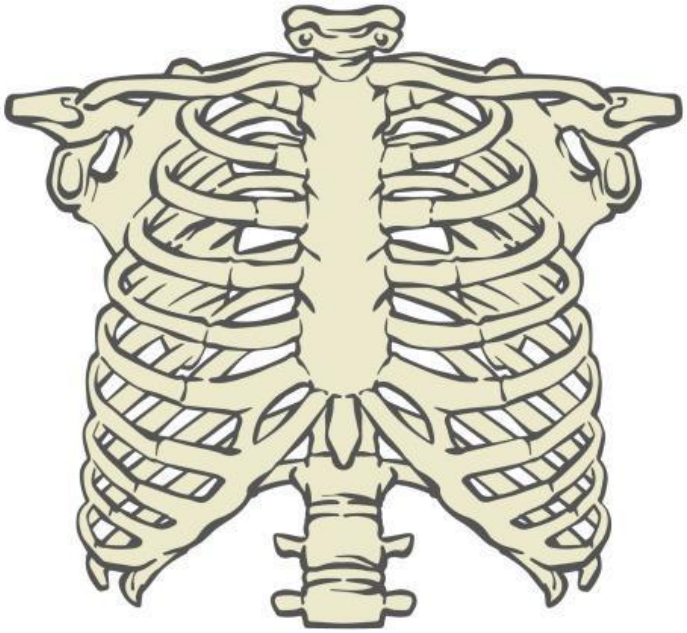

- Tulang Selangka
- Tulang Dada
- Tulang Belakang
- Tulang Leher
- Tulang Belikat
- Tulang Rusuk

LIVEWORKSHEETS

Tengkorak Manusia

Tentukan bagian-bagian tulang dalam gambar tengkorak manusia dengan menarik garis lurus!

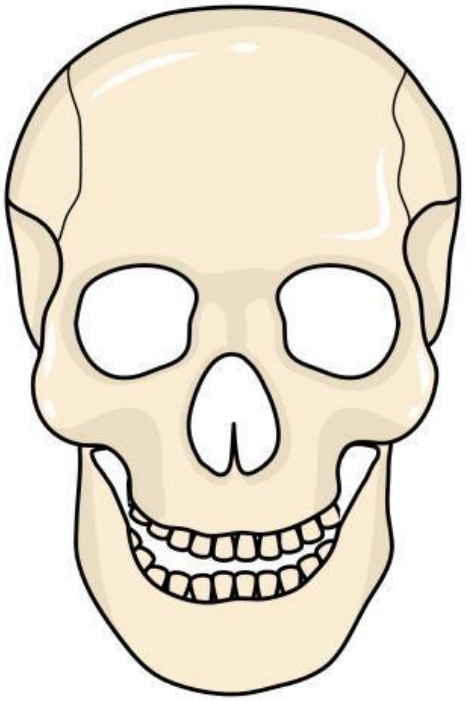

- Tulang Hidung
- Tulang Rahang Bawah
- Tulang Mata
- Tulang Rahang Atas
- Tulang Dahi

LIVEWORKSHEETS

Rangka Kaki Manusia

Tentukanlah tulang-tulang yang ada pada rangka kaki manusia dengan menarik garis lurus!

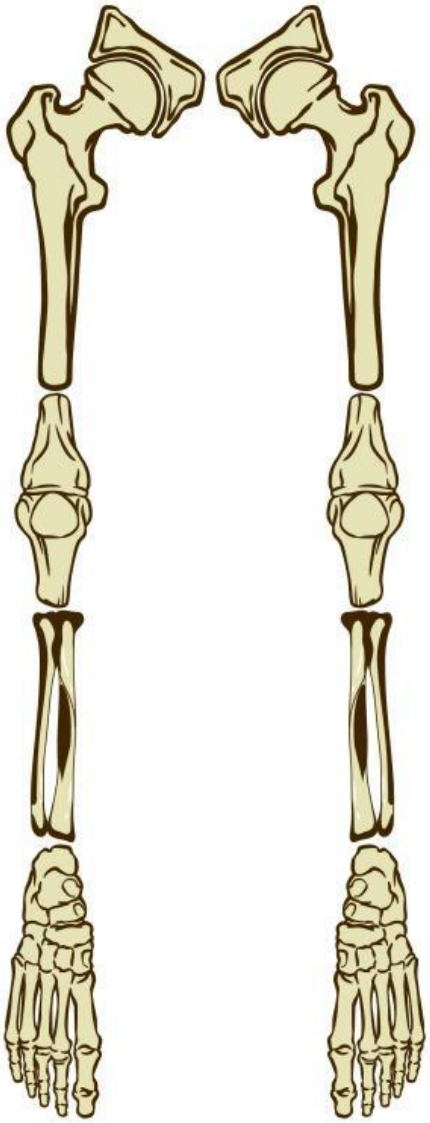

- Tulang Betis
- Tulang Tempurung Lutut
- Tulang Kering
- Tulang Pergelangan Kaki
- Tulang Paha
- Tulang Jari Kaki
- Tulang Telapak Kaki

LIVEWORKSHEETS