Aktivitas 1

Eco-Explorer: Jelajahi Dunia Mikro Partikel dan Dampaknya!

Perhatikan beberapa fenomena yang ada di bawah ini!

A

B

C

D

Jawablah beberapa pertanyaan berikut!

1. Perubahan wujud apakah yang terdapat pada fenomena a,b,c, dan d?

.....

.....

.....

.....

LIVEWORKSHEETS

Aktivitas 1

2. Mengapa polusi udara (gas) lebih cepat menyebar daripada tumpahan minyak (cair)?

.....
.....
.....
.....
.....

3. Perubahan wujud apa yang terjadi saat asap kendaraan bermotor dilepaskan ke udara?

.....
.....
.....
.....
.....

4. Berikan 1 solusi untuk mengurangi dampak disetiap fenomena tersebut!

.....
.....
.....

LIVEWORKSHEETS

Aktivitas 1

5. Cocokkanlah sketsa model partikel sebelum dan sesudah perubahan wujud pada fenomena C!



Sebelum

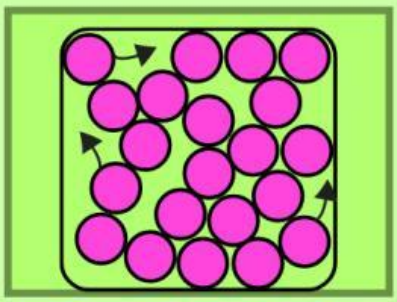

Sesudah

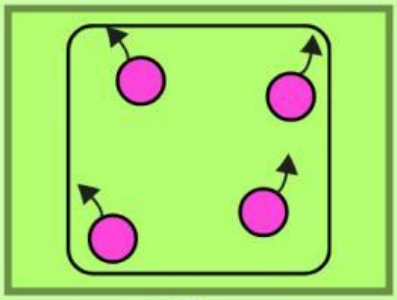

Jenis Perubahan yang terjadi

Problem Finding

LIVEWORKSHEETS