ชื่อ-นามสกุล .....ชั้น..... เลขที่.....

คะแนนที่ได้

แบบฝึกหัด เรื่อง การปรับตัวของสิ่งมีชีวิต

คำชี้แจง : ให้นักเรียนบอกการปรับโครงสร้างและลักษณะร่างกายของสิ่งมีชีวิต เพื่อให้เหมาะสมกับการดำรงชีวิตในแหล่งที่อยู่ของสิ่งมีชีวิตต่อไปนี้ พร้อมทั้งระบายสีรูปภาพให้สวยงาม

1.



ต้นกระบองเพชร

- แหล่งที่อยู่ของสิ่งมีชีวิต คือ

  .....

- การปรับโครงสร้างและลักษณะร่างกายของสิ่งมีชีวิต

.....

.....

2.

ตั๊กแตนใบไม้

- แหล่งที่อยู่ของสิ่งมีชีวิต คือ

  .....

- การปรับโครงสร้างและลักษณะร่างกายของสิ่งมีชีวิต

.....

.....

3.

ต้นโกงกาง

- แหล่งที่อยู่ของสิ่งมีชีวิต คือ

  .....

- การปรับโครงสร้างและลักษณะร่างกายของสิ่งมีชีวิต

.....

.....

LIVEWORKSHEETS

4.



แมวน้ำ

- แหล่งที่อยู่ของสิ่งมีชีวิต คือ

.....

- การปรับโครงสร้างและลักษณะร่างกายของสิ่งมีชีวิต

.....

.....

5.



ปลา

- แหล่งที่อยู่ของสิ่งมีชีวิต คือ

.....

- การปรับโครงสร้างและลักษณะร่างกายของสิ่งมีชีวิต

.....

.....

6.



เป็ด

- แหล่งที่อยู่ของสิ่งมีชีวิต คือ

.....

- การปรับโครงสร้างและลักษณะร่างกายของสิ่งมีชีวิต

.....

.....

7.



อูฐ

- แหล่งที่อยู่ของสิ่งมีชีวิต คือ

.....

- การปรับโครงสร้างและลักษณะร่างกายของสิ่งมีชีวิต

.....

.....

LIVEWORKSHEETS